910
G236lI
1831

0-2-10
2

Ida Ferrari



910
G236lI
1831
Rare Book & Special
Collections Library

LEZIONI
DI
GEOGRAFIA
DELL' ABBATE
GAULTIER
TRADOTTE
SULLA XVII EDIZ. FRANC. DEL 1820
CORRETTA ACCURATAMENTE DALL' AUTORE

Coll' Aggiunta

DI TUTTE QUELLE COGNIZIONI CHE PONNO VALERE A DARE UN RAGGUAGLIO PIU' MINUTO SULL' ITALIA E SULL' IMPERO D' AUSTRIA, E DI UNA TAVOLA INDICANTE LA POPOLAZIONE DI TUTTE LE PARTI DEL MONDO E DEGLI STATI E PRINCIPALI CITTA' DELL' EUROPA

TERZA EDIZIONE RIVEDUTA E CORRETTA

MILANO
PRESSO RANIERI FANFANI
1831

28 J 1/38 M. BERTON
910
G236bT
1831

Prefazione dell' Autore.

Lo studio della geografia è stato sino ad ora altrettanto faticoso che di poco frutto per la maggior parte de' fanciulli: una quantità infinita di nomi tecnici di cui si sono sopraccaricate le loro tenere menti, nessun esercizio sulla carta, e la trascuranza di far loro ben capire le lezioni che avevan avute con una pronta e ragionata applicazione: ecco il metodo con cui sono stati fin qui istruiti. Pare che noi abbiam riparato a tutti questi inconvenienti col metodo da noi adottato.

Siccome l' esperienza c' insegna che restano più facilmente impresse nella nostra mente le cose che rappresentate vengono al nostro spirito ed alla nostra immaginazione in una sola classe, o per meglio dire in un sol quadro di idee analoghe, così noi, attenendoci al metodo dell' analisi, riuniamo in una sola lezione la denominazione dei differenti oggetti geografici della stessa specie, per esempio, tutti i paesi, i mari, le isole, i fiumi, le montagne, ecc. che si ritrovano in una sola carta.

903489

Per facilitar poi ai ragazzi il modo di saper ritrovare prontamente i vari luoghi della terra, presentiamo ad essi delle carte emblematiche, ove si trovano indicati soltanto i contorni delle province, delle isole, dei capi, delle città e di altre situazioni del globo le più meritevoli d' osservazione, senza che sui detti contorni sia scritto il nome di alcuno di questi luoghi. Alla fine di ogni lezione si fa ripetere ai fanciulli sopra la carta emblematica tutto ciò che hanno imparato sulla carta scritta: la maniera con cui vien fatto questo esercizio, dà ad esso l' apparenza di un giuoco piuttosto che quella di una lezione. Con questo metodo piacevole proponiamo ai fanciulli di sciogliere una quantità di problemi sulla rispettiva posizione delle città tra di loro; sulla loro origine, sopra fatti rimarchevoli in esse accaduti, sulla rispettiva posizione di queste stesse città riguardo al sole, ai climi ed alle stagioni. In questo esercizio gli allievi si orizzontano continuamente, si trasportano direttamente da un sito all' altro, indicando tutti i luoghi che si trovano framnezzo a questi paesi, fanno insomma in tal modo prova delle varie cognizioni geografiche da loro acquistate.

L' esperienza e l' esito fortunato che il nostro metodo da molti anni incontra in diversi paesi d' Europa bastano per provarne i vantaggi. Ecco il modo con cui un attento istitutore potrà farne uso co' suoi allievi, divertendoli nello stesso tempo:

Esercizio sopra la nomenclatura geografica.

I. L' istitutore si mette in capo del tavolo; i suoi allievi gli stanno in parte dirimpetto, in parte dai lati.

II. Egli stende sulla tavola la carta di quella parte del globo su cui li vuol istruire: sarà, per esempio, la carta n.° I dell' Europa, ecc.

III. Procura che i suoi scolari si orizzontino, e che i punti cardinali della carta corrispondano a quelli dell' orizzonte reale.

IV. Ei tiene avanti di lui un cesto di marche, e ne dà otto o dieci a ciascuno scolaro.

V. Ripone in un sacco particolare i bullettini d' indicazione nominali relativi alla lezione già stata spiegata ai fanciulli sulla quale vuol esercitarli.

VI. L' istitutore avrà pure sempre presso di sè le nostre Lezioni di Geografia per osservarle, occorrendo qualche dubbio.

VII. Egli fa tirar a sorte un bullettino da uno degli scolari, il quale lo leggerà ad alta voce.

VIII. Il maestro, vedendo cosa indica il bullettino, osserverà nelle nostre Lezioni di Geografia il paragrafo che gli corrisponde; ed interrogherà lo scolaro su le domande che vi si contengono; per esempio, pel bullettino n.° 8, *Pietroburgo*, il maestro: *Cos' è Pietroburgo?* Lo scolaro: *È la capitale della Russia.* Il mae-

stro : *Cos' è la Russia* ? Lo scolaro : *Ell' è uno dei sedici Stati d' Europa, ed uno de' quattro che si trovano a settentrione.*

IX. Se lo scolaro risponde bene, e che indichi nello stesso tempo sopra la carta i luoghi nominati, l' istitutore gli dà il numero di marche che è fissato alla fine di ogni risposta.

X. Se al contrario lo scolaro s' inganna o dando la spiegazione del bullettino d' indicazioni nominali o mostrando sopra la carta i luoghi indicati, verrà corretto dal suo vicino a diritta, al quale ei darà una marca.

XI. Se il correttore falla egli pure, sarà corretto dal suo vicino, al quale si daranno due marche, e così di seguito.

XII. Se accade che tutti gli scolari fallino, vengono multati dal maestro, il quale col mezzo delle Lezioni di Geografia fa loro conoscere l' errore, e si fa dare una marca da ciascuno.

XIII. Dopo che il primo allievo avrà in tal modo data la spiegazione del suo bullettino, un secondo, un terzo, un quarto, ecc. ne tireranno degli altri a sorte, e li spiegheranno nella stessa guisa.

XIV. Quando il primo giro è finito se ne ricomincia un secondo e fino a che il maestro crede di dover far cessare l' esercizio.

XV. Alla fine di ciascun esercizio gli scolari numerano le loro marche. Quello che ne avrà guadagnate di più sarà proclamato *Presidente*,

e quello che ne avrà di più dopo il primo sarà nominato *Vicepresidente*: tutti e due nel successivo esercizio avranno il diritto di sedere uno a dritta, l'altro a sinistra del maestro, e faranno le sue veci tutte le volte che ovrà assentarsi nel tempo della scuola.

XVI. Andando avanti pei successivi esercizi, il maestro lascerà nel sacco i bullettini delle lezioni precedenti, e vi aggiugnerà quelli che hanno relazione colla nuova lezione.

XVII. Quando il numero dei bullettini che si trovano nel sacco fosse troppo grande, e che non si potessero spiegare in una sola lezione, il maestro li dividerà in diversi esercizi; ed a quest' oggetto terrà un sacco vuoto ove metterà quelli che saranno stati spiegati.

Esercizi su le particolarità geografiche.

I. Tutti gli scolari una volta per uno sfidano i loro compagni a propor loro delle domande sulla geografia, su i *punti cardinali* o sopra la *relativa posizione* dei luoghi tra di loro, dimandano ad essi, dopo aver osservata la carta geografica, quale dei due indicati luoghi sia posto più verso il settentrione, o il mezzogiorno, o il levante, o il ponente; quale è il più vicino, o il più lontano da un altro luogo.

II. In tal modo, supponiamo per esempio, che uno d'essi allievi abbia estratto il bullettino

n.° 15 (*Praga*); gli altri, fissando che questa città debba esser l' oggetto del paragone, potranno fargli le seguenti interrogazioni:

Di Parigi e Praga, quale di queste due città sta più a mezzogiorno? (Parigi).

Praga è ella più vicina a Vienna o a Presburgo? (A Vienna).

Qual è il lago d'Europa che sia più lontano da Praga? (Onega).

III. Se l' allievo interrogato risponde bene, guadagna una marca; se egli falla, si dà la marca a quello che lo avrà corretto, o a quello che avrà fatta la dimanda, e saputo darne la spiegazione sulla carta.

IV. Questo esercizio sarà più istruttivo quando gli scolari si faranno delle dimande risguardanti la storia o la sfera, come quelle da noi esposte nella seconda e terza parte di quest' opera. Esempi:

Storia favolosa. *Come chiamasi ora quello Stato altre volte denominato Colchide, tanto famoso per la spedizione degli Argonauti e la nascita di Medea?* (La Turchia in Asia all' est).

Storia santa. *Qual è la montagna ove Mosè ricevette la legge che diede agl' Israeliti?* (Il Monte Sinai).

Storia antica. *Qual è la città resa celebre dalla vittoria che Ottavio ed Antonio riportarono su Bruto e Cassio 42 anni prima di Gesù Cristo?* (Filippi).

Storia moderna. *Qual è la città ove Francesco I e Carlo V si abboccarono nel* 1538? (Aigues-mortes).

Per la sfera, si dimanderà, per esempio:

1.° *Quali sono le montagne i di cui abitanti sono antieci di quelli dell'isola di S. Elena?* (Le Montagne della Sierra Leona).

2.° *Qual è l'isola i di cui abitanti sono perieci di quelli dell'imboccatura del fiume Lena?* (L'Isola di James).

3.° *Qual è il lago i cui abitanti sono antipodi di quelli della parte meridionale della Patagonia?* (Il Lago Baïkal).

L'allievo che risponde a queste interrogazioni guadagna dieci marche; ma se falla le dieci marche si danno a chi ha fatta la dimanda.

Il pubblico aggradirà forse che gli mettiamo sott'occhio un piano di un giardino geografico di cui abbiamo già data un'idea ai nostri amici, che consiste, nel disegnare, su di un pezzo di terra piano, e di una certa estensione, i contorni del globo, dell'emisfero, d'un regno, o d'una provincia, indicandovi le città, i luoghi più degni di osservazione con de' bullettini attaccati a dei pezzi di legno.

Si ordina a ciascuno degli scolari di andar ad occupare un posto differente in questo pezzo di terra: in tal modo uno parte per la China, l'altro per l'Italia, un terzo per lo stretto di Magellano, il quarto per una città, un mare, un capo, un golfo, ecc. L'allievo che

si sarà messo ben a posto, quando i suoi compagni andranno in giro, guadagnerà una marca; quello che non si troverà nel luogo in cui gli sarà stato indicato d'andare sarà multato.

Noi pensiamo che non si deve trascurar nessun mezzo onde offrire ai fanciulli il modo di studiare sotto l'apparenza di un esercizio intieramente piacevole; l'esperienza c'insegna che questo è il solo mezzo di risvegliare il loro zelo, di animare il loro coraggio, e di mantenere la loro attenzione. « L'ozio, come « dice La Bruyère, l'indolenza, la mollezza, « vizi così comuni ai ragazzi, si possono in « essi correggere, quando sono attivi, vivaci, « laboriosi ed amanti delle regole e della sim- « metria, quando non si perdonino alcun er- « rore tra di loro, e siano disposti a rico- « minciare più volte una cosa che non sia « loro ben riuscita. »

PRINCIPALI TERMINI
DELLA GEOGRAFIA
E DIVISIONI DELLA TERRA

Il Maestro. *Cos'è la geografia?*

Lo Scolaro. La geografia è una scienza che insegna il nome e la situazione dei diversi paesi della terra.

Cosa significa la parola geografia? Essa è composta di due parole greche *geo*, terra, e *grapho*, descrivo, e significa *descrizione della terra.*

Quali sono i termini più necessari ed i più comuni nella geografia? Sono i punti cardinali, i continenti, le parti del mondo, gli Stati, i laghi, le catene di montagne, i vulcani, fiumi, ecc.

Quali sono i quattro punti cardinali? Sono il levante, il ponente, il nord ed il mezzogiorno.

Hanno essi altri nomi? Il levante si chiama anche *est* o *oriente*, il ponente *ouest* o *occidente*, il nord *settentrione*, ed il mezzogiorno *sud;* il nord si chiama anche qualche volta *polo artico*, ed il mezzogiorno *polo antartico.*

Cosa è il levante? Egli è il luogo donde sorge il sole.

Cos'è il ponente? Questa è la parte ove il sole tramonta, e che è all'opposto del levante.

Cosa è il nord? Questa è quella parte che noi abbiam davanti ai nostri occhi quando il levante ci sta a dritta, ed il ponente a sinistra.

Il mezzogiorno non è egli distante tanto dal levante quanto dal ponente? Sì, egli è opposto al nord.

Qual è il luogo in cui ordinariamente in una carta geografica sono segnati i quattro punti cardinali? In una carta regolare il levante è alla diritta di quello che la guarda, il ponente a sinistra, il nord al di sopra della carta, ed il mezzogiorno al di sotto.

Per accertarsi che il ragazzo ha ben inteso cosa siano i quattro punti cardinali, bisognerebbe dargli i seguenti quesiti: *Volgetevi verso il nord, e ditemi qual è il punto che avete alla vostra dritta?* — Il levante. — *Alla sinistra?* — Il ponente. — *Volgetevi verso il mezzogiorno; qual è il punto che avete alla vostra sinistra?* — Il levante. — *Alla dritta?* — Il ponente. — *E didietro?* — Il nord, ecc. Si farà lo stesso esercizio davanti il sole a levante o a ponente.

I quattro punti che si trovano in egual distanza dai quattro punti cardinali vengono chiamati con un nome composto di tutti questi, cioè: nord-est, nord-ouest, sud-est, sud-ouest.

Cosa s'intende per continente o terra ferma? Si chiama continente o terra ferma la più grande estensione di terra che si può girare senza passar il mare.

Quali sono le quattro parti del mondo o della terra? Queste sono, l'Europa, l'Asia, l'Affrica, e l'America, che si trovano nella posizione, una rispettivamente all'altra come si vede qui sotto.

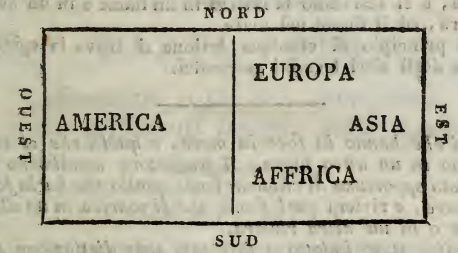

Affinchè i ragazzi si esercitino a conoscere senza potersi ingannare la posizione delle quattro parti del mondo ed i quattro punti cardinali, mettete una marca su ciascuno di questi punti, e ciascuna di queste parti. Allora voi fisserete co' vostri allievi che se prenderanno tosto la marca che starà sopra quel punto cardinale, o su quella parte del mondo che a voi piacerà d'indicare, guadagneranno quella stessa marca; se al contrario tituberanno, e lascieranno a voi stesso il tempo di levarla, o se per errore, prenderanno la marca del mezzodì in vece di quella del nord, o quella dell'Asia in vece di quella dell'Affrica, saranno multati.

NOTA

La diritta di un fiume o di una riviera (1) è la parte

(1) *Abbenchè fino a questo momento da valenti geografi italiani non siasi fatta distinzione di nomi tra i*

diritta di una persona, che navigando su quel fiume ha la faccia volta verso la corrente dell'acqua; la sinistra del fiume, è in conseguenza la sinistra della stessa persona; così la città di Torino sta sulla sinistra del Po, e quella di Piacenza sulla diritta.

L'imboccatura d'un fiume o il confluente d'una riviera è il luogo ove o l'una o l'altra perdono il loro nome, e si scaricano la riviera in un fiume o in un'altra riviera, ed il fiume nel mare.

Al principio di ciascuna lezione si trova la spiegazione degli altri termini geografici.

---

fiumi che hanno la foce in mare, e quelli che si scaricano in un altro fiume, il traduttore nondimeno ha creduto opportuno di chiamar fiume *quello che ha la foce in mare, e* riviera *quel fiume che si scarica in un altro fiume o in un' altra riviera.*

Egli è stato indotto a fare una tale distinzione per seguire il metodo de' geografi francesi, e particolarmente quello del signor Gaultier.

Questa considerazione gli eviterà, spera egli, la taccia d' innovatore, e si avrà anche per iscusato di avere dovuto adottare un vocabolo che presso i puristi sarà tenuto per un gallicismo. (*N. del T.*)

LEZIONI
DI
GEOGRAFIA

PARTE PRIMA

Esercizio sulla denominazione de' differenti luoghi della terra.

SEZIONE I.
GEOGRAFIA DELL' EUROPA

LEZIONE I.
STATI DELL' EUROPA

(Uno Stato è una grande estensione di terra che contiene una o più nazioni soggette ad un solo e medesimo governo).

1. *In quanti Stati si divide l'Europa?* In sedici, quattro dei quali sono al nord, otto nel centro, e quattro al mezzogiorno (una marca) (1).

(1) Secondo il nostro Atlante le province al nord sono contrassegnate col color giallo, quelle del centro col rosso, e quelle del mezzodì col cilestre.

2. *Cosa sono i quattro Stati del Nord dell'Europa?* Sono le Isole Britanniche, che hanno Londra per capitale; la Danimarca, la cui capitale è Copenaghen; la Svezia, che ha Stockolm per capitale; e la Russia, la cui capitale è Pietroburgo. (4 marche).

3. *Quali sono gli otto Stati che trovansi nel centro dell'Europa?* Sono la Francia, la cui capitale è Parigi, la Germania, le cui principali città sono Vienna, Monaco, Dresda, Berlino, Amburgo, ecc.; la Polonia, che ha diverse grandi città, le principali delle quali sono Varsavia, Cracovia, Wilna, ecc.; i Paesi-Bassi, le cui principali città sono Amsterdam, Rotterdam, La Aia, Brusselles, ecc.; la Svizzera, nella quale sonvi Berna, Lucerna, Zurigo, Solura, Ginevra, Losanna, ec.; la Prussia orientale o ducale, la cui capitale è Könisberg; la Boemia, che ha Praga per capitale; l'Ungheria, la cui capitale è Buda. (8 marche).

4. *Quali sono i quattro principali Stati al mezzodì dell'Europa?* Sono il Portogallo, che ha Lisbona per capitale; la Spagna la cui capitale è Madrid; l'Italia, le cui principali città sono Torino, Milano, Venezia, Firenze, Roma, Napoli, ecc.; la Turchia, che ha Costantinopoli per capitale. (4 marche).

5. *Cos'è Londra?* La capitale delle Isole Britanniche. *Cosa sono le Isole Britanniche?* Esse formano uno dei sedici Stati dell'Europa, e

precisamente uno dei quattro che trovansi al nord. (2 marche).

6. *Cos' è Copenaghen*? È la capitale della Danimarca. *Cos' è la Danimarca*? È uno de' sedici Stati dell' Europa, e fa parte de' quattro che sono al nord. (2 marche).

7. *Cos' è Stockolm*? È la capitale della Svezia. *Cos' è la Svezia*? È uno dei sedici Stati dell' Europa ed uno dei quattro che sono al nord. (2 marche).

8. *Cos' è Pietroburgo*? È la capitale della Russia. *Cos' è la Russia*? È uno dei sedici Stati dell' Europa ed uno dei quattro che sono al nord. (2 marche).

9. *Cos' è Parigi*? È la capitale della Francia. *Cos' è la Francia*? È uno dei sedici Stati che sono in Europa ed uno degli otto che sono nel centro. (2 marche).

10. *Cosa sono Vienna, Monaco, Dresda, Berlino, Amburgo*? Sono le principali città di Germania. *Cos' è la Germania*? È uno dei sedici Stati d' Europa ed uno degli otto del centro. (2 marche).

11. *Cosa sono Varsavia, Cracovia, Wilna*? Sono le principali città della Polonia. *Cos'è la Polonia*? È uno de' sedici Stati dell' Europa ed uno degli otto del centro. (2 marche).

12. *Cosa sono Amsterdam, Rotterdam, La Aia, Brusselles*? Sono le principali città de' Paesi-Bassi. *Cosa sono i Paesi-Bassi*? Sono uno dei

sedici Stati dell'Europa ed uno degli otto del centro. (2 marche).

13. *Cosa sono Berna, Lucerna, Zurigo, Solura, Ginevra, Losanna*? Sono le principali città della Svizzera. *Cos'è la Svizzera*? È uno dei sedici Stati dell' Europa ed uno degli otto del centro. (2 marche).

14. *Cos'è Könisberg*? È la capitale della Prussia ducale. *Cos'è la Prussia ducale* ? È uno dei sedici Stati dell' Europa ed uno degli otto del centro. (2 marche).

15. *Cos'è Praga*? Praga è la capitale della Boemia. *Cos'è la Boemia*? Uno de' sedici Stati dell'Europa ed uno degli otto del centro. (2 marche).

16. *Cos'è Presburgo*? È la capitale dell' Ungheria. *Cos' è l' Ungheria* ? È uno dei sedici Stati dell'Europa ed uno degli otto del centro. (2 marche).

17. *Cos'è Lisbona* ? La capitale del Portogallo. *Cos' è il Portogallo*? Uno dei sedici Stati dell' Europa ed uno dei quattro che trovansi al mezzodì. (2 marche).

18. *Cos' è Madrid*? La capitale della Spagna. *Cos'è la Spagna*? Uno dei sedici Stati dell' Europa ed uno dei quattro che trovansi al mezzodì. (2 marche).

19. *Cosa sono Torino, Milano, Venezia, Firenze, Napoli? ec.* Sono le principali città d' Italia. *Cos'è l'Italia*? Uno dei sedici Stati dell' Europa ed uno de' quattro al mezzogiorno. (2 marche).

20. *Cos'è Costantinopoli?* La capitale della Turchia. *Cos'è la Turchia?* Uno dei sedici Stati dell'Europa ed uno dei quattro al mezzogiorno. (2 marche).

LEZIONE II.

MARI D'EUROPA

(Un mare è un' estensione d' acqua salata ove si scaricano tutti i fiumi).

21. *Quanti sono i mari che bagnano l'Europa?* Sono tredici, tre dei quali sono grandi, e dieci altri piccoli formati dai primi tre. (1 marca).

22. *Quali sono i tre mari grandi d'Europa?* Sono il mare Glaciale al settentrione, l'Oceano al ponente, ed il mare Mediterraneo al mezzogiorno. (3 marche).

23. *Quali sono i dieci piccoli mari d'Europa?* Il mar Bianco, formato dal mar Glaciale; il mar Baltico, il mare del Nord, della Manica, e quello dell'Irlanda, formati dall'Oceano; il mare Ionio, l'Arcipelago, il mar Nero, il mare di Marmara e quello d'Azof, formati dal Mediterraneo. (10 marche).

24. *Cos'è il mar Glaciale?* È uno de' tre grandi mari europei che bagna l'Europa al nord. *Quali sono i paesi bagnati da questo mare?* La Russia e la Svezia dalla parte che si chiama Laponia. (2 marche).

25. *Cos'è l'Oceano?* È uno dei tre gran mari

europei che bagna il ponente dell'Europa. *Quali sono gli Stati bagnati dall'Oceano*? La Svezia, le Isole Britanniche, la Francia, la Spagna ed il Portogallo. (2 marche).

26. *Cos'è il Mediterraneo*? Uno dei tre gran mari europei che bagna l' Europa a mezzogiorno. *Quali sono i paesi che sono bagnati da questo mare*? La Spagna, la Francia, l' Italia e la Turchia Europea. (2 marche).

27. *Cos'è il mar Bianco*? Uno dei dieci piccoli mari d'Europa, formato dal mar Glaciale. *Quali sono i paesi bagnati da questo mare*? Questo mare non bagna che la Russia Europea. (2 marche).

28. *Cos'è il mar Baltico*? Uno de' piccoli mari d' Europa, ed è formato dall' Oceano colle acque del mar del Nord. *Quali sono i paesi bagnati da questo mare*? La Russia, la Polonia, la Prussia, la Germania, la Danimarca e la Svezia. (2 marche).

29. *Cos'è il mare del Nord della Germania*? Uno dei dieci piccoli mari d' Europa, formato dall' Oceano. *Quali sono i paesi ch' esso bagna*? La Svezia, la Danimarca, la Germania, i Paesi-Bassi, la Francia e le Isole Britanniche. (2 marche).

30. *Cos' è il mare della Manica*? Uno dei dieci piccoli mari d'Europa, ed è formato dall' Oceano. *Quali sono i paesi ch' esso bagna*? La Francia e l' Inghilterra. (2 marche).

31. *Cos'è il mare d'Irlanda*? Uno dei dieci

piccoli mari europei, ed è formato dall'Oceano. *Quali sono i paesi bagnati dal mare d'Irlanda*? Le Isole Britanniche, che essendo separate da questo mare formano due grandi isole. (2 marche).

32. *Cos' è il mare Ionio* ? È uno dei dieci piccoli mari d'Europa, ed è formato dal Mediterraneo. *Quali sono i paesi ch' esso bagna* ? L' Italia e la Turchia Europea. (2 marche).

33. *Cos' è l'Arcipelago*? L'Arcipelago è uno dei dieci piccoli mari d'Europa, ed è formato dal Mediterraneo. *Quali sono i paesi da esso bagnati*? La Turchia Europea ed una parte dell'Asia. (2 marche).

34. *Cos'è il mar di Marmara*? È uno de' dieci piccoli mari d'Europa, ed è formato dal Mediterraneo per mezzo dell'Arcipelago. *Quali sono i paesi bagnati da questo mare* ? La Turchia Europea che per mezzo suo resta separata dall'Asia. (2 marche).

35. *Cos'è il mar Nero*? Il mar Nero è uno dei dieci piccoli mari d'Europa, ed è formato dal Mediterraneo per mezzo del mar di Marmara. *Quali sono i paesi da esso bagnati* ? La Turchia Europea, la Russia ed una parte dell'Asia. (2 marche).

36. *Cos'è il mar d'Azof*? È uno dei dieci piccoli mari d'Europa; questo mare è formato dal Mediterraneo per via del mar Nero. *Quali sono i paesi da esso bagnati* ? La Russia ed una parte dell'Asia. (2 marche).

LEZIONE III.

GOLFI D'EUROPA

(Un golfo o una baia è una parte di mare che si estende dentro terra. Si prende generalmente uno per l'altra. Passa però questa differenza tra una baia ed un golfo, che la prima è stretta all' imboccatura e larga al di dentro; il golfo al contrario è più grande all' entrata che di dentro, ed è ordinariamente più esteso di una baia, per cui in questa soventi i bastimenti vi stanno meglio al coperto da molti venti).

37. *Quanti sono i golfi principali dell'Europa?* Dodici, quattro de' quali sono grandi ed otto piccoli. I quattro grandi sono i golfi di Botnia, e di Finlandia, formati dal mar Baltico; la baia di Biscaglia o il golfo di Guascogna, formato dall' Oceano; ed il golfo di Venezia o il mare Adriatico, formato dal Mediterraneo.

Gli otto piccoli sono, il golfo di Livonia o di Riga, formato dal mar Baltico; il golfo di Zuyderzée, formato dal mare del Nord; il golfo di Valenza, il golfo di Lione, quello di Genova, quel di Taranto, quel di Lepanto, ed il golfo di Salonichi o di Tessalonica, formati dal Mediterraneo. (12 marche).

38. *Ove si trovano i quattro golfi grandi dell'Europa?* Il golfo di Botnia, tra la Svezia e la Russia; il golfo di Finlandia, in Russia; la baia di Biscaglia o il golfo di Guascogna, tra la Francia e la Spagna; ed il golfo di Venezia o mare Adriatico, tra l'Italia e la Turchia. (4 marche).

39. *Ove trovansi gli otto golfi piccoli?* Il golfo di Livonia o di Riga, tra la Polonia e la Russia; lo Zuyderzée, ne' Paesi-Bassi; il golfo di Valenza, al levante della Spagna; il golfo di Lione, al mezzodì della Francia; il golfo di Genova, al nord-ouest dell' Italia; il golfo di Taranto, al sud-est dell' Italia; quelli di Lepanto e di Salonichi o di Tessalonica, al mezzogiorno della Turchia. (8 marche).

LEZIONE IV.

STRETTI D' EUROPA

(Uno stretto è una parte di mare che passa tra due continenti vicini uno all' altro).

40. *Quanti sono gli stretti principali dell' Europa?* Ve ne sono dodici; sei al nord, i quali sono, il Cattegat, il Sund, il Gran Belt, il Piccolo Belt, il Passo di Calais, ed il canale di San-Giorgio; sei al mezzogiorno, i quali sono lo stretto di Gibilterra, quello di Bonifazio, il faro di Messina, lo stretto di Gallipoli o dei Dardanelli, quello di Costantinopoli, e lo stretto di Ienikale o di Caffa. (12 marche).

41. *Ove trovansi i sei stretti al nord dell' Europa?* Il Cattegat, tra la Svezia ed il Iutland; il Sund, che separa la Danimarca dalla Svezia all' entrata del mar Baltico; il Gran Belt, tra l' isola di Zelanda e l' isola di Fionia; il Piccolo Belt, tra il Iutland e l' isola di Fionia;

il Passo di Calais, che separa la Francia dall' Inghilterra; ed il canale di San-Giorgio, che separa l' Inghilterra dall' Irlanda. (6 marche).

42. *Ove trovansi i sei stretti del mezzogiorno dell'Europa?* Lo stretto di Gibilterra, tra la Spagna e l'Affrica, all' entrata del Mediterraneo; lo stretto o le bocche di Bonifazio, tra le isole della Corsica e della Sardegna; il faro di Messina, tra la Sicilia e l' Italia; lo stretto di Gallipoli, tra l'Arcipelago ed il mar di Marmara; quello di Costantinopoli, tra il mar di Marmara ed il mar Nero; lo stretto di Ienikale o di Caffa, tra il mar Nero ed il mare d'Azof. (6 marche).

LEZIONE V.

ISOLE D' EUROPA

(Un' isola è uno spazio di terra circondato d' acqua, ed un po' più piccolo d' un continente).

43. *Quante sono le principali isole d'Europa?* Sono cinquantasette; cioè:

Due nel mar Glaciale, e sono, l' isola di Kalogouef, e l' isola di Loffoden.

Quattordici nell' Oceano, tre delle quali grandi, cioè, la Gran-Brettagna, l' Irlanda, e l' Islanda; undici piccole, cioè le isole di Fero, le Shetland, le Orcadi, le Ebridi, le isole di Ouessant, l' isola di Groays, Bell'Ile, l' isola di Noirmoutier, l' isola Dio, l' isola di Rè e l' isola d' Oléron.

Dieci nel Mediterraneo, tre delle quali sono grandi; cioè la Corsica, la Sardegna e la Sicilia; sette piccole, le quali sono, l'isola d'Yviça, l'isola di Maiorca, l'isola di Minorca, le isole d'Hyères, l'isola d'Elba, quelle di Lipari e di Malta.

Dieci nel mar Baltico, che sono, le isole d'Aland, di Dago, d'Oësel, di Gothland, d'Oland, di Rugen, di Bornholm, di Laland, di Zelanda e di Fionia.

Cinque nel mare del Nord, le quali sono, le isole di Sylt, d'Eligoland, di Texel, le isole della Zelanda e quelle di Sheppey.

Due nel mar d'Irlanda, e sono, l'isola di Man e quella d'Anglesey.

Quattro nella Manica; queste sono, le isole di Wight, d'Aurigny, di Guernesey e di Iersey.

Cinque nel mare Ionio, e sono, le isole di Corfù, di Santa-Maura, di Theaki, di Cefalonia e di Zante.

Cinque nell'Arcipelago; cioè l'isola di Negroponte, di Cerigo, di Candia, le Cicladi e le Sporadi. (57 marche).

44. *Quali sono le isole del mar Glaciale, in qual posizione si trovan esse, ed a chi appartengono*? Sono l'isola di Kalogouef dirimpetto al paese di Kandenoss, che appartiene alla Russia; le isole di Loffoden sopra la costa di Norvegia, appartenenti alla Svezia. (2 marche).

45. *Quali sono le isole del grand'Oceano, ed a chi appartengono*? La Gran-Brettagna, le cui

principali città sono Londra e Edimburgo; l'Irlanda, la cui capitale è Dublino; l' Islanda, che ha per capitale Skalholt. La Gran-Brettagna e l'Irlanda fanno parte delle Isole Britanniche, e l'Islanda appartiene alla Danimarca. (3 marche).

46. *Quali sono le principali isole dell'Oceano, ed a chi appartengono?* Sono le isole di Fero, di proprietà della Danimarca; le isole Shetland, le Orcadi, le Ebridi, che fanno parte delle Isole Britanniche; le isole di Ouessant, di Groays, Belle-Ile, di Noirmoutier, di Dio, del Rè e di Oléron, sulla costa di Francia, alla quale pure appartengono. (11 marche).

47. *Quali sono le grandi isole del Mediterraneo, ed a chi appartengono?* Sono l'isola di Corsica, che ha Bastia per capitale, ed appartiene alla Francia; la Sardegna, la cui capitale è Cagliari, ed appartiene al re di Sardegna; la Sicilia, che ha Palermo per capitale, e Messina, altra città considerabile che appartiene al re di Napoli. (11 marche).

48. *Quali sono le piccole isole del Mediterraneo, ed a chi appartengono?* Sono l'isola d'Yviça, che ha Yviça per capitale; di Maiorca, la di cui capitale è Palma; di Minorca, che ha Cittadella per capitale, e Porto-Maone città principale, le quali appartengono alla Spagna. Le isole d' Hyères, al mezzodì della Francia, a cui appartengono; l'isola d'Elba, dirimpetto a Piombino, la cui capitale è Porto-Ferraio,

ed ha Portolongone, altra città grande, la quale appartiene al gran-duca di Toscana. Le isole di Lipari, la cui principale città è Lipari, appartenente al re di Napoli: l'isola di Malta, capitale Valitta o Valetta, appartenente all'Inghilterra. (7 marche).

49. *Quali sono le isole del mar Baltico, e a chi appartengono?* Sono le isole d'Aland, di Dago, d'Oësel, appartenenti alla Russia; di Gothland, d'Oland, appartenenti alla Svezia; di Rugen, che appartiene alla Prussia; di Bornholm, di Laland, di Zelanda, la cui capitale è Copenaghen; di Fionia o Funen, la cui capitale è Odensée, appartenenti tutti alla Danimarca. (10 marche).

Quali sono le isole del mare del Nord, ed a chi appartengono? Sono le isole di Sylt, appartenenti alla Danimarca; quelle di Texel e della Zelanda, la capitale delle quali è Walcheren, appartenenti ai Paesi-Bassi; le isole d'Heligoland e di Sheppey, che appartengono all'Inghilterra. (5 marche).

50. *Quali sono le isole del mare d'Irlanda, ed a chi appartengono?* Sono le isole di Man, la cui capitale è Douglas; l'isola d'Anglesey, che ha per capitale Beaumaris: esse fanno parte delle Isole Britanniche. (2 marche).

51. *Quali sono le isole della Manica, ed a chi appartengono?* Sono le isole di Wight, la cui capitale è Newport; l'isola d'Aurigny, la cui capitale è Sant'Anna; l'isola di Guernesey,

che ha San-Pietro per capitale; e quella di Iersey, la cui capitale è Saint-Hélier, appartenenti all'Inghilterra. (4 marche).

52. *Quali sono le isole del mar Ionio ed a chi appartengono?* Sono le isole di Corfù, di Santa-Maura, di Theaki, di Cefalonia e di Zante. Queste formano uno Stato separato, sotto la protezione dell'Inghilterra. (5 marche).

53. *Quali sono le isole dell'Arcipelago, ed a chi appartengono?* Sono le isole di Negroponte, la cui capitale è Negroponte; di Candia, anticamente Creta, che ha per capitale Candia; di Cerigo, che una volta si chiamava Citera; le Cicladi, delle quali le più considerabili sono Andros, Tine, Mycone, Naxos, Paros e Milos; e le Sporadi, di cui le più considerabili sono Lemnos, Mytilene, Scio, Samos e Cos: appartengono esse tutte alla Turchia. (5 marche).

LEZIONE VI.

PENISOLE, CAPI D'EUROPA

(Una penisola è uno spazio di terra circondato dall'acqua, ad eccezione di un lato: questa parte di terra quando è molto ristretta si chiama *istmo*).

54. *Quante penisole vi sono in Europa?* Ve ne sono otto, quattro delle quali sono grandi, la Svezia cioè con la Norvegia, la Spagna col Portogallo, l'Italia e la Turchia Europea; quattro piccole, il Iutland, in Danimarca; la Brettagna, in Francia; la Morea, in Turchia e la Crimea in Russia. (8 marche).

55. *Ove trovansi le quattro grandi penisole d'Europa?* La Svezia colla Norvegia o l'antica Scandinavia è circondata dal golfo di Botnia, dal mar Baltico, dal mare del Nord e dall'Oceano; la Spagna col Portogallo sta tra l'Oceano ed il Mediterraneo; l'Italia è circondata dal Mediterraneo, dal mar Ionio, dal golfo di Taranto e dal golfo di Venezia; la Turchia Europea è circondata dal golfo di Venezia, dal mar Ionio, dal Mediterraneo, dall'Arcipelago, dal mar di Marmara e dal mar Nero. (4 marche).

56. *Ove trovansi le quattro piccole penisole dell'Europa?* Il Iutland, in Danimarca, tra il mare del Nord ed il mar Baltico; la Brettagna, in Francia, tra l'Oceano e la Manica; la Morea, in Grecia, tra il mar Ionio e l'Arcipelago; e la Crimea, tra il mar Nero ed il mare d'Azof. (4 marche).

(Un promontorio o un capo è un'elevazione di terra più o meno rilevante che si prolunga nel mare).

57. *Quanti sono i capi principali dell'Europa?* Sono sedici: il capo Nord, nel mare Glaciale; il capo Naze o Lindsness, nel mare del Nord; il capo di la Hague, nella Manica; i capi Clear, Lands'end, Lezard, Ortegal, Finistère, San-Vincenzo, Trafalgar, nell'Oceano; i capi Martino, Corso, Tavalaro, Passaro, Spartivento, e Matapan, nel Mediterraneo. (16 marche).

Ove trovansi questi capi principali d'Europa? Il capo Nord sta al nord della Laponia; il capo Naze o Lindsness, al mezzogiorno della Norvegia; il capo Clear, al sud-ouest dell' Irlanda; il capo Lands'end ed il capo Lezard, al sud-ouest dell' Inghilterra; il capo di la Hague, sulla costa di Normandia, in Francia; i capi Ortegal e Finistère, al nord-ouest della Spagna; il capo San-Vincenzo, al sud-ouest del Portogallo; quello di Trafalgar, al sud-ouest della Spagna; il capo Martino, a levante della Spagna, dirimpetto all' isola d' Yviça; il capo Corso, al nord della Corsica; il capo Tavalaro, al mezzogiorno della Sardegna; il capo Passaro, al mezzodì della Sicilia; Spartivento, alla punta meridionale d'Italia; ed il capo Matapan, al mezzogiorno della Morea. (16 marche).

(Un istmo è una lingua di terra che unisce una penisola al continente).

58. *Quanti sono i principali istmi d'Europa?* Due, l'istmo di Corinto, che unisce la Morea alla Turchia, e l'istmo di Perecop, che unisce la Crimea alla Russia. (2 marche).

LEZIONE VII.

LAGHI D'EUROPA

(Un lago è una grande estensione d'acqua totalmente circondata dalla terra).

59. *Quanti sono i laghi principali d'Europa?* Sono ventiquattro; nove trovansi al nord, e sono, i laghi di Wener, di Wetter, di Meler, di Saima, d'Onega, di Ladoga, di Peipus, d'Ilmen, ed il lago Bianco o Bielo; sei nel mezzo, e sono, i laghi di Neuchâtel, di Ginevra, di Lucerna, di Zurigo, di Costanza e di Balaton; nove al mezzogiorno, e sono i laghi Maggiore, di Lugano, di Como, di Garda, di Comacchio, di Perugia, di Bolsena, di Celano e di Zante. (24 marche).

60. *In quai paesi trovansi i laghi del nord dell'Europa?* Il lago Wener sta tra Carlstadt e Venersbourg; il lago di Wetter, presso di Jonkoping; il lago Meler, tra Stockolm e Westeras, in Isvezia; i laghi di Saima, d'Onega, di Ladoga, di Peipus, d'Ilmen, ed il lago Bianco o Bielo, sono in Russia. (9 marche).

61. *Ove trovansi i laghi del mezzo dell'Europa?* I laghi di Neuchâtel, di Ginevra, di Lucerna e di Zurigo, in Isvizzera; il lago di Costanza, tra la Svizzera e la Germania; e quello di Balaton, in Ungheria, presso d'Alba Reale. (6 marche).

62. *Ove trovansi i laghi del mezzogiorno dell'Europa?* Il lago Maggiore e quello di Lugano, alle frontiere della Svizzera e del regno Lombardo-Veneto; quelli di Como e Garda, nel regno Lombardo-Veneto; il lago di Comacchio, vicino all'imboccatura del Po; quello di Perugia, una volta chiamato Trasimeno, vicino a Perugia; il lago di Bolsena, al sud-ouest d'Orvieto, quello di Celano, nel regno di Napoli, e quello di Zante, vicino a Scutari e Cattaro, in Turchia. (9 marche).

LEZIONE VIII.

CATENE DI MONTAGNE E VULCANI.

(Una catena di montagne è un' unione di montagne che si prolungano per lungo tratto).

63. *Quante catene di montagne vi sono in Europa?* Ve ne sono tredici, sei delle quali sono grandi e sette piccole. Le sei grandi sono, i monti di Kolen, tra la Norvegia e la Svezia; i Pirenei tra la Francia e la Spagna; le Alpi tra la Francia e l'Italia; gli Appennini, che si prolungano in tutta la lunghezza d'Italia; i monti Crapacks o Carpazi, tra l'Ungheria e la Polonia; ed i monti Balkaw o la catena dell'Hemus, in Turchia.

Le sette piccole sono, i monti Cheviots, nelle Isole Britanniche; i Voghesi e le Cevenne, in Francia; il monte Iura, tra la Francia

e la Svizzera; le Asturie, le Estremadure e la Sierra-Morena, in Ispagna. (13 marche).

64. *Quai sono i monti principali in queste grandi catene di montagne?* Il monte Perdu, nei Pirenei; il Sempione, i monti Rosa, Furca, San-Gottardo, San-Bernardo, Bianco, Cenisio, Viso, nelle Alpi, ed il monte Gargano o Sant'Angelo, negli Appennini. (10 marche).

65. *Ove trovansi le piccole catene di montagne d'Europa?* I monti Cheviots separano la Scozia dall'Inghilterra; i Vosges, sono al levante della Francia; il monte Iura, tra la Francia e la Svizzera; le Cevenne, al mezzodì della Francia; esse sono una continuazione delle Alpi; le montagne delle Asturie, dell'Estremadura e della Sierra-Morena, che sono una continuazione de' Pirinei, si trovano in Ispagna. (7 marche).

(Un vulcano è un abisso che s'apre in una montagna, da cui sortono delle fiamme e delle sostanze infuocate).

66. *Quanti vulcani sonovi in Europa?* Ve ne sono tre, il monte Etna, o Mongibello, in Sicilia; il Vesuvio, in Italia, vicino a Napoli, ed il monte Hecla, in Islanda. (3 marche).

LEZIONE IX.

FIUMI D'EUROPA

(Un fiume è una grande corrente d' acqua che si getta nel mare).

67. *Quanti sono i principali fiumi d' Europa?* Ve ne sono trentasei, uno de' quali è la Dwina, che scola nel mar Bianco;

Cinque, che si gettano nel mar Baltico, e sono, la Newa, la Duna, il Niemen, la Vistola e l' Oder;

Sette nel mare del Nord, e sono, l' Elba, il Weser, il Reno, la Mosa, la Schelda, il Tamigi, ed il Tay;

Due nella Manica, la Senna e la Somma;

Undici nell' Oceano, e sono, il Shannon, la Saverna, la Loira, la Charente, la Garonna, l'Adour, il Minho, il Douro, il Tago, la Guadiana ed il Guadalquivir;

Quattro nel Mediterraneo, e sono l' Ebro, il Rodano, l' Arno ed il Tevere;

Due nel golfo di Venezia, e sono, il Po e l'Adige;

Tre nel mar Nero, e sono, il Danubio, il Dniester ed il Dnieper;

Uno che si scarica nel mare d'Azof, ed è il Don. (36 marche).

68. *In qual luogo ha la sua sorgente la Dwina, per quali luoghi passa essa ed in qual mare si getta?* La Dwina si forma colle acque

delle riviere di Sukona e di Youg, che si uniscono all'Oustioug, scorre verso il nord-ouest, e si scarica nel mar Bianco al di sotto d'Arcangelo. (3 marche).

Dove sorge la Newa, ec.? La Newa ha la sua sorgente nel lago di Ladoga, traversa Pietroburgo e si scarica nel golfo di Finlandia, dirimpetto all'isola di Cronstad. (3 marche).

69. *Dove la Duna ha la sua sorgente, ec.?* La Duna ha la sua sorgente in Russia, nel governo di Twer, bagna Wetevsk, Polotzch, Donaborgo, Riga e si scarica nel mar Baltico, all'ouest di quest'ultima città. (3 marche).

70. *Ove ha la sua sorgente il Niemen, ec.?* Il Niemen ha la sua sorgente al sud di Minsk in Polonia, passa a Grodno, Kowno, Tilsit, e si getta nel mare da molte foci, al di sotto di Memel. (3 marche).

71. *In qual luogo nasce la Vistola, ec.?* Nella Slesia, sui monti Carpazi, bagna Cracovia, Sandomir, Varsavia, Thorn, Culm, Graudentz e Mariemburgo, si divide in molti rami, e si scarica nel mar Baltico, tra Elbinga e Danzica. (7 marche).

72. *Ove sorge l'Oder, ec.?* L'Oder ha la sua sorgente nei monti Carpazi, presso d'Oderberg; traversa la Slesia dal sud al nord, bagna Ratibor, Oppeln, Breslavia, Glogaw, Crossen, Francfort (sull'Oder) e Custrino, si divide in molti rami al di sotto di Stettino, e si getta nel mar Baltico da molte foci. (7 marche).

73. *Ove ha la sua sorgente l'Elba, ec.*? L'Elba sorge ne' monti de' Giganti, nelle frontiere della Slesia, passa per Dresda, a Torgau, a Vittemberga, a Dessau, a Magdeburgo, a Lavenburgo, ad Amburgo, ad Altona, a Gluckstadt, e sbocca nel mare del Nord, vicino a Cuxhaven. (9 marche).

74. *Ove ha la sua sorgente il Weser, ec.*? Il Weser vien formato dalle riviere di Verra e di Fulda che si uniscono a Munden, bagna Hameln, Minden, Nienburgo, Hoye, Brema, e si getta nel mare del Nord. (6 marche).

75. *Ove ha la sua origine il Reno, ec.*? Il Reno ha la sua origine nel monte San-Gottardo, nel cantone de' Grigioni in Isvizzera, bagna Coira, traversa il lago di Costanza, separa la Svizzera e la Francia dalla Germania, bagna Sciaffusa, Basilea, Uninga, Spira, Manheim, Worms, Magonza, Coblentz, Bonh, Colonia, Dusseldorf, Wesel; si divide poi in quattro gran rami, il Wahal, l' Issel ed il Leck; il quarto che conserva il nome di Reno si perde nelle sabbie vicino a Leida, nei Paesi-Bassi. (13 marche).

76. *Ove nasce la Mosa, ec.*? La Mosa nasce presso i villaggi di Mosa e Montigny, passa a Commercy, a Verdun, a Sédan, a Mézières, a Dinant, Namur, Liegi, Maëstricht, Ruremonda; riceve le acque del Wahal e del Leck, bagna Dordrecht, Rotterdam, e si getta nel mare del Nord, al di sopra di Briel. (10 marche).

77. *Ove ha la sua sorgente la Schelda, ec.*?

La Schelda sorge presso di Câtelet, passa a Cambrai, a Bouchain, Valenciennes, Tournai, Audenarde, Gand e Anversa; si divide al Forte-Lillo in Schelda orientale e Schelda occidentale: la prima passa a Bergop-Zoom; e la seconda prende il nome di Hundt nell' entrare nel mare del Nord, vicino a Flessinga. (7 marche).

78. *In qual luogo ha la sua sorgente il Tamigi, ec.?* Il Tamigi sorge nella contea di Glocester, vicino di Cirencester; divide le contee d'Oxford, di Buckingham, di Middlesex e d'Essex, da quelle di Berk, di Surry e di Kent; bagna Oxford, Abingdon, Reading, Windsor, Kingston, Londra, Gravesend, e si scarica nel mare a Shernes. (7 marche).

79. *Ove sorge il Tay, ec.?* Il Tay ha la sua sorgente nelle montagne della contea di Perth, traversa il lago Tay, passa a Perth, a Dundee, e si getta nel mare del Nord al di sopra di Saint-Andrews. (3 marche).

80. *Ove ha la sua sorgente la Senna, ec.?* Vicino a San-Senna in Borgogna; bagna Châtillon, Bar (sopra Senna), Troyes, Nogent (sopra Senna), Montereau, Melun, Corbeil, Parigi, Meulan, Mantes, Roano, e si scarica nel mare della Manica tra Havre-de-Grace e Honfleur. (11 marche).

Ove ha la sua sorgente la Somma, ec.? La Somma ha la sua sorgente vicino a quella della Schelda, bagna San-Quintino, Ham, Péronne,

Amiens, Pecquigny, Abbeville, e si scarica nella Manica, tra Crotoy e Saint-Valery. (5 marche).

81. *Ove nasce il Shannon, ec.*? Nella contea di Leitrim in Connaugut, bagna Carrick, traversa i laghi di Ree e Derg, passa per Linerick, e sbocca nell'Oceano all'ouest dell'Irlanda. (3 marche).

82. *Ove sorge la Saverna, ec.*? Nelle montagne della contea di Montgomery, passa per Montgomery, Shrewsbury, Worcester, Tewkesbury, Glocester, e si scarica nell'Oceano presso Bristol. (5 marche).

83. *Ove nasce la Loira, ec.*? La Loira nasce nel monte Gerbier-le-Joux, nel dipartimento delle Ardèche, bagna Puy, Feurs, Roano, Nevers, Briare, Gien, Orléans, Beaugency, Blois, Tours, Saumur, Ancenis, Nantes, e si scarica nell'Oceano a Paimboeuf. (13 marche).

Ove sorge la Charente, ec.? Nel Limosino, bagna Angoulême, Cognac, Saintes e Rochefort, e sbocca nel mare dirimpetto all'isola d'Oléron. (3 marche).

84. *Ove nasce la Garonna, ec.*? Nella valle d'Aran, nei Pirenei, passa per Muret, Tolosa, Castel-Sarasin, Agen, Aiguillon, Marmande, la Réole, Bordeaux, il Borgo di Bec d'Ambez, ove si unisce alla Dordogna, e prende il nome di Gironda fino alla sua imboccatura nell'Oceano. (9 marche).

Ove nasce l'Adour, ec.? Nei Pirenei, bagna

Bagnères, Tarbes, San-Severo, Dax, Bayonne, e sbocca nell'Oceano. (5 marche).

85. *Ove nasce il Minho, ec.?* Vicino di un borgo chiamato Castro-del-Rey, al nord della Galizia, bagna Lugo, Orense, Tuy, e si getta nell'Oceano al di sotto di questa città. (3 marche).

86. *Ove sorge il Douro, ec.?* Il Douro sorge alle frontiere dell'Aragona, vicino a Soria, bagna Aranda, Zamora, Miranda, passa in poca distanza di Lamego, bagna Porto, e scola nell'Oceano, vicino a questa città. (4 marche).

87. *Ove sorge il Tago, ec.?* Il Tago ha la sua sorgente ai confini dell'Aragona, vicino ad Albarazin, passa in Aranjuez o Aranquez, a Toledo, a Talavera della Regina, ad Alcantara in Ispagna, a Santaren in Portogallo, e scola nell'Oceano al di sotto di Lisbona. (5 marche).

88. *Ove nasce la Guadiana, ec.?* Nella Manica, provincia della nuova Castiglia, passa per Calatrava, Merida, Badajoz, traversa l'Estremadura ed una parte del Portogallo, separa il regno d'Algarve dall'Andalusia, e scola nell'Oceano, in vicinanza di Tavira. (3 marche).

89. *Ove sorge il Guadalquivir, ec.?* Ai confini del regno di Murcia, ai piedi d'una montagna chiamata Sierra-Segura, traversa tutta l'Andalusia, passa per Cordova, per Siviglia, e si getta nell'Oceano, a San-Lucar. (5 marche).

90. *Ove sorge l'Ebro, ec.?* L'Ebro nasce nelle Asturie, vicino ad un borgo chiamato Fontè-

bre, costeggia la Biscaglia e la Navarra, traversa l'Aragona, passa a Calahorra, a Saragozza, a Tortosa, e si scarica nel Mediterraneo al di sotto di questa città. (3 marche).

91. *Ove nasce il Rodano, ec.?* Nel monte Furca, passa vicino a Sion, traversa il lago di Ginevra, passa per Ginevra, Lione, Vienna, Tournon, Valenza, Ponte-Santo-Spirito, Avignone, Tarascona, Beaucaire, Arles, e si getta nel Mediterraneo. (10 marche).

92. *Ove nasce l'Arno, ec.?* Negli Appennini, all'est della Toscana, passa per Arezzo, bagna Firenze e Pisa, e si scarica nel Mediterraneo, al di sopra di Livorno. (3 marche).

93. *Ove sorge il Tevere, ec.?* Negli Appennini, vicino di Camaldoli, passa per Perugia, Orvieto, bagna Roma, e si getta nel Mediterraneo ad Ostia. (3 marche).

94. *Ove ha la sua origine il Po, ec.?* Nel monte Viso, passa per Carignano, Torino, Casale, Piacenza, Cremona, Revero, e scola nel golfo di Venezia, da molte foci, vicino al lago di Comacchio. (6 marche).

95. *Ove nasce l'Adige, ec.?* Nelle montagne del Tirolo, bagna Trento, Verona, traversa il regno Lombardo-Veneto, e scola nel golfo di Venezia vicino all'imboccatura del Po. (3 marche).

96. *Ove nasce il Danubio, ec.?* Nella foresta Nera, nel gran-ducato di Baden, bagna Sigmaringen, Ulma, Donawert, Neuburgo, Ingolstadt, Ratisbona, Strawbing, Passaw, Lintz, Vienna,

Presburgo, Buda, Pest, Peterwaradino, Belgrado, Widdin, Nicopoli, Silistria, Ismaïl, e si getta nel mar Nero da molte imboccature. (19 marche).

97. *Ove sorge il Dniester, ec.?* Nei monti Carpazi, nella Galizia in Polonia, bagna Choczim, Bender, e si scarica nel mar Nero tra Ovidiopol e Akermann. (3 marche).

98. *Ove ha la sua origine il Dnieper, ec.?* Il Dnieper, una volta chiamato Borystene, ha la sua origine in Russia, passa per Smolensko, Mohilew, Kiew, Ecatherinoslaw, Kerson, e sbocca nel mar Nero a Otchakow. (3 marche).

99. *Ove nasce il Don, ec.?* Il Don, che una volta chiamavasi Tanai, nasce nel governo di Toula, al sud di Mosca, passa vicino di Voronez, bagna Tcherkask, e scola nel mare d'Azof, a Azóf. (3 marche).

LEZIONE X.

RIVIERE D'EUROPA

(Una riviera è una corrente d'acqua che si scarica in un fiume o in un'altra riviera).

100. *Quante sono le principali riviere dell'Europa?* Ve ne sono trenta, il Bug, che si scarica nella Vistola; la Varta, nell' Oder; il Neker, l'Aar, il Meno e la Mosella, che sboccano nel Reno; la Sambra, nella Mosa; la Scarpa ed il Lys, che si gettano nella Schelda;

il Yonne, la Marna e l'Oise, nella Senna; l'Allier, la Vienna, il Cher e la Maienna, che sboccano nella Loira; il Tarn, il Lot, la Dordogna, che si uniscono alla Garonna; la Saona, l'Isera e la Duranza, che si scaricano nel Rodano; il Ticino, l'Adda, che sboccano nel Po; il Lech, l'Iser, l'Inn, la Drava, la Sava ed il Pruth, che si gettano nel Danubio. (30 marche).

101. *Ove ha la sua sorgente il Bug, per quai paesi passa ed in qual fiume si scarica?* Il Bug ha la sua sorgente in Polonia, presso Lemberg, e si scarica nella Vistola al disotto di Varsavia. (3 marche).

102. *Ove ha la sua origine la Varta, ec.?* Vicino a Cracovia, passa a Siradia, a Posen, a Sadsberg, e si scarica nell'Oder a Kustrin. (3 marche).

103. *Ove nasce il Neker, ec.?* Il Neker ha la sua sorgente vicino a quella del Danubio, bagna Tubingen, le vicinanze di Stuttgard, Heilbron e Heildelberg, e si getta nel Reno a Manheim. (4 marche).

Ove sorge l'Aar, ec.? L'Aar sorge vicino al monte di Schreckorn, nel cantone di Berna, bagna Berna, Arberg, Solura, Arau, e si unisce al Reno dirimpetto a Waldshut. (4 marche).

104. *Ove sorge il Meno, ec.?* Vicino di Culembach e di Bayreuth, passa per Bamberg, Würtzburg, Wertheim, Aschaffenborgo, Francoforte, e si getta nel Reno, dirimpetto a Magonza. (5 marche).

105. *Ove nasce la Mosella, ec.*? La Mosella nasce nei Vosges, bagna Remiremont, Épinal, Toul, Metz, Thionville, Trèves, e si getta nel Reno a Coblentz. (6 marche).

106. *Ove ha la sua origine la Sambra, ec.*? Vicino a Capelle, passa per Landrecies, Maubeuge, Charleroi, e si scarica nella Mosa a Namur. (3 marche).

107. *Ove ha la sua origine la Scarpa, ec.*? Nell'antica Artesia o Artois, traversa Arras, Douai, Saint-Amand, e si getta nella Schelda al di sotto di questa città. (3 marche).

108. *Ove sorge il Lys, ec.*? Nell'antica Artesia o Artois, bagna Thérouënne, Aire, Menin, Courtrai, e si scarica nella Schelda a Gand. (4 marche).

109. *Ove nasce l'Yonne, ec.*? Vicino ad Autun, bagna Castel-Chinon, Auxerre, Joigny, Sens, e si unisce alla Senna a Montereau-Faut-Yonne. (4 marche).

110. *Ove sorge la Marna, ec.*? Vicino a Langres, bagna Joinville, Vitry-le-Français, Châlons, Épernay, Castel-Thierry, Meaux, e si unisce alla Senna a Charenton. (5 marche).

111. *Ove nasce l'Oisa, ec.*? Nelle Ardenne, presso di Rocroy, bagna Guise, La Fère, Noyon, Compiègne, Pont-Sainte-Maixence, e sbocca nella Senna al di sotto di Portoise. (5 marche).

112. *Ove sorge l'Allier, ec.*? L'Allier sorge nelle Cevenne, bagna Brioude, Issoire, Vichy,

Moulins, e si getta nella Loira al di sotto di Nevers. (4 marche).

113. *Ove nasce la Vienna, ec.*? La Vienna sorge nell' antico Limosino, bagna Confolens, Chatellerault, Chinon, e si unisce alla Loira a Candé. (3 marche).

Ove sorge il Cher, ec.? Il Cher sorge vicino d'Aubusson nel dipartimento della Creuza, bagna Mont-luçon, Saint-Amand, Saint-Agnan, e si getta nella Loira tra Tours e Saumur. (3 marche).

114. *Ove ha la sua origine la Maienna, ec.*? Vicino a Vira in Normandia, bagna Maienna, Laval, Castel-Gontier, riceve le acque della Sarta, passa a Angers, e si scarica nella Loira al di sotto di questa città. (4 marche).

Ove nasce la Sarta, ec.? Vicino a Mortagne, bagna Alençon, le vicinanze di Mans, Sablé, riceve le acque del Loir, e si unisce alla Maienna, dirimpetto all' isola di Saint-Aubin, vicino ad Angers. (4 marche).

Ove sorge il Loir, ec.? Il Loir sorge vicino di Nogent-le-Rotrou, bagna Châteaudun, Vendôme, Castel-del-Loir, la Flèche, si unisce alla Sarta al di sopra di Angers. (4 marche).

115. *Ove sorge il Tarn, ec.*? Ne' monti delle Cevenne, bagna Alby e Montauban, si scarica nella Garonna a Moissac. (3 marche).

116. *Ove sorge il Lot, ec.*? Nell'antico Gévaudan, nel monte Lozère, bagna Mende, Espalion, Cahors, e si unisce alla Garonna a Aiguillon. (3 marche).

117. *Ove sorge la Dordogna, ec.?* La Dordogna sorge nel monte d'Oro, bagna Bergerac, Libourne, e si getta nella Garonna nel Borgo di Bec d'Ambez, al di sotto di Blaye. (3 marche).

118. *Ove ha la sua origine la Saona, ec.?* La Saona ha la sua origine nei Vosges, vicino a Plombières, bagna Gray, Auxonne, Châlons, Mâcon, Trévoux, e si getta nel Rodano a Lione. (5 marche).

119. *Ove nasce l'Isera, ec.?* L'Isera sorge nel monte Iserano, in Savoia, bagna Moutiers, Grenoble, e si unisce al Rodano tra Tournon e Valenza. (3 marche).

120. *Ove sorge la Duranza, ec.?* La Duranza sorge nelle Alpi, bagna Brianzone, Embrun, Sisteron, e si getta nel Rodano al di sotto di Avignone. (3 marche).

121. *Ove nasce l'Adda, ec.?* L'Adda nasce nei Grigioni, bagna Sondrio, traversa il lago di Como, passa per Lodi, e si scarica nel Po tra Cremona e Piacenza. (3 marche).

122. *Ove nasce il Ticino, ec.?* Il Ticino nasce vicino nl monte San-Gottardo, bagna Bellinzona, traversa il lago Maggiore, passa per Pavia, e sbocca nel Po. (3 marche).

123. *Ove nasce l'Inn, ec.?* L'Inn sorge nei Grigioni, traversa il Tirolo, passa per Inspruck, Schwatz, Brawnau, e si scarica nel Danubio a Passaw. (3 marche).

124. *Ove sorge il Lech, ec.?* Nelle monta-

gne del Tirolo, traversa la Baviera, passa per Augusta, e si getta nel Danubio vicino a Donawert. (3 marche).

Ove nasce l'Iser, ec.? Nelle montagne del Tirolo, bagna Monaco, passa per Freysing, bagna Landshut, Landau, e si scarica nel Danubio tra Strawbing e Passaw. (4 marche).

125. *Ove sorge la Drava, ec.*? Nelle montagne del Tirolo, bagna Villach, Mahrberg, Petaw, Essek, e si unisce al Danubio vicino a questa città. (4 marche).

126. *Ove sorge la Sava, ec.*? Nella Carniola, passa vicino a Lubiana e Agram, bagna Sissek, Gradiscka, Brod, Sabacz, e si getta nel Danubio a Belgrado, al di sotto di Semlin. (4 marche).

Ove nasce il Prut, ec.? Nei monti Carpazi, bagna Czernowitz, e si scarica nel Danubio. (3 marche).

LEZIONE XI.

DIVISIONE DEGLI STATI CHE TROVANSI AL NORD DELL'EUROPA

127. *Come si divodono le Isole Britanniche*? In quattro parti, 1.° l'Inghilterra, che ha Londra per capitale; 2.° la Scozia, la cui capitale è Edimburgo; 3.° l'Irlanda, la cui capitale è Dublino; 4.° molte piccole isole. (4 marche).

128. *Come si divide la Danimarca*? In continentale ed in isole; la parte continentale comprende il Iutland, la cui capitale è Wiburgo; il ducato d'Holstein, le cui principali città sono Kiel e Altona; il ducato di Lawemburg, che ha per capitale Lawemburg; il ducato di Sleswig le cui principali città sono Flensborg e Sleswig. La parte delle isole comprende, l'Islanda, la cui capitale è Skalholt; le isole di Fero, nell'Oceano; l'isola di Sylt, nel mare del Nord; le isole di Bornholm, di Laland, di Zelanda, la cui capitale è Copenaghen, e di Fionia, la cui capitale è Odensée, nel mar Baltico. (7 marche).

129. *Come si divide la Svezia*? In tre parti, la Svezia così propriamente chiamata, che ha per capitale Stockolm; la Norvegia, la cui capitale è Cristiania o Anslow; le isole, cioè, di Gotland e d'Oland, nel mar Baltico, e le isole di Loffoden sulla costa di Norvegia, tra le quali primeggiano quelle di Hindoen e Langoen. (4 marche).

130. *In quante parti si divide la Russia*? In quattro parti; una al nord, una al mezzo, una al mezzogiorno, ed in molte isole.

Nella parte del nord vi sono quindici governi, o province, le cui principali città sono, Pietroburgo, Wiburgo, Abo, Arcangelo, Novgorod, Revel, Riga, ec.

Nella parte di mezzo vi sono dieci governi, le cui città sono, Mosca, Smolensko, Nisnio-Novgorod, ec.

In quella del mezzogiorno si trovano quindici governi o province, che hanno le seguenti principali città, cioè, Voronez, Kiew, Pultawa, Bender, Ismaïl, Perecop, ec.

Le isole comprendono, quelle d'Aland, di Dago, d'Oesel, nel mar Baltico; le isole di Kalgouef, la Nuova-Zembla e lo Spitzberg, nel mar Glaciale, ec. (8 marche).

LEZIONE XII.

DIVISIONE DEGLI STATI CHE TROVANSI NEL MEZZO DELL'EUROPA

131. *Come si divide la Francia?* In ottantasei dipartimenti. (V. Sezione V, *Geografia della Francia*, alla fine di quest'opera).

132. *Quali sono i principali Stati della Germania compresi nella Confederazione Germanica?* Sono:

1.° L'impero d'Austria, la cui capitale è Vienna, del quale si darà una minuta descrizione alla Sezione VI, *Geografia dell'Impero d'Austria*, alla fine di quest'opera.

2.° Cinque regni, quello di Prussia, che ha Berlino per capitale; di Sassonia, le cui principali città sono, Dresda, Lipsia; di Hânovre, le cui principali città sono Hânovre, Embden, Osnabruck, Luneborgo, Gottinga; di Baviera, le cui principali città sono Monaco, Norimberga, Anspack, e quello di Vurtemberg, che ha Stuttgard, per capitale.

3.° Cinque grandi ducati, quello di Mecklenburgo, le cui principali città sono, Schwerin e Strelitz; d' Oldenburgo, che ha per capitale Oldenburgo; del Basso-Reno, le cui principali città sono Munster, Paderborn, Dusseldorf, Clèves, Colonia, Acquisgrana e Trèves; di Assia-Darmstadt, la cui capitale è Darmstadt; e di Baden, le cui principali città sono Carlsruhe, Baden e Costanza.

4.° L'Assia elettorale, le cui principali città sono Cassel e Fulda.

5.° Quattro principati, quello di Lippa, la cui capitale è Detmold; di Waldeck, la cui capitale è Corbach; di Nassau, che ha Nassau e Dillenbourg, città principali; di Hohenzollern, le cui principali città sono Hechinger e Sigmaringen.

6.° Nove principati e gran ducati della casa di Sassonia, cioè Weymar, Gotha, Coburgo, Meinungen, Hildburghausen, Sonderhausen, Rudolstadt, il ducato d'Anhalt, le cui principali città sono Dessau, Bernbourg e Kœthen o Cothen, ed il principato di Reuss, che ha Greitz per capitale.

7.° Il ducato di Brunswik, capitale Brunswich.

8.° Quattro città libere, cioè Lubecca, Amburgo, Brema e Francoforte-sul-Meno. (30 marche).

133. *In quante parti si divide la Polonia?* In cinque, il regno di Polonia, la cui capitale è

Varsavia; la Polonia russa, le cui principali città sono Mittau, Wilna, Grodno, Minski; il gran ducato di Posen, le cui principali città sono Posen, Thorn, Danzica, appartenente alla Prussia; la Galizia, le cui principali città sono Leopold o Lemberg e Zator, appartenente all'Austria; Cracovia, città libera, sotto la protezione della Russia, Austria e Prussia. (5 marche).

134. *In quante parti si divide il regno de' Paesi-Bassi?* In due parti, l' Olanda ed il Belgio. (1 marca).

L' Olanda è divisa in otto province, le quali sono, l'Olanda così particolarmente chiamata, le cui principali città sono Amsterdam, Rotterdam, Leida e l'Aia; la Zelanda, la cui capitale è Middelburgo; la provincia d'Utrecht, la cui capitale è Utrecht; la provincia di Gueldria, che ha Nimega per capitale; la provincia di Over-Yssel, la cui capitale è Deventer; la provincia di Groninga, la cui capitale è Groninga; la Frisia, la cui capitale è Lewarden; il Brabante olandese, le cui principali città sono Bois-le-Duc, Breda, Berg-op-Zoom. (8 marche).

Il Belgio si divide in sette parti, la contea di Fiandra, le cui principali città sono Gand e Bruges; quella d'Hainault, la cui capitale è Mons; quella di Namur, che ha Namur per capitale; il ducato del Brabante, le cui principali città sono Brusselles, Anversa, Malines e Louvain; il territorio di Liegi; quello di Limburgo che ha Maestricht per capitale; e il gran ducato di Lussemburgo. (7 marche).

135. *Come si divide la Svizzera?* In ventidue cantoni, nove de' quali sono cattolici, otto protestanti e cinque misti.

I cantoni cattolici sono, Friburgo, Lucerna, Schwitz, Solura, Ticino (di cui Bellinzona è capoluogo), Undervald (che ha Stans per capoluogo), Ury (che ha Altorf per capoluogo), il Valese (il cui capoluogo è Sion), Zug.

I cantoni protestanti sono, Argovia (che ha Arau per capoluogo), Basilea, Berna, Ginevra, Neuchâtel, Sciaffusa, Vaud (il cui capoluogo è Losanna), Zurigo.

I cantoni misti sono, Appenzel, Glaris, Grigioni (che ha Coira per capoluogo), San-Gallo, Turgovia (di cui Frauenfeld è capoluogo. (22 marche).

136. *In quante province si divide la Prussia orientale o ducale?* La Prussia si divide in tre province, e sono il Samland, al nord, che ha per capitale Kœnisberg; il Natangen, all' est, la cui capitale è Brandeburgo; e l'Hockerland, all'ouest, la cui capitale è Holland. (3 marche).

137. *In quante province si divide la Boemia?* La Boemia si divide in quattro province, e sono, la Boemia così particolarmente chiamata, la cui capitale è Praga; il marchesato di Moravia, le cui principali città sono, Olmutz, Brunn e Austerlitz; queste province appartengono all'Austria. La Slesia, la cui capitale è Breslavia; ed il marchesato di Lusazia, che ha Luben per capitale: queste province appartengono alla Prussia. (4 marche).

138. *In quante province si divide l'Ungheria?* In quattro, e sono, l'alta Ungheria, la cui capitale è Presburgo; la bassa Ungheria, la cui capitale è Buda; la Schiavonia, la cui capitale è Petervaradino, e la Transilvania, che ha per capitale Hermanstad. (4 marche).

LEZIONE XIII.

DIVISIONE DEGLI STATI D'EUROPA CHE STANNO AL MEZZOGIORNO.

139. *In quante province si divide il Portogallo?* In sei, e sono, la provincia tra Douro e Minho, la cui capitale è Braga, e la principale città Porto; quella di Tra-los-Montes, le cui principali città sono Braganza e Miranda; quella di Beira, la cui capitale è Coimbra; la provincia dell' Estremadura, la cui principale città è Lisbona, che è anche capitale di tutto il regno del Portogallo; la provincia d'Alenteio, la cui capitale è Evora; ed il regno d'Algarve, la cui capitale è Tavira. (6 marche).

140. *In quante province si divide la Spagna?* La Spagna si divide in quattordici province o regni; cioè, tre al nord, sei nel mezzo, tre all' est e due al mezzogiorno.

Le tre al nord sono, la Galizia, che ha Compostella per capitale, e la Corogna ed il Ferrol altre principali città; le Asturie, la cui capitale è Oviedo; la Biscaglia, che ha Bilbao per capitale.

Le sei del mezzo sono, la Navarra, la cui capitale è Pamplona; l'Aragona, la cui capitale è Saragozza; la Castiglia vecchia, che ha per capitale Burgos, e le principali città sono, Valladolid e Segovia; il regno di Leon, la cui capitale è Leon, e la città principale Salamanca; la Castiglia nuova, la cui principale città è Madrid, ed è nello stesso tempo la capitale di tutto il regno di Spagna; l'Estremadura, che ha Badajoz per capitale.

Le due province del mezzogiorno sono, l'Andalusia, la cui capitale è Siviglia, e la città principale Cadice; il regno di Granata, che ha Granata per capitale, e la città principale è Malaga.

Le tre all'est sono, il regno di Murcia, la cui capitale è Murcia, e la principale città Cartagena; il regno di Valenza, la cui capitale è Valenza, e la città principale Alicante; ed il principato di Catalogna, che ha Barcellona per capitale, e la cui principale città è Roses. (14 marche).

141. *In quante province si divide l'Italia?* La descrizione dettagliata di questo Stato si trova alla Sezione VII, *Geografia dell'Italia*, alla fine di quest' opera.

142. *In quante parti si divide la Turchia?* In settentrionale e meridionale. La *Turchia settentrionale* contiene sei province, le quali sono la Moldavia, la cui capitale è Iassi; la Valacchia, le cui principali città sono Bucharest e Tergovist; la Croazia turca o Herzegovina, le cui principali città sono Bihacs e

Mostar; la Bosnia, che ha per capitale Banialucka; la Servia, la cui capitale è Belgrado; e la Bulgaria, la cui capitale è Sofia. La *Turchia meridionale* si divide in sei province; e sono la Romelia, le cui principali città sono Costantinopoli e Andrinopoli; l'Albania, la cui capitale è Scutari; il pascialaggio di Salonico, che ha per capitale Salonico; il pascialaggio di Giannina, le cui principali città sono, Giannina, Larissa e Butrinto; il pascialaggio di Negroponte (1), le principali città del quale sono, Negroponte, Livadia e Lepanto; il pascialaggio di Morea, le cui principali città sono, Corinto, Argos, Tripolizza, Misitra e Patrasso. (12 marche).

LEZIONE XIV.

RELIGIONI E LINGUE DELL' EUROPA

143. *Quante sono le diverse religioni che si professano in Europa?* Possono ridursi a tre

---

(1) L'isola di Negroponte con altre isole dell'Arcipelago, la Morea, l'Attica, e altri paesi della Grecia al N. dell'istmo di Corinto sono da alcuni anni insorti per sottrarsi al dominio della Porta Ottomana. Non avendo questa potuto comprimere la rivolta, il Gran Signore, per la mediazione delle principali Potenze d'Europa, ha sospeso le ostilità contro i paesi ribellati, che dovranno formare per l'avvenire un nuovo Stato europeo. Intanto che pendono le trattative per fissarne i limiti e la forma del governo, i succitati paesi sono governati da un presidente il cui potere è temperato da una rappresentanza nazionale sotto il nome di senato. (*N. del T.*)

principali e sono, l'ebrea, la cristiana e la maomettana. (3 marche).

Quali sono i paesi ove si professa la religione ebrea? Non si trova in alcun luogo della terra un popolo riunito in nazione che professi questa religione: gli Ebrei sparsi dappertutto, si trovano in numero maggiore in Olanda, in Germania ed in Polonia, e vi fanno un considerabile commercio. (1 marca).

Quali sono i paesi ove si professa la religione cristiana? In quasi tutta l'Europa. La religione cristiana comprende: I. La religione cattolica romana, che è professata in Italia, Spagna, Portogallo, Francia, Ungheria ed in molte province di Germania, di Olanda, di Svizzera e d'Irlanda. II. La protestante (che comprende, 1.° la luterana, professata in Isvezia, Danimarca ed in qualche provincia settentrionale della Germania; 2.° la calvinista, professata in Olanda ed in Isvizzera; 3.° la religione anglicana, professata in Inghilterra, e divisa in molte sette). III. La religione greca, che vien professata in Grecia ed in Russia. (6 marche).

Ove si professa la religione maomettana? In Turchia ed in Persia: i Turchi sono della setta d'Omar, il primo de' califfi o successori di Maometto, i Persiani sono della setta d'Alì, genero di Maometto. (2 marche).

144. *Quali sono le lingue antiche dalle quali hanno avuto origine le diverse lingue che si parlano adesso*? Le lingue italiana, spagnuola e fran-

cese, hanno avuto origine dal latino, abbenchè la francese se ne discosti un poco. (4 marche).

Dalla lingua teutonica sonosi formate la tedesca, l'olandese, la fiaminga, la danese, la svedese e l'inglese, le quali però partecipano molto delle lingue latina e francese. (6 marche).

Dalla lingua schiavona hanno avuto origine la russa, l'ungarese, la polacca e la boema. (4 marche).

Dall' antico greco, chiamato ora greco letterale, si è formata la lingua greca odierna, detta volgare. (1 marca).

Dalle lingue araba e tartara s' è formata la turca. Queste tre ultime si scrivono da diritta a sinistra. (1 marca).

LEZIONE XV.

SOVRANI DELL' EUROPA

145. *Quali sono i principali sovrani dell'Europa?* I principali sovrani dell' Europa sono:

Un principe ecclesiastico; questo è il Papa, il quale dimora a Roma. (1 marca).

Tre imperatori: quello d'Austria, che è nello stesso tempo re di Boemia, d'Ungheria, del regno Lombardo-Veneto, e dimora a Vienna; quello di Russia, che è re di Polonia, e risiede a Pietroburgo; quello di Turchia, chiamato il Gran Signore, e soggiorna a Costantinopoli. (3 marche).

Tredici re: e sono, al nord, il re d' Inghil-

terra, che è re ancora di Scozia, Irlanda e Annover, il re di Danimarca, il re di Svezia e Norvegia; nel centro, il re di Francia e di Navarra, il re de' Paesi-Bassi, il re di Prussia, il re di Baviera, il re di Wurtemberg, il re di Sassonia; al mezzodì, il re di Portogallo, il re di Spagna, il re di Sardegna e quello di Napoli o due Sicilie. (13 marche).

Due repubbliche; la repubblica elvetica o Svizzera e quella di S. Marino. (1 marca).

Quattro principi d' Italia, cioè:

Un gran duca di Toscana, che è ancor principe di Piombino;

Un duca di Modena;

Una duchessa di Lucca;

Una duchessa di Parma e Piacenza. (4 marche).

Per quanto risguarda la confederazione germanica, vedasi la *divisione della Germania*, n.° 132.

SEZIONE II.

GEOGRAFIA DELL' ASIA

LEZIONE I.

CONFINI DELL' ASIA

146. *Quali sono i confini dell'Asia?* L'Asia confina al nord, col mar Glaciale; al mezzo-

giorno, col mar dell'Indie; a levante, col mar Pacifico; a ponente, coll'Europa, col mar Mediterraneo, coll'istmo di Suez e col mar Rosso, che la separa quasi intieramente dall'Affrica. (4 marche).

LEZIONE II.

STATI DELL'ASIA

147. *In quanti Stati si divide l'Asia?* In otto, uno al nord, il quale è la gran Tartaria o Russia Asiatica, le cui principali città sono, Astracan, Samarcanda, Tobolsk, ecc. Quattro al mezzogiorno, e sono, la China, la cui capitale è Pekin; l'impero de' Birmanni, che ha Umérapoura per capitale; l'Indostan, le cui principali città sono, Delhy, Calcutta, Madras, ecc., ed il regno di Candahar, la cui capitale è Candahar. Tre al ponente, i quali sono, la Persia, che ha Ispahan per capitale, l'Arabia, le cui principali città sono, Medina, la Mecca, Moka, ecc., e la Turchia Asiatica, le cui principali città sono, Smirne, Aleppo, Damasco, Gerusalemme, ecc. (8 marche).

LEZIONE III.

MARI D'ASIA

148. *Da quanti mari è bagnata l'Asia?* Da quindici mari; cioè, quattro grandi e undici piccoli. (1 marca).

149. *Quali sono i quattro mari grandi asiatici, e quali sono i paesi da essi bagnati?* Il mar Glaciale al nord, che bagna la grande Tartaria; il mare delle Indie al mezzogiorno, il quale bagna l'Arabia, l'Indostan e l'impero dei Birmanni; il mar Pacifico a levante, che bagna la Tartaria e la China; il Mediterraneo al ponente, che bagna la Turchia Asiatica e l'Arabia. (4 marche).

150. *Quali sono gli undici piccoli mari asiatici e quai paesi bagnano essi?* Il mar Caspio, che si può considerare un gran lago: sono bagnate da questo mare la Tartaria e la Persia; il mare d'Azof, il mar Nero, il mar di Marmara e l'Arcipelago, formati dal Mediterraneo; il mar Rosso, formato dal mar delle Indie, fra l'Arabia e l'Affrica; il mar d'Arabia, formato dal mar delle Indie: l'Arabia, la Persia e l'Indostan sono i paesi bagnati da questo mare; il mar della China, formato dal mar Pacifico; la China e l'impero de' Birmanni sono bagnati da questo mare; il mar Giallo, formato anch' esso dal mar Pacifico, bagna la China e la Tartaria; il mar del Giapone ed il mare d'Okhotsk formati dal mar Pacifico, bagnano la Tartaria. (11 marche).

LEZIONE IV.

GOLFI E STRETTI DELL'ASIA

151. *Quanti sono i grandi golfi dell'Asia?* Cinque, e sono, il golfo di Oby, nel paese de'

Samoiedi, al nord della gran Tartaria; il golfo di Pekili, tra la China e la penisola di Corea; il golfo di Siam, al mezzogiorno dell' impero dei Birmanni; la baia di Bengala, tra l' impero de' Birmanni e l' Indostan; il golfo Persico, tra l'Arabia e la Persia. (5 marche).

152. *Quanti sono i piccoli golfi asiatici?* Cinque, e sono, il golfo d'Anadir, al nord-est della penisola di Kamtschatka; il golfo di Tonquin, tra la China ed il Tonquin; il golfo di Martaban, all' ouest dell' impero dei Birmanni; i golfi di Cambaia e quello di Sinda o di Cutch, all' ouest dell' Indostan. (5 marche).

153. *Quanti sono gli stretti dell'Asia?* Sono undici; lo stretto di Waigatz, tra la nuova Zembla e la Tartaria russa; lo stretto di Tessoi o la Manica della Tartaria, tra la Tartaria chinese e l' isola di Tchoka; lo stretto de la Pérouse, tra l' isola di Tchoka e l' isola di Chica o di Iesso; lo stretto di Corea, tra la penisola di Corea e le isole del Giapone; lo stretto di Macassar, tra l' isola di Borneo e le isole Celebe; lo stretto della Sonda, tra l' isola di Sumatra e l' isola di Giava; lo stretto di Malacca, tra l' isola di Malacca e l' isola di Sumatra; lo stretto di Manar, tra l' Indostan e l' isola di Ceylan; lo stretto d' Ormus, all' entrata del golfo Persico; lo stretto di Babelmandeb, all' entrata del mar Rosso; e lo stretto di Behring, tra l' Asia e l' America. (11 marche).

LEZIONE V.

PENISOLE E CAPI DELL'ASIA

154. *Quante penisole vi sono in Asia?* Otto, cioè, quattro grandi e quattro piccole; le quattro grandi sono, la penisola orientale delle Indie o l'impero dei Birmanni, la penisola occidentale delle Indie o la parte che sta al mezzogiorno dell'Indostan, l'Arabia e la Natolia in Turchia; le quattro piccole sono, le penisole di Kamtschatka, di Corea, di Malacca e di Cambaia o Guzarate. (8 marche).

155. *Quanti capi vi sono in Asia?* Nove, e sono, il capo Orientale, dirimpetto al capo del principe di Galles, in America; il capo Romania, al mezzogiorno della penisola di Malacca; il capo Negrais, all' ouest della penisola orientale delle Indie; il capo Comorino, al mezzogiorno dell'Indostan; il capo Diu, al sud della penisola di Cambaia; il capo Iask, in Persia; i capi Rasalgate e Fartack, in Arabia; ed il capo Smirne, all'ouest della Turchia. (9 marche).

LEZIONE VI.

LAGHI E MONTAGNE DELL'ASIA

156. *Quanti sono i laghi principali dell'Asia?* Nove; e sono, il lago Asphalite o il mare Morto, tra la Turchia e l'Arabia; il lago Van, in Turchia; il lago Ormia, in Persia; il lago Zereh, nell'Indostan; i laghi Aral, Palkati, Nor-

Zaizan e Baikal, nella gran Tartaria; e molti altri se ne trovano nella China, il più grande de' quali è Tong-tin. (9 marche).

157. *Quante montagne si trovano nell'Asia?* Tredici, e sono, i monti Poyas o Urali, tra la gran Tartaria e la Russia in Europa; i monti Atlaï e Yablonoy, nel mezzo della gran Tartaria; il monte Caucaso, tra il mar Caspio ed il mar Nero; il monte Ararat, che separa la Turchia dalla Persia; i monti del Libano, in Siria; i monti Tauri, che si estendono dalla Natolia fino all' Indostan, e traversano la Turchia e la Persia; le montagne Himma-Leh, ove trovasi il picco Kantel, la più alta montagna del mondo che separa l' Indostan dalla gran Tartaria; i monti Gauts, che sono una continuazione delle montagne Himma-Leh e si estendono fino al capo Comorino; i monti Sinaï e Horeb, nell'Arabia Petrea; i monti Ared, nell'Arabia Felice; il picco d'Adamo, nell' isola di Ceylan, ed il monte Ophir, nell' isola di Sumatra. (13 marche).

LEZIONE VII.

FIUMI DELL'ASIA

158. *Quanti sono i fiumi principali dell'Asia?* Venti, tre de' quali si gettano al nord dell'Asia, tre all' oriente, nove al mezzogiorno e cinque all' occidente. (4 marche).

159. *Quali sono i fiumi che si gettano al*

nord dell'Asia? Sono, l' Oby, il Ienisey ed il Lena; e si gettano nel mar Glaciale. (3 marche).

160. *Quali sono i fiumi che si scaricano all' oriente dell'Asia*? Sono, l'Amur o Saghalien, che si scarica nel mare d'Okhotsk; le Hoang-Ho o il fiume Giallo, ed il Kian o il mar Cilestre, che si scaricano nel mare Giallo. (3 marche).

161. *Quali sono i fiumi che si scaricano al mezzogiorno dell'Asia*? Sono, il Maykaung o il fiume di Camboge, che si scarica nel mar della China; il Maygue o il fiume di Siam, che sbocca nel golfo di Siam; il Martaban o Thatnayn, l'Ava, il Burrampouter o il fiume di Sampou, il Gange ed il Godawery, che sboccano nella baia del Bengala; l' Oxus o Iohon, che si getta nel lago d'Aral, e l' Indo o Sindi, che si getta nel mar d'Arabia. (9 marche).

162. *Quali sono i fiumi che si scaricano all' occidente dell'Asia*? Sono, il Tigri e l' Eufrate, che si gettano nel golfo Persico; il Kour, il Volga e l' Oural o il Ialk, che sboccano nel mar Caspio. (5 marche).

LEZIONE VIII.

DIVISIONE DEGLI STATI DELL'ASIA

163. *Come si divide la gran Tartaria*? In tre grandi parti, le quali sono, la Tartaria russa, le cui principali città sono, Tiflis, Astracan,

Tobolsk, Ieniseik e Kamtschatka; la Tartaria chinese, le cui principali città sono, Tcitcicar e Kirim, e la Tartaria indipendente, nella quale sonovi le seguenti principali città, Khiva, cioè, Samarcanda, Bokara e Balk. (3 marche).

164. *Come si divide l'impero della China?* In quattro parti, cioè, la Tartaria chinese (*vedi* il n.° precedente); la China così propriamente chiamata, divisa in quindici province; le cui principali città sono, Pekin, Nankin e Canton; i paesi al sud, tributari e ne' quali si comprendono il regno di Tonkin, che ha Kesho per capitale; il Laos, la cui capitale è Sandepora, e la Cochinchina, la cui capitale è Faiso; il regno di Camboge, che ha Camboge per capitale; ed i paesi all' ouest, tributari, ne' quali si comprendono il Tibet, che ha Lassa per capitale; il Boutan; il regno di Napaul; il Sirinagur e la piccola Bucaria. (4 marche).

165. *Come si divide l'Indostan?* In quattro parti, le quali sono, i possedimenti inglesi, le cui principali città sono, Delhy, Agra (capitale dell' antico Mogol), Patna, Calcuta (capitale del Bengala), Cuttack, Madras, Seringapatam, Cambaia, Surate, Bombay, Goa, Calicut e Cochin; il Decan o i possedimenti di Nizam Alì, le cui principali città sono, Ellicpour, Aurungabad e Tydrabad; le province de' Maratti le cui principali città sono, Nagpour, Visepour, Amedabad, Pounah e Tatta. Pondichery, che appartiene alla Francia, e

Tranquebar, che appartiene alla Danimarca, sono sulla costa di Coromandel. (15 marche).

166. *In quante province si divide il regno di Kandahar*? In sette, le cui principali città sono, Kandahar, Caboul, Cassemiria, ec. (3 marche).

167. *In quante province si divide l'impero de' Birmanni*? In sette, cioè: le province d'Assam, che ha Ghergong per capitale; d'Ava, la cui capitale è Ummerapoura, di Aracan, di Pegu, di Martaban, di Siam e di Malacca. (7 marche).

168. *Come si divide la Persia*? In dodici province, le cui principali città sono, Ispahan, Teheran, Erivan, Tauris, Shiras, Gomrom o Bender-Abassi, ecc. (6 marche).

169. *Come si divide l'Arabia*? In tre parti, l'Arabia Petrea, le cui principali città sono, Medina e la Mecca; l'Arabia Deserta, le cui principali città sono Drehieh o Derreja e Lahsa; l'Arabia Felice, le cui principali città sono, Moka, Mascat e Abon. (3 marche).

170. *Come si divide la Turchia Asiatica*? In tre parti, le quali sono, le province orientali, le cui principali città sono, Bassora, Bagdad, Mossul, Diarbeckir, Bitlis, Van; la Natolia o Asia minore, le cui principali città sono Trebisonda, Amasia, Angora, Bursa, Smirne, Effeso e Satalia; la Siria, le cui principali città sono Alessandretta, Antiochia, Aleppo, Sidone, Damasco, Acri, Tiro e Gerusalemme. (3 marc.).

LEZIONE IX.

ISOLE DELL'ASIA

171. *Come si dividono le isole dell'Asia?* Si dividono in otto isole e dieci gruppi. Le otto isole sono, quelle di Formosa, di Macao, d'Hainan, di Ceylan, di Bombay, di Bahrein, di Cipro e di Rodi. I dieci gruppi d'isole sono, le isole del Giapone, le Marianne, le Pelew, le Filippine, le Molucche; le isole della Sonda, cioè, Borneo, Sumatra, e Giava; le isole d'Andaman, le isole di Nicobar, le Laquedive e le Maldive. (20 marche).

172. *Quali sono le isole asiatiche appartenenti alla China?* Sono l'isola di Formosa, che ha Thionan per capitale; l'isola di Macao e d'Hainan, la cui capitale è Kiuncheou. (2 marche).

173. *Quali sono le isole dell'Asia appartenenti agli Spagnuoli?* Le isole Marianne o dei Ladroni, la principale delle quali è Guahan, e le Filippine (che si fanno ammontare al n.° di 1100), le principali delle quali sono, Luçon, che ha Manilla per capitale; e Mindanao, la cui capitale è Mindanao. (2 marche).

174. *Quali sono le isole asiatiche alle quali gli Olandesi possono approdare e commerciare?* Le isole del Giapone, cioè: Chica, Nyphon, Sikoke e Kiusiu, le cui principali città sono Yedo

e Meaco o Miaco; le isole Molucche, sette delle quali sono degne di osservazione, cioè, Celebe o Macassar, Ternate, Gilolo, Ceram, Amboyne, Benda e Timor; l'isola di Giava, le cui principali città sono, Batavia e Bantam. (10 marche).

175. *Quali tra le isole asiatiche sono quelle che appartengono agl' Inglesi?* L'isola di Bombay, che ha Bombay per capitale; l'isola di Ceylan, la cui cpitale è Candy, e le città principali Trinkemale e Colombo. (2 marche).

176. *Quali sono le isole asiatiche appartenenti alla Turchia?* L'isola di Cipro, la cui capitale è Nicosia; l'isola di Rodi, la cui capitale è Rodi. (2 marche).

177. *Qual è l'isola asiatica con cui possono commerciare gl' Inglesi e gli Olandesi?* Sumatra, le cui principali città sono, Achem, Bencolin ed il forte Marlboroug. (1 marca).

178. *Quali tra le isole asiatiche sono quelle cui possonvi approdare e commerciare tutte le nazioni?* L'isola di Borneo, le isole di Andaman, di Nicobar e le Maldive. (4 marche).

LEZIONE X.

RELIGIONI, LINGUE E SOVRANI DELL'ASIA

179. *Quali religioni si professano in Asia?* La Turchia, l'Arabia, la Persia, una parte della Tartaria ed una parte dell'India professano la religione maomettana. Nelle altre parti, cioè,

nell'India, nella Tartaria, nella China, nel Giapone e nelle isole asiatiche vi si professa generalmente la religione pagana ed idolatra. In tutte le parti dell'Asia vi sono degli Ebrei. (4 marche).

180. *Quali sono le lingue che si parlano in Asia?* Il greco moderno, la lingua turca, russa, tartara, persiana, araba, chinese, giaponese, malaia e molte altre; sulle coste dell'India e della China si parlano diverse lingue europee, ed in particolare la portoghese, olandese ed inglese. (2 marche).

181. *Quali sono i principali sovrani dell'Asia?* Gl'imperatori di Russia e Turchia, che stanno in Europa; della China, del Giapone, de' Birmanni, i re di Persia e di Kandahar, che soggiornano in Asia. Vi sono inoltre molti piccoli re, ed un capo spirituale, chiamato il Dalaï-Lama, che dimora vicino a Lassa, nel Tibet. (9 marche).

SEZIONE III.

GEOGRAFIA DELL'AFFRICA

LEZIONE I.

CONFINI DELL'AFFRICA

182. *Qual è la parte del mondo che confina coll'Affrica?* L'Asia, che resta unita all'Affrica per mezzo dell'istmo di Suez. (1 marca).

LEZIONE II.

MARI DELL'AFFRICA

183. *Quali e quanti sono i mari che bagnano l'Affrica?* Cinque, il Mediterraneo al nord; il mar Rosso ed il mar delle Indie all'est; il mare del Sud al mezzogiorno e l'Oceano all'ouest. (5 marchè).

LEZIONE III.

STATI DELL'AFFRICA

184. *In quanti stati si divide l'Affrica?* In dodici, due sulla costa del Mediterraneo, cioè, l'Egitto, le cui principali città sono, Alessandria ed il Cairo; la Barbaria, le cui principali città sono, Marocco, Fez, Tafilet, Algeri, Tunisi, Tripoli e Derna.

Tre sulla costa dell'Oceano, cioè, il Sahara o il gran Deserto, che ha Tagazza per capitale; la Guinea, la cui capitale è Benin; il Congo, la cui capitale è San-Salvatore o Banza.

Una sulla costa del mare del Sud, cioè, la Cafreria, la cui capitale è il Capo di Buona Speranza.

Tre sul mare delle Indie, cioè, Monomotapa, le cui principali città sono, Zimbaoè e Sofola; il Zanguebar, le cui principali città sono, Mozambico e Melinda; l'Aian, la cui capitale è Brava.

Due sulla costa del mar Rosso, cioè l'Abissinia, che ha Gondar per capitale; la Nubia, la cui capitale è Sennaar.

Una nel mezzo, e questa è la Nigrizia o il Soudan, pochissimo conosciuta, le cui principali città sono, Bournon e Tombouctou (12 marche).

LEZIONE IV.

GOLFI E STRETTI DELL'AFFRICA

185. *Quanti sono i golfi dell'Affrica?* Ve ne sono sette principali, cioè, il golfo di Sidra e di Gabes, in Barbaria; il golfo di Guinea e la baia di Benin, sulla costa di Guinea; la baia di Sant'Elena e la baia di San-Lorenzo o di Lagoa, nella Cafreria; ed il golfo di Sofala, nel Monomotapa. (7 marche).

186. *Quanti sono gli stretti dell'Affrica?* Tre, cioè, lo stretto di Gibilterra, tra la Barbaria e la Spagna; il canale di Mozambico, tra il Zanguebar e l'isola di Madagascar, e lo stretto di Babel-Mandeb, che separa l'Abissinia dall'Arabia. (3 marche).

LEZIONE V.

CAPI DELL'AFFRICA

187. *Quanti capi vi sono in Affrica?* Venti, e sono, i capi Razad, Bon, Ceuta e Cantin, in Barbaria; il capo Badaior ed il capo Bianco,

nel Sahara; il capo Verde, il capo Rosso, il capo delle Palme, il capo delle tre Punte, il capo Formosa ed il capo Lope, nella Guinea; il capo Nero, nel Congo; i capi Voltas e di Buona Speranza, ed i capi delle Aiguilles, nella Cafreria; il capo Santa-Maria, al mezzogiorno; il Natale o d'Ambra, al nord dell'isola di Madagascar; il capo Delgado, nel Zanguebar; il capo Guardafui, al nord della costa d'Aian, dirimpetto al capo Fartack. (20 marche).

LEZIONE VI.

LAGHI E MONTAGNE D'AFFRICA

188. *Quanti laghi vi sono in Affrica?* Quattro principali, e sono, il lago di Menzabah, all'imboccatura del Nilo, ed il lago Kairoun, chiamato in passato Moeris, in Egitto; il lago Dambea nell'Abissinia, ed il capo di Maravi, nella Cafreria. (4 marche).

189. *Quante montagne vi sono in Affrica?* Sette, e sono, i monti Atlanti, che cominciano dopo l'Egitto e vanno fino all'oceano Atlantico; i monti Habesh, lungo il mar Rosso, nell'Egitto e nella Nubia; i monti di Kong, della Sierra-Leona, che separano la Nigrizia dalla Guinea; i monti della Luna, al nord della Cafreria; i monti Lupata, all'est della Cafreria, ed il picco di Teneriffa, nell'isola che porta lo stesso nome. (7 marche).

LEZIONE VII.

FIUMI PRINCIPALI D'AFFRICA

190. *Quanti sono i fiumi principali dell'Affrica?* Sette, cioè, il Nilo, il quale dopo aver traversata la Nubia e l'Egitto, si scarica nel Mediterraneo tra Damieta e Alessandria; il Niger, che ha la sua origine nelle montagne di Kongo, traversa tutta la Nigrizia, e non si conosce bene ancora dove continui il suo corso dopo quella provincia; il Senegal, la Gambia, il Zairo, ed il fiume d'Orange, che si scaricano nell'Oceano; ed il Zambèze o Cuama, che passa per il Monomotapa, e si scarica nel mare delle Indie. (7 marche).

LEZIONE VIII.

ISOLE D'AFFRICA

191. *Quante sono le isole principali dell'Affrica?* Diciotto, dieci delle quali nell'Oceano, ed otto nel mare delle Indie. (1 marca).

192. *Quali sono le isole d'Affrica che si trovano nell'Oceano?* Le Azzore, la più grande delle quali è Tercera, che ha Angra per capitale; l'isola di Madera, che ha Funchal per capitale; le isole del capo Verde, la più grande delle quali è San-Iago; e le isole del golfo di Guinea, le principali delle quali sono, Fernando Po, l'isola del principe, San-Tomaso,

Annabona. Queste isole appartengono al Portogallo. (4 marche).

Le isole Canarie, le principali delle quali sono, l'isola di Canaria, di Fortaventura, di Teneriffa e del Ferro. Queste isole appartengono agli Spagnuoli. (4 marche).

L'isola San-Luigi o il Senegal e l'isola di Gorea, vicino al capo Verde, appartenenti alla Francia. (2 marche).

Le isole di San-Matteo e dell'Ascensione. Queste isole non sono abitate. (2 marche).

L'isola di Sant'Elena, la cui capitale è Iamesfort, appartenente all'Inghilterra. (1 marca).

193. *Quali sono le isole dell'Affrica sul mare delle Indie?* Sono, l'isola di Francia o di Maurizio, appartenente all'Inghilterra, e l'isola Borbone, che appartiene alla Francia. (2 marche).

L'isola di Madagascar, le isole di Comoro, delle Amirante, le isole Mahé, l'isola di Socotora e l'isola di Babel-Mandeb. Queste isole sono comuni a tutte le nazioni. (6 marche).

LEZIONE IX.

RELIGIONI, LINGUE E SOVRANI D'AFFRICA

194. *Quali sono le religioni professate in Affrica?* Possonsi ridurre a tre principali, cioè, la cristiana, la maomettana e la pagana. I cristiani, che sono sulla costa dell'Abissinia, hanno tuttora qualche avanzo delle religioni ebrea e pagana. I pagani sono in maggior nu-

mero, ed abitano i paesi dell'interno; i Maomettani abitano la costa di Barbaria. Vi sono ancora in Affrica molti Ebrei, che vi fanno un gran commercio. (3 marche).

195. *Quali sono le differenti lingue dell'Affrica?* L'arabo, che è la lingua volgare; il cofto ed il greco moderno, che si parlano pure in Egitto; l'antica lingua d'Affrica, che è sparsa nell'interno della Barbaria. Ne' porti di mare si parla una specie d'arabo, e nelle città che trovansi sulla costa del Mediterraneo vi si parla la lingua franca, che è un miscuglio di francese, italiano e spagnuolo. (6 marche).

196. *Quali sono i sovrani dell'Affrica?* Secondo le migliori relazioni, esistono in Affrica, un imperatore, che è quello di Marocco; cinque re, e sono, quelli d'Abissinia, di Monomotapa, di Sennaar, di Congo e di Loango; quattro repubbliche, e sono quelle di Tripoli, di Tunisi, d'Algeri e di Brava. (Le tre prime repubbliche sono governate da un dey ed un consiglio; il gran signore vi spedisce un bascià, ma senza alcuna autorità. Esse non pagano alcun tributo. La repubblica di Brava, che trovasi sulla costa d'Aian, è sotto la protezione de' Portoghesi, a' quali paga un tributo di quattrocento libbre d'oro).

I Francesi, gl'Inglesi e gli Olandesi hanno molti stabilimenti sulle coste. Ceuta, Melilla, Pennon Alhucemas, tutte città forti nel territorio dell'impero di Marocco dirimpetto alla Spagna, appartengono a questa monarchia. (13 marche).

SEZIONE IV.

GEOGRAFIA DELL'AMERICA

LEZIONE I.

DIVISIONE GENERALE DELL'AMERICA

197. *Come si divide l'America?* L'America, denominata anche il Nuovo Mondo, comprende due grandi continenti, cioè, l'America settentrionale e l'America meridionale, unite dall'istmo di Panama, che è largo circa venti leghe. (2 marche).

LEZIONE II.

STATI DELL'AMERICA SETTENTRIONALE E MERIDIONALE

198. *In quanti Stati si divide l'America settentrionale?* Cinque, i quali sono, il Canadà, la cui capitale è Quebec; gli Stati-Uniti, che hanno Vashington per capitale; la Florida, la cui capitale è Sant'Agostino; la Luigiana, la cui capitale è la Nuova-Orléans. (Questi due ultimi Stati fanno parte degli Stati-Uniti); il Messico o nuova Spagna, la cui capitale è Messico. (5 marche).

199. *In quanti Stati si divide l'America me-*

ridionale? In sette, il nuovo regno di Granata, la cui capitale è Santa-Fè di Bogota; il Perù, che ha Lima per capitale; il Chilì, la cui capitale è San-Iago; la Patagonia, che è poco abitata; la Plata o il Paraguay, la cui capitale è Buenos-Ayres; il Brasile, la cui capitale è Rio Ianeiro, che si chiama anche San-Sebastiano perchè i Portoghesi lo conquistarono sotto il regno di don Sebastiano, nel 1558; la Guiana, le cui principali città sono, Caienna e Paramaribo. (7 marche).

LEZIONE III.

MARI D'AMERICA

200. *Da quanti mari è bagnata l'America?* Da cinque mari, i quali sono, il mar Glaciale, al nord; l'Oceano ed il mare delle Antille o delle Caraibe, all'est; il mare del Sud, al sud, ed il mar Pacifico, all'ouest. (5 marche).

LEZIONE IV.

GOLFI E STRETTI D'AMERICA

201. *Quanti golfi grandi sonovi in America?* Quattro, cioè, la baia di Baffin e la baia di Hudson, nel mar Glaciale; il golfo del Messico, nell'Oceano; ed il golfo di California o mare Vermiglio, formato dal mar Pacifico. (4 marche).

202. *Quanti sono i piccoli golfi d'America?*

Quindici, dodici de' quali nell'Oceano, e tre nel mar Pacifico.

I dodici piccoli golfi dell'Oceano, sono il golfo San-Lorenzo, tra il Canadà e la Terra-Nuova; la baia di Finda, tra la nuova Scozia e gli Stati-Uniti; le baie di Delaware e di Chesapeak, a levante degli Stati-Uniti; le baie di Campèche e d'Honduras, nel Messico; i golfi di Darien, di Maracaibo e di Paria, nel nuovo regno di Granata; la baia di Tutti-i-Santi, nel Brasile; le baie di San-Mattia e di San-Giorgio, nella Patagonia.

I tre piccoli golfi nel mar Pacifico sono, le baie di Guayaquil, di Choco e di Panama, nel nuovo regno di Granata. (15 marche).

203. *Quanti stretti sonovi in America?* Nove, e sono, gli stretti di Davis, di Cumberland e d'Hudson, nel mar Glaciale; lo stretto di Belle-Ile, tra il Labrador e la Terra-Nuova; il canale di Bahama o della Florida, tra la Florida e le isole Lucaie; lo stretto del Passaggio, tra l'isola di San-Domingo e le isole di Giammaica e di Cuba; lo stretto di Magellano, tra la Patagonia e la Terra-del-Fuoco; lo stretto del Maire, tra la Terra-del-Fuoco e l'isola degli Stati; e lo stretto del Nord o Behring, tra l'Asia e l'America. (9 marche).

LEZIONE V.

CAPI E PENISOLE D'AMERICA

204. *Quanti capi principali ha l'America nell'Oceano?* Diciasette, cioè, il capo Farewell, al sud della Groenlandia; il capo Chudley, al nord della Nuova Bretagna; il capo Raze, al sud-est della Terra-Nuova; il capo Breton, al levante dell'isola Reale; il capo Sabbia, al sud della Nuova Scozia; il capo Cod ed il capo Hatteras, al levante degli Stati-Uniti; il capo Florida, al mezzogiorno della Florida; il capo Catoche, al nord del Yucatan; il capo Sant'Antonio, all'ouest dell'isola di Cuba; il capo Gracias-a-Dios sulla costa del Messico; il capo Nord, all'imboccatura del fiume delle Amazzoni; il capo San-Rocco ed il capo Sant'Agostino, al levante del Brasile; il capo Santa-Maria ed il capo Sant'Antonio, all'imboccatura del fiume del Rio della Plata; il capo Horn, al sud-ouest della Terra-del-Fuoco. (17 marc.).

205. *Quanti sono i capi principali dell'America nel mar Pacifico?* Sei, i quali sono, il capo Bianco, sulla costa del Perù; il capo Bianco ed il capo Coriente, sulla costa del Messico; il capo San-Luca, al sud della California; il capo Bianco, sulla costa del Nuovo-Messico; il capo del Principe di Galles, opposto al capo Est, in Asia. (6 marche).

206. *Quali sono le sei penisole principali del-*

l'America? Sono, la Groenlandia, al nord dell'America; il Labrador e la nuova Scozia o Acadia, nel Canadà; la Florida all'est; il Yucatan, nel Messico; la California, nel nuovo Messico. (6 marche).

LEZIONE VI.

LAGHI E MONTAGNE DELL'AMERICA

207. *Quanti sono i principali laghi dell'America?* Nove, e sono, il lago Superiore, il lago Michigan, il lago Huron, il lago Eriè, il lago Ontario, nel Canadà; il lago Messico ed il lago Nicaragua, nel Messico; il lago Titicaca, nel Perù; il lago Xerayes al nord del Paraguay. Vi sono inoltre molti laghi nel nord dell'America settentrionale. (9 marche).

208. *Quante sono le grandi catene di montagne dell'America?* Quattro, i monti Apalaches o Allegani, nell'America settentrionale, che traversano gli Stati-Uniti; i monti Topians e Apecana nel Messico; e le Ande o Cordiliere, che traversano l'America meridionale dal nord al sud lungo la costa del mar Pacifico. Esse hanno un' estensione di 1433 leghe. (4 marche).

LEZIONE VII.

FIUMI PRINCIPALI DELL'AMERICA

209. *Quanti sono i principali fiumi dell'America*? Nove sono i principali fiumi dell'America, cioè cinque nell'America settentrionale, che

sono, il fiume San-Lorenzo, la Delaware, il Potomack, il Mississipi ed il Rio Bravo del Norte; quattro nell'America Meridionale, e sono l'Orenoco, il fiume delle Amazzoni, il Tocantin, ed il Rio della Plata. (9 marche).

210. *Ove ha la sua origine il fiume San-Lorenzo?* Nel lago Ontario; bagna Montreal e Quebec, e si scarica nell'Oceano dirimpetto all'isola d'Anticosti. (2 marche).

Ove nasce la Delaware? Presso di Delaware, nella Nuova-Iork, separa la Pensilvania dal Nuovo-Iersey, bagna Trenton e Filadelfia, e si scarica nell'Oceano. (4 marche).

Ove sorge il Potomack? Il Potomack sorge nei monti Allegani, separa la Virginia dal Maryland, bagna Vashington, e si scarica nell'Oceano. (3 marche).

211. *Ove ha la sua origine il Mississipi*? Nei laghi del Canadà, bagna la Luigiana, riceve il Missouri, l'Ohio, l'Arkansaw, e si scarica nel golfo del Messico, al disotto della Nuova Orleans, dopo avere scorso per ben seicento leghe di Terreno. (2 marche).

Ove nasce il Bravo del Norte? Tra gli Stati-Uniti ed il Messico, nei monti Topians, passa per Santa-Fè, bagna Loredo e Revilla, e si scarica nel golfo del Messico a Reinosa. (3 marche).

212. *Ove sorge l'Orenoco*? Al nord del Brasile, bagna San-Tomaso, e si getta nell'Oceano da molte foci. (2 marche).

213. *Ove nasce il fiume delle Amazzoni?* Il fiume delle Amazzoni o il Maranon nasce nelle Ande, al nord d'Arequipa, traversa il Perù dal sud al nord, bagna Olivenza, e si scarica nell'Oceano a Parana, dopo un corso circa di mille leghe. (3 marche).

Ove sorge il Tocantin? Vicino di Villa Boa, e si scarica nell' Oceano nelle vicinanze di Belem e dell' isola Maraiò. (2 marche).

214. *Ove nasce il Rio della Plata?* Il Rio della Plata vien formato da quattro grandi riviere, cioè, il Paraguay, il Pilcomayo, il Parana e l' Uraguay, bagna l'Assunzione, Buenos-Ayres, e Monte Video, e si scarica nell'Oceano al di sotto di questa città. (2 marche).

LEZIONE VIII.

DIVISIONE DEGLI STATI D'AMERICA

215. *Come si divide il Canadà?* In cinque province, le quali sono, la Nuova Bretagna o il Labrador, abitata dagli Eschimesi; l'alto Canadà, la cui capitale è Londra; il basso Canadà, che ha Quebec per capitale; il Nuovo Brunswick, che ha Frederik-Town per capitale; e la Nuova Scozia o Acadia, la cui capitale è Halifax. (5 marche).

216. *Come si dividono gli Stati-Uniti?* In ventidue province, sette delle quali sono al nord, sette nel mezzo ed otto al mezzogiorno, e nelle due Floride.

Le sette province del nord sono, Main, la cui capitale è Portland; Nuovo-Hampshire, la cui capitale è Portsmouth; Vermont, che ha Bennington per capitale; Massachusets, la cui capitale è Boston; Rodhe-Island, la cui capitale è Newport; Connecticut, la cui capitale è Hartford; Nuova-Jork, la cui capitale è Nuova-Jork.

Le sette province del mezzo sono, Nuova-Jersey, che ha Trenton per capitale; la Pensilvania, che ha Filadelfia per capitale; Delaware, che ha per capitale Nuovo-Dover; il Maryland, che ha Annapoli per capitale, e la cui principale città è Baltimora; il territorio al nord-ouest dell'Ohio, la cui capitale è Chilicothe; la Columbia, che ha per capitale Washington, città federale, sede del congresso generale, fondata in onore del celebre Washington; e il distretto di Michigan, che ha Détroit per capitale.

Le otto province del mezzodì sono: la Virginia, la cui capitale è Richemond, e le principali città sono, Norfolk e Villiansburgo; Kentucky, la cui capitale è Francfort; il Tennessée, la cui capitale è Knoxville; la Carolina al nord, che ha Raleigh per capitale; la Carolina al mezzodì, il governo della quale risiede a Columbia, la sua principale città è Charles-Town; la Georgia, che ha Louisville per capitale, e la città principale è Savanah, e la Luigiana, che si divide in alta e bassa; la pri-

ma detta anche Mississipi ha Nacthez per capitale, la capitale della seconda è Nuova-Orléans. (20 marche).

217. *Come si divide la Florida?* In due parti, che sono, la Florida all'est, la cui capitale è Sant'Agostino; la Florida all'ouest, la cui capitale è Pensacola. (2 marche).

218. *Quali sono le parti della Luigiana che sono conosciute?* La Luigiana non è ben conosciuta che sulle rive del golfo del Messico. (1 marca).

219. *Quali sono le principali città del Nuovo Messico?* Le principali città del Nuovo Messico che formano adesso una delle tre province del Messico, sono, Santa-Fè, Durango e San-Luigi del Potosi. (3 marche).

220. *Quali sono le principali città dell'Antico Messico?* Guadalaxara, Valladolid, Messico, Vera-Crux, Acapulco e Campêche. (6 marche).

Quali sono le principali città della provincia di Guatimala? Le principali città di Guatimala, che col nuovo e antico Messico formano adesso il regno del Messico o la Nuova Spagna, sono, Guatimala, Vera-Paz, ecc. (2 marc.).

221. *Come si divide il nuovo regno di Granata?* In due parti, cioè, la Terra Ferma, che contiene undici province, le cui principali città sono, Panama, Porto Bello, Cartagena, Santa-Marta, Santa-Fè di Bogota, Papayan e Quito; il governo di Caracas, che contiene cinque province, le cui principali città sono Maracaibo, Leon di Caracas, Cumana. (2 marche).

222. *Come si divide oggi il Perù?* In cinque arcivescovati, cioè, quelli di Truxillo, di Lima, di Guamanga, di Cuzco e di Arequipa, le cui principali città sono Potosi e la Plata. (5 marche).

223. *Come si divide il Chili?* In tre parti, l'antico Chili, la cui capitale è San-Jago; questa città è pure la capitale di tutta la provincia, e la Mocha o Nuova Concezione ne è la principal città; l'Antica Concezione è stata distrutta da un terremuoto; l'Aracuana, la cui capitale è Valdivia; l'isola Chiloë, la cui capitale è San-Giovanni di Castro.

Quest'isola è la principale dell'Arcipelago di Chonos, composto di quarantasette isole, venticinque delle quali sono coltivate e popolate.

Il principal porto di commercio è Valparaijo; le miniere d'oro si trovano nel paese delle nevi a Petorca. (5 marche).

224. *Come si divide ora il Paraguay o Plata?* In dieci province, cioè, la Paz; la Plata; il Tucuman, la cui capitale è San-Jago o Tucuman; il Cuyo, che ha Mendoza per capitale; Cordova; San-Jago dell'Estero; Buenos-Ayres, la cui capitale è Buenos-Ayres, e le principali città sono, l'Assunzione, Santa-Fè; Monte-Video, la cui capitale è Monte-Video; Santa-Cruz della Sierra, e Lanos del Manso che è poco conosciuto. (10 marche).

225. *Come si divide il Brasile?* In due parti, cioè, in settentrionale, che contiene le città di

Para, Seara, San-Luigi di Maranham, ec.; e in meridionale, che comprende le città d'Olinda, di Fernambuco, San-Salvatore, e San-Sebastiano o Rio Janeiro ne è la capitale. (2 marche).

226. *Come si divide la Guiana?* In Guiana francese, la cui capitale è Caienna; in Guiana olandese, le cui principali città sono, Surinam e Paramaribo, ed in Guiana inglese; Demerary è la più florida di queste colonie inglesi, ed ha Stabroek per capitale. (3 marche).

LEZIONE IX.

ISOLE PRINCIPALI D'AMERICA

227. *Come si dividono le isole d'America?* In sei parti, che sono, le isole nella baia di Baffin, le isole nel golfo di San-Lorenzo, le isole nell'Oceano, le isole tra l'Oceano ed il mare Caraibe, le isole vicine allo stretto di Magellano, e le isole nel mar del Sud. (6 marc.).

228. *Quali sono le isole che sono nella baia di Baffin?* Le isole di James o di Cumberland, e della Buona Fortuna. (3 marche).

229. *Quali sono le isole del golfo San-Lorenzo?* L'isola di Terra-Nuova, le cui principali città sono, Piacenza e San-Giovanni; l'isola Reale o del capo Breton, capitale Luisburgo; l'isola di San-Giovanni, e l'isola dell'Assunzione o d'Anticosti. (4 marche).

230. *Quali sono le isole dell'America nell'Oceano*? Le Bermude, nel mezzo dell' Oceano, la cui principale città è San-Giorgio; e Long-Island o l' isola Longa, sulla costa della provincia di Nuova-Jork. (2 marche).

231. *Quali sono le isole tra l' Oceano ed il mare Caraibe*? Le isole Lucaie o di Bahama, le grandi Antille e le piccole Antille. (3 marc.)

232. *Delle isole Lucaie quali sono le principali*? Quelle di Bahama, Lucaia, Provvidenza, e l' isola di Guanahani o San-Salvatore, che fu la prima scoperta nell'America. (4 marc.)

233. *Delle grandi Antille quali sono le principali*? L' isola di Cuba, che ha l'Avana per capitale; l'isola di San-Domingo, le cui principali città sono, il Capo, Porto-Principe e San-Domingo; la Giammaica, le cui principali città sono, Kingstown, Spanisch-Town, e l'isola di Porto-Ricco, la cui capitale è San-Giovanni di Porto-Ricco. (4 marche).

234. *Come si dividono le piccole Antille*? In tre gruppi, e sono, le isole Vergini, le isole del Vento e le isole sotto il Vento. Le isole Vergini sono tredici, cioè: San-Tomaso, Tortola, Anegada, Santa-Croce, Sant'Eustachio, ec. Le isole del Vento sono, Anguille, San-Martino, la Barbuda, Antigoa, San-Cristoforo, Montserrat, la Guadalupa, la Desiderata, Maria-Galante, la Dominica, la Martinica, Santa-Lucia, San-Vincenzo, la Barbada, la Granata e Tabago. Le isole sotto il Vento sono, la Trinità, la Margherita, Curaçao, ec. (24 marche).

235. *Quali sono le isole vicino allo stretto di Magellano?* Le isole di Falkland o Malovine, l'isola del Fuoco e l'isola degli Stati. (3 marc.)

236. *Quali sono le isole del mare del Sud?* Le isole di Chiloë, di Fernandez, di San-Felice e di Gallapagos. (4 marche).

LEZIONE X.

RELIGIONI, LINGUE E SOVRANI D'AMERICA

237. *Quali sono le forme di governo, le religioni e le lingue d'America?* Sono eguali a quelle delle diverse Potenze Europee che vi comandano. In America evvi una repubblica che è quella degli Stati-Uniti. I nazionali parlano diverse lingue, e sono quasi tutti pagani. (3 marche).

238. *Quali sono i possedimenti francesi in America?* La Martinica, la Guadalupa, la Desiderata, Maria-Galante, Caienna e la parte orientale della Guiana. (7 marche).

239. *Quali sono i possedimenti inglesi in America?* Le isole di James o di Cumberland, e di Buona-Fortuna; l'isola di Terra-Nuova, d'Anticosti, di San-Giovanni, il capo Breton o l'isola Reale, le Bermude, le isole Lucaie, le isole della Giammaica, di Tortola, d'Anguille, di Barbuda, d'Antigoa, di San-Cristoforo, della Dominica, di Santa-Lucia, di San-Vincenzo, di Barbada, di Tabago, di Grenada, della Trinità, di Falkland o Malovine. (22 marche).

240. *Quali sono i possedimenti olandesi in America?* Sant'Eustachio, San-Martino, Curaçao, Bonair, Ariba e la parte settentrionale della Guiana. (6 marche).

241. *Quali sono i possedimenti spagnuoli in America?* Il Messico, la Terra-Ferma, il Perù, il Chili, una parte del Paraguay, le isole di Cuba, di Porto-Ricco, di Santa-Margherita, di San-Felice, di Chiloë, di Giovanni Fernandez e di Gallapagos, ec. (11 marche) (1).

---

(1) La Spagna ha perduto da pochi anni in qua tutti i suoi possessi sul continente americano. Essa non ha però ancora rinunciato al dominio di quei paesi. L'Inghilterra e la Francia sono le sole Potenze Europee che abbiano conchiuso dei trattati di commercio con essi. Intanto che tutte le Potenze riconoscano que' nuovi Stati formalmente, ne abbiamo data la descrizione secondo l'antica divisione. Crediamo nondimeno di far cosa grata agli studiosi indicando i cambiamenti succeduti in quelle regioni.

Il Vecchio e Nuovo Messico, che dei vice-re spagnuoli avevano governato fino al 1810, si ribellarono in quell'anno per separarsi dalla madre patria, ma la ribellione fu compressa nel 1819. Nel 1820 una seconda rivoluzione distrusse il potere spagnuolo in quel paese e nel 1821 i Messicani elessero imperatore Agostino Iturbide, che forzato poi nel 1823 a abdicare, abbandonò l'autorità nelle mani di un congresso repubblicano che regge tuttora quel paese diviso in venti Stati indipendenti ed uniti tra di loro in confederazione riconoscendo per supremo capo un presidente.

Il *Guatimala* che appartenne per molto tempo alla Spagna, prima come parte del Messico, in ultimo come Stato separato, nel 1821 si dichiarò indipendente, diviso in cinque Stati di Costarica, cioè, Nicaragua, Honduras, San-Salvador e Guatimala, governati in repubblica e

242. *Quali sono i possedimenti portoghesi in*

---

confederati sotto il titolo di *Stati-Uniti dell'America Centrale.*

I paesi compresi nel vice-regno della nuova Granata e nella capitaneria generale di Caracas o di Venezuela che formano lo Stato di *Terra-Ferma* nell'America meridionale, nel 1811 si ribellarono alla Spagna e dopo molti sforzi di questa Potenza per conservarli, nel 1819 riescì ai due Stati di costituirsi in una sola repubblica sotto il nome di repubblica di *Columbia*, e nel 6 maggio 1821 fu installato solennemente il congresso generale della Columbia nella piccola città di Rosario di Cucuta. La città di Santa-Fè di Bogota fu scelta per sede del governo che si dovea poi trasferire per una nuova risoluzione a Ocana 60 leghe più al nord di Bogota.

Quantunque il *Perou* che la Spagna aveva eretto in vice-regno tentasse di sottrarsi al dominio di questa Potenza fin dal 1808, non fu però che nel 1821 che Lima, la capitale, si arrese ad un'armata del Chili ed il Perou fu dichiarato repubblica nel 28 luglio dello stesso anno. La Spagna aveva già da gran tempo staccato dal vice-regno del Perou una parte del territorio per unirlo al governo di Buenos-Ayres. Quando questo paese si ribellò alla Spagna nel 1810 la parte spettante al Perou seguì la sorte di Buenos-Ayres e finalmente nel 3 agosto 1823 si costituì in repubblica indipendente divisa in cinque province sotto il nome di *Alto Perou* o *Repubblica di Bolivar* o *Bolivia.*

Il *Buenos-Ayres* proprio che faceva parte del *Paraguai* o *Regno della Plata* o di *Bueno-Ayres* ribellatosi nel 1810, dopo una lunga lotta sostenuta contro la Spagna, indi contro il Brasile che pretendeva il possesso di Monte-Video, si è costituito in repubblica divisa in due Stati separati, uno di *Buenos-Ayres* o *Province-Unite del regno della Plata* colla residenza del governo a *Buenos-Ayres;* l'altro della provincia *Cisplatina* capitale *Monte-Video.*

Il Paraguai proprio si è costituito Stato indipendente

America? Il Brasile ed una parte del Paraguay. (2 marche) (1).

243. *Quali sono i possedimenti danesi in America*? San-Tomaso, Santa-Croce, San-Giovanni, San-Bartolomeo, ed uno stabilimento nella nuova Groenlandia. (5 marche).

LEZIONE XI.

ULTIME ISOLE SCOPERTE

244. *Come si dividono le isole ultimamente scoperte*? In gruppi di piccole isole, ed in grandi isole. (1 marca).

---

riconoscendo per capo un presidente che risiede all'Assunzione, con una forma di governo tutta particolare, non avendo alcun rapporto coi vicini Stati.

Il Chili che era unito, sotto la Spagna, al vice-regno del Perou, si ribellò anch'esso nel 1810; nel 1818 assicurò colla battaglia di Maypo la sua indipendenza e nel 1823 si costituì in repubblica rappresentata da un congresso nazionale. L'arcipelago di Chiloe nel mar Pacifico all'ouest del Chili pare tendere a governarsi da sè come Stato indipendente. (*N. del T.*)

(1) Nel 1808 la corte del Portogallo in conseguenza dell'occupazione seguita per parte de' Francesi di questo paese, andò a stabilirsi a Rio Janeiro nel Brasile, e soltanto nel 1821 ritornò in Europa lasciando principe reggente in America con poteri illimitati Don Pedro figlio del re Giovanni VI allora regnante. Il Brasile insorse per rendersi indipendente dal Portogallo e nel 1822 il reggente fu nominato imperadore costituzionale sotto il nome di Don Pedro I.

Il Portogallo riconobbe formalmente nel 1825 questo nuovo impero, e fu stabilito che le due corone non potessero mai essere unite in una sola testa. (*N. del T.*)

245. *Quali sono i gruppi delle piccole isole scoperte ultimamente?* Le isole Aleutine, di Sandwich, le isole Marchesi, della Società, dei Navigatori, degli Amici, le isole Fidgi, le Nuove Ebridi, e le isole di Salomone. (9 marche).

246. *Quali sono le grandi isole scoperte ultimamente?* La Nuova Olanda, l'isola di Van-Diemen, la Nuova Guinea, la Nuova Bretagna, la Nuova Zelanda, la Nuova Caledonia e la Nuova Irlanda. (7 marche).

SEZIONE V.

GEOGRAFIA DELLA FRANCIA

LEZIONE I.

ANTICA DIVISIONE DELLA FRANCIA

247. *Come si divideva una volta la Francia?* In trentadue province, venti delle quali erano poste nella circonferenza e dodici stavano nel mezzo. (1 marca).

248. *Come erano disposte queste rispettive province?* Le venti province poste nella circonferenza formavano una specie di quadrato, una parte del quale era al nord, l'altra al levante, l'altra a mezzogiorno e l'altra a ponente; le dodici del mezzo rappresentavano una specie di triangolo, la di cui punta era verso mezzogiorno, e ciascuna parte comprendeva quattro province. (2 marche).

249. *Quali erano le province poste nella circonferenza al nord?* La Normandia, la cui capitale è Roano; la Picardia, la cui capitale è Amiens; l'Artesia o Artois, la cui capitale è Arras; e la Fiandra, la cui capitale è Lilla. (4 marc.)

250. *Quali erano le province poste nella circonferenza all'oriente?* La Lorena, la cui capitale è Nancy; l'Alsazia, la cui capitale è Strasburgo; la Franca-Contea, la cui capitale è Besanzone; la Borgogna, che ha Digione per capitale; il Lionese, che ha Lione per capitale; ed il Delfinato, la cui capitale è Grenoble. (6 marche).

251. *Quali sono le province poste nella circonferenza al mezzogiorno?* La Provenza, la cui capitale è Aix; la Linguadoca, la cui capitale è Tolosa; il Rossiglione, la cui capitale è Perpignano; la contea di Foix, le cui principali città sono, Foix e Pamiers; il Bearn, la cui capitale è Pau. (5 marche).

252. *Quali sono le province poste nella circonferenza all'occidente?* La Guienna, la cui capitale è Bordeaux; la Saintonge e l'Angomese, le cui capitali e principali città sono, Saintes e Angoulême; il Poitou, la cui capitale è Poitiers; l'Aunis, la cui capitale è la Rochelle; e la Bretagna, che ha Rennes per capitale, e la principale città è Nantes. (5 marche).

253. *Quali sono le province del mezzo poste verso il nord?* l'Angiò, la cui capitale è Angers; la Maina, la cui capitale è Mans; l'Orleanese, la cui capitale è Orléans; l'isola di Francia, la cui capitale è Parigi. (4 marche).

254. *Quali sono le province del mezzo poste verso l'oriente?* La Sciampagna, la cui capitale è Troies; il Nivernese, la cui capitale è Nevers; il Borbonese, la cui capitale, è Moulins; l'Alvernia, la cui capitale è Clermont. (4 marche).

255. *Quali sono le province al mezzo poste verso l'occidente?* Il Limosino, la cui capitale è Limoges; la Marca, la cui capitale è Guéret; il Berry, la cui capitale è Bourges; la Turena, la cui capitale è Tours. (4 marche).

LEZIONE II.

NUOVA DIVISIONE DELLA FRANCIA

256. *Come si divide ora la Francia?* In ottantasei dipartimenti, ottantaquattro de' quali hanno i loro capo-luoghi nelle antiche province e due sono fuori delle antiche province di Francia. (3 marche).

257. *Quali sono i due dipartimenti fuori delle antiche province della Francia?* Sono, l'isola di Corsica ed il contado d'Avignone. (2 marc.).

LEZIONE III.

DIPARTIMENTI DEL NORD

258. *Quanti sono i dipartimenti i cui capo-luoghi si trovano nell'antica* NORMANDIA? Cinque, i dipartimenti della Senna inferiore, il cui capoluogo è Roano, e le principali città sono

Dieppe e Yvetot; dell'Eure, capoluogo Évreux, città principali Pont-Audemer e Louviers; del Calvados, capoluogo Caen, città principali Bayeux e Falaise; della Manica, capoluogo Saint-Lô, città principali Valogne, Coutances e Avranches; e dell'Orne, capoluogo Alençon. (6 marche).

259. *Qual è il dipartimento che ha il suo capoluogo nell'antica* PICARDIA? Il dipartimento della Somma, il di cui capoluogo è Amiens. (1 marca).

260. *Qual è il dipartimento che ha il suo capoluogo nell'antica* ARTESIA o ARTOIS? Il dipartimento del Passo di Calais, il cui capoluogo è Arras, e le principali città sono, Calais, Boulogne, Saint-Omer e Montreuil. (1 marca).

261. *Qual è il dipartimento che ha il suo capoluogo nell'antica* FIANDRA FRANCESE? Il dipartimento del Nord il cui capoluogo è Lilla, e le principali città sono, Dunkerque, Douay e Avesnes. (1 marca).

LEZIONE IV.

DIPARTIMENTI AL LEVANTE

262. *Quanti sono i dipartimenti i cui capoluoghi trovansi nell'antica* LORENA? Quattro, e sono, il dipartimento della Meurthe, capoluogo Nancy, città principali Sarrebourg e Lunéville; dei Vosgi, capoluogo Épinal; della Mosa, capoluogo Bar-le-Duc; della Mosella, capoluogo Metz. (4 marche).

263. *Quanti sono i dpartimenti i cui capo-luoghi trovansi nell'antica* ALSAZIA? Due, il dipartimento del Basso-Reno, capoluogo STRASBURGO, città principali Vissemburgo e Scheletstadt; dell'Alto-Reno, capoluogo COLMAR, città principali Altkirch e Belfort o Béfort. (2 marche).

264. *Quanti sono i dipartimenti i cui capo-luoghi sono nell'antica* FRANCA CONTEA? Tre, il dipartimento del Doubs, capoluogo BESANZONE, città principali, Sant'Ippolito e Pontarlier; dell'Alta Saona, capoluogo VESOUL; del Jura, capoluogo LONS-LE-SAULNIER, città principale Dôle. (3 marche).

265. *Quanti sono i dipartimenti che hanno i loro capo-luoghi nell'antica* BORGOGNA? Quattro, il dipartimento della Costa d'Oro, capoluogo DIGIONE, città principali Beaume e Sémur; della Jonna, capoluogo AUXERRE, città principali Tonnerre e Avallon; della Saona e della Loira, capoluogo MACON; dell'Ain, capoluogo BOURG, città principale Nantua. (4 marche).

266. *Quanti sono i dipartimenti che hanno i loro capo-luoghi nell'antico* LIONESE? Due, il dipartimento del Rodano; capoluogo LIONE; della Loira, capoluogo MONTBRISON, città principale Santo-Stefano. (2 marche).

267. *Quanti sono i dipartimenti i cui capo-luoghi stanno nell'antico* DELFINATO? Tre, il dipartimento dell'Isera, capoluogo GRENOBLE; della Drôme, capoluogo VALENZA; delle Alte Alpi, capoluogo GAP. (3 marche).

LEZIONE V.

DIPARTIMENTI AL MEZZOGIORNO

268. *Quali sono i dipartimenti i cui capoluoghi trovansi nell'antica* PROVENZA? Tre, il dipartimento delle Basse-Alpi, capoluogo Digne, città principali Barcelonetta e Forcalquier; del Varo, capoluogo Draguignan, città principali Tolone, Grasse e Frejus; delle Bocche del Rodano, capoluogo Marsiglia, città principale Aix. (3 marche).

269. *Quanti sono i dipartimenti i cui capoluoghi sono nell'antica* LINGUADOCA? Otto, il dipartimento dell'Alta Garonna, capoluogo Tolosa; del Tarn, capoluogo Albi; dell'Aude, capoluogo Carcassona, città principali Castelnaudary e Narbona; dell'Hérault, capoluogo Monpellier, città principali Lodège e Béziers; del Gard, capoluogo Nîmes, città principali Alais e Uzès; della Lozère, capoluogo Mende; dell'Alta Loira, capoluogo Le Puy; dell'Ardèche, capoluogo Privas. (8 marche).

270. *Qual è il dipartimento che ha il suo capoluogo nell'antico* ROSSIGLIONE? Il dipartimento de' Pirenei orientali, il di cui capoluogo è Perpignano. (1 marca).

271. *Qual è il dipartimento che ha il suo capoluogo nell'antica* CONTEA DI FOIX? Quello dell'Arriège, il cui capoluogo è Foix. (1 marca).

272. *Qual è il dipartimento il cui capoluogo*

è nell'antico BÉARN? Quello de' Bassi Pirenei, il cui capoluogo è Pau, e le principali città sono Orthes e Oléron. (1 marca).

LEZIONE VI.

DIPARTIMENTI AL PONENTE

273. *Quanti sono i dipartimenti i cui capoluoghi trovansi nell'antica* GUIENNA? Nove, il dipartimento della Gironda, capoluogo Bordeaux; della Dordogna, capoluogo Périgueux; del Lot e della Garonna, capoluogo Agen; del Lot, capoluogo Cahors, città principale Figeac; dell'Aveyron, capoluogo Rhodez; del Tarn e della Garonna, capoluogo Montauban; delle Lande, capoluogo Mont-de-Marsan; del Gers, capoluogo Auch, città principali Condom e Lectoure; degli Alti Pirenei, capoluogo Tarbes. (9 marche).

274. *Qual è il dipartimento il cui capoluogo trovasi nell'antica* SAINTONGE? Quello della Charente inferiore, il cui capoluogo è la Rochelle, e le principali città sono Saintes e Sanit-Jean-d'Angely. (1 marca).

275. *Qual è il dipartimento il cui capoluogo trovasi nell'antico* ANGOMESE? Il dipartimento della Charente, il cui capoluogo è Angoulême. (1 marca).

276. *Quanti sono i dipartimenti che hanno i loro capo-luoghi nell'antico* POITOU? Tre, il dipartimento della Vienna, capoluogo Poitiers;

delle due Sèvres, capoluogo Niort, città principale Bressuire; della Vandea, capoluogo Borbone-Vandea, città principale Fontenay-le-Peuple. (3 marche).

277. *Quanti sono i dipartimenti i cui capoluoghi trovansi nell'antica* BRETAGNA? Cinque, il dipartimento d'Ille e Vilaine, capoluogo Rennes, città principali San-Malo e Vitré; della Loira inferiore, capoluogo Nantes; del Morbihan, capoluogo Vannes, città principali Ploërmel, Lorient e Porto-Luigi; del Finistère, capoluogo Quimper, città principale Brest; delle Coste del Nord, capoluogo San-Brieux. (5 marc.).

LEZIONE VII.

DIPARTIMENTI DEL MEZZO POSTI VERSO IL NORD

278. *Quanti sono i dipartimenti i cui capoluoghi trovansi nell'antica* ISOLA DI FRANCIA? Cinque, il dipartimento della Senna, capoluogo Parigi, sotto-prefetture San-Dionigi e Sceaux; della Senna e dell'Oisa, capoluogo Versailles; della Senna e della Marna, capoluogo Melan; città principali Coulommiers, Provins e Fontainebleau; dell'Aisne, capoluogo Laon, città principale Soissons; dell'Oisa, capoluogo Beauvais, città principale Senlis. (5 marche).

279. *Quanti sono i dipartimenti che hanno i loro capo-luoghi nell'antico* ORLEANESE? Tre, il dipartimento di Loiret, capoluogo Orléans, città principali Pithiviers e Montargis; del Loir

e del Cher, capoluogo Blois; dell'Eure e del Loir, capoluogo Chartres, città principale Dreux. (3 marche).

280. *Quanti sono i dipartimenti i cui capoluoghi sono nell'antica* MAINA? Due, il dipartimento della Sarta, capoluogo Le Mans; della Maienna, capoluogo Laval. (2 marche).

281. *Qual è il dipartimento che ha il suo capoluogo nell'antico* ANGIO? Quello della Maina e della Loira, il cui capoluogo è Angers, e le principali città sono, Segré, Baugé e Beaupreau. (1 marca).

LEZIONE VIII.

DIPARTIMENTI DEL MEZZO POSTI VERSO ORIENTE

282. *Quanti sono i dipartimenti che hanno i loro capo-luoghi nell'antica* SCIAMPAGNA? Quattro, il dipartimento dell'Aube, capoluogo Troies; dell'Alta Marna, capoluogo Chaumont; della Marna, capoluogo Chalons, città principali Reims, Santa-Ménéhould; delle Ardenne, capoluogo Mézières. (4 marche).

283. *Qual è il dipartimento il cui capoluogo trovasi nell'antico* NIVERNESE? Quello della Nièvre, il cui capoluogo è Nevers. (1 marca).

284. *Qual è il dipartimento il cui capoluogo trovasi nell'antico* BORBONESE? Il dipartimento dell'Allier, il cui capoluogo è Moulins. (1 marca).

285. *Quanti sono i dipartimenti che hanno i*

loro capo-luoghi nell' antica ALVERNIA? Due, il dipartimento del Puy-de-Dôme, capoluogo Clermont, città principale Riom; del Cantal, capoluogo Aurillac. (2 marche).

LEZIONE IX.

DIPARTIMENTI DEL MEZZO POSTI VERSO OCCIDENTE

286. *Quanti sono i dipartimenti i cui capoluoghi trovansi nell' antico* LIMOSINO? Due, il dipartimento della Corrèze, capoluogo Tulle, città principale Brive-la-Gaillarde; dell'Alta Vienna, capoluogo Limoges. (2 marche).

287. *Qual è il dipartimento che ha il suo capoluogo nell' antica* MARCA? Il dipartimento della Creuse, il cui capoluogo è Guêret. (1 marc.).

288. *Quanti sono i dipartimenti i cui capoluoghi sono nell' antico* BERRY? Due, il dipartimento del Cher, capoluogo Bourges, città principale Sancerre; dell' Indro, capoluogo Chateauroux. (2 marche).

289. *Qual è il dipartimento che ha il suo capoluogo nell' antica* TURENA? Quello d' Indro e Loira, il cui capoluogo è Tours, e la principale città è Loches. (1 marca).

LEZIONE X.

DIPARTIMENTI DELLA CORSICA E DEL CONTADO VENESINO

290. *Qual è il dipartimento che trovasi nell'* ISOLA DI CORSICA? Quello della Corsica

stessa, il cui capoluogo è AIACCIO, e le Principali città sono Bastia, Calvi e Coret. (1 marca).

291. *Qual è il dipartimento del contado d'*AVIGNONE? Il dipartimento di Vaucluse, il cui capoluogo è AVIGNONE, e le principali città sono, Orange e Carpentras. (1 marca).

LEZIONE XI.

FORESTE, CANALI, ACQUE MINERALI, E PORTI DI MARE DELLA FRANCIA

292. *Quali sono le principali foreste della Francia*? Le Ardenne che si estendono da Reims a Tournay ed al nord-est fino a Sedan; la foresta di Compiègne, nel dipartimento dell'Oisa; la foresta di Fontainebleau, nel dipartimento della Senna e della Marna; e la foresta d'Orléans, nel dipartimento di Loiret. (4 marche).

293. *Quali sono i principali canali della Francia*? Otto, il canale di Picardia, che unisce la Somma all'Oisa; il canale dell'Ourcq, che conduce a Parigi l'acqua della piccola riviera dell'Ourcq; i canali di Briare, di Montargis, d'Orléans, che riuniscono la Senna alla Loira; il canale di Digione, che unisce la Jonna e la Saona; il canale del Charollais o del Centro, che riunisce la Saona alla Loira; ed il canale Reale o di Linguadoca, che fa comunicare il Mediterraneo coll'Oceano. (8 marche).

294. *Quali sono le più rinomate acque mi-*

nerali di Francia? Quelle di Saint-Amand, nel dipartimento del Nord; di Forges, nella Senna inferiore; di Passy, vicino a Parigi; di Bourbon-les-Bains, nell'Alta Marna; di Plombières, nel dipartimento dei Vosgi; di Bourbon-l'Archambaud e di Vichi, nel dipartimento dell'Allier; di Balaruc, nel dipartimento dell'Hérault, di Bagnères e di Barrège, nel dipartimento degli Alti Pirenei. (10 marche).

295. *Quali sono i porti militari della Francia?* Brest, Rochefort, Tolone che si chiamano di primo ordine; Lorient e Cherbourg, che son detti di secondo ordine. (5 marche).

296. *Quali sono i porti mercantili della Francia?* Dunkerque, Calais, Boulogne, Dieppe, le Havre, San-Malo, Morlaix, Porto Luigi, Croisic, Nantes, le Sables-d'Olone, la Rochelle, Bordeaux, Baionna, Cette e Marsiglia. (16 marche).

LEZIONE XII.

CORTI REALI, DIVISIONI MILITARI, ARCIVESCOVATI E VESCOVATI DELLA FRANCIA

297. *Quali sono le ventisette corti reali di Francia?* Quella di Parigi, Agen, Aix, Aiaccio, Amiens, Angers, Besanzone, Bordeaux, Bourges, Caen, Colmar, Digione, Douai, Grenoble, Limoges, Lione, Metz, Montpellier, Nancy, Nîmes, Orléans, Pau, Poitiers, Rennes, Riom, Roano e Tolosa. (27 marche).

298. *Quali sono le ventuna divisioni militari*

della Francia? La prima divisione è *Parigi*; la seconda, *Châlons;* la terza, *Metz*; la quarta, *Tours*; la quinta, *Strasburgo*; la sesta, *Besanzone;* la settima, *Grenoble;* l'ottava, *Marsiglia*; la nona, *Montpellier;* la decima, *Tolosa*; l'undecima, *Bordeaux;* la duodecima, la *Rochelle;* la decimaterza, *Rennes;* la decimaquarta, *Caen*; la decimaquinta, *Roano*; la decimasesta, *Lilla*; la decimasettima, *Bastia;* la decimottava, *Digione*; la decimanona, *Lione;* la ventesima, *Périgueux;* la ventesimaprima, *Bourges.* (21 marche).

299. *Quanti arcivescovati vi sono in Francia*? Nove, e sono, quelli di Parigi, Besanzone, Lione, Aix, Tolosa, Bordeaux, Bourges, Tours e Roano. (9 marche).

300. *Quanti sono i vescovati dipendenti da questi nove arcivescovati*? Sono quarantuno, cioè:

I vescovati di Troies, Amiens, Soissons, Arras, Cambray, Versailles, Meaux e Orléans, dipendenti dall'arcivescovato di Parigi. (8 marc.)

I vescovati d'Autun, Metz, Strasburgo, Nancy, Digione, dipendenti dall'arcivescovato di Besanzone. (5 marche).

I vescovati di Mende, Grenoble e Valenza, dipendenti dall'arcivescovato di Lione. (3 marche).

I vescovati d'Avignone, Aiaccio e Digne, dipendenti dall'arcivescovato d'Aix. (3 marc.).

I vescovati di Cahors, Montpellier, Carcassonna, Agen e Baionna, che dipendono dall'arcivescovato di Tolosa. (5 marche).

I vescovati di Poitiers, della Rochelle, d'Angouléme, dipendenti dall'arcivescovato di Bordeaux. (3 marche).

I vescovati di Clermont, San-Flour, Limoges, dipendenti dall'arcivescovato di Bourges. (3 marche).

I vescovati di Mans, Angres, Nantes, Rennes, Vannes, San-Brieux, Quimper, dipendenti dall'arcivescovato di Tours. (7 marche).

I vescovati di Coutances, di Bayeux, di Séez, di Évréux, dipendenti dall'arcivescovato di Roano. (4 marche).

SUDDIVISIONE

di alcuni degli Stati d'Europa.

ISOLE BRITANNICHE

L'Inghilterra è divisa in cinquantadue contee, trentasette delle quali sono poste alla circonferenza, e quindici sono nel mezzo. Le trentasette contee poste alla circonferenza formano una specie di quadrato, sei delle quali sono al nord, nove all'est, dieci al mezzogiorno, e dodici all'ouest. Tra le quindici del mezzo ve ne sono tre che formano un triangolo, e dodici che lo circondano.

Contee d'Inghilterra poste alla circonferenza.

Le sei al nord sono: Northumberland (la cui capitale è Newcastle), Durham, Jork, Lancaster, Westmoreland (che ha Appleby per capitale), e Cumberland (la cui capitale è Carlisle).

Le nove all' est sono: Lincoln, Norfolk (la cui capitale è Norwich), Suffolk (che ha Ipswich per capitale), Huntingdon, Cambridge, Bedford, Hertford, Essex (la cui capitale è Chelmsford), e Middlesex (la cui capitale è Londra).

Le dieci al mezzodì sono: Kent (la cui capitale è Cantorbery), Surrey (la cui capitale è Guildford), Sussex (che ha Chichester per capitale), Berk (le cui principali città sono Abingdon e Reading), Hamp o Southampton (la cui capitale è Winchester), Wilts (che ha Salisbury per capitale), Dorset (che ha Dorchester per capitale), Somerset (le cui principali città sono Bath e Wells), Devon (la cui capitale è Exeter), Corwall o Cornouialles (che ha Launceston per capitale).

Le dodici all' ouest sono: Glamorgan (la cui capitale è Cardiff), Brecknock (la cui capitale è Brecon), Radnor (che ha Preisteign per capitale), Caermathen, Pembroke, Cardigan, Montgomery, Merioneth (la cui capitale è Harlech), Caernarvon, Anglesey (la cui capitale è Beaumaris), Denbigh e Flint.

Contee d'Inghilterra che sono nel mezzo.

Le tre che formano il triangolo sono: Stafford, Warwich e Worcester.

Le dodici che circondano le altre tre sono: Chester, Derby, Nottingham, al nord; Leicester, Rutland (che ha Okeham per capitale), Northampton, all' est; Buckingham, Oxford, Glocester, al mezzodì; Monmouth, Hereford e Shrop (la cui capitale è Shrewsbury), all' ouest.

SVEZIA

La Svezia propriamente detta è divisa in cinque parti, cioè: la Gozia, le cui principali città sono, Gotemburgo, Jonkoping, Calmar e Carlscrona; la Svezia così particolarmente chiamata, le cui principali città sono, Stockholm, Upsal, Westeras, Orebro e Nycoping; il Westmorland, le cui principali città sono, Galfe e Soderhamn; la Botnia occidentale, la cui capitale è Tornea, e la Laponia, che è poco abitata.

Le principali città della Norvegia sono, Christiania, Christiansand, Stavanger, Bergen e Drontheim.

Per quanto risguarda le isole possedute dalla Svezia vedasi il n.° 129.

RUSSIA

La parte al nord è divisa in sedici governi o province, cioè: la Botnia orientale, la cui capitale è Uleaborg; la Finlandia, la cui capitale è Abo; i governi d'Arcangelo, di Wiburgo, d' Olonetz (la cui capitale è Petrozavodsk), di Volodga, Pietroburgo, Estonia (la cui capitale è Revel), di Livonia (la cui capitale è Riga), di Pskov, di Novgorod, di Twer, di Jaroslav, di Kostroma, di Viatka e di Perme.

La parte del mezzo è divisa in dieci governi, cioè: Smolensk, Kalouga, Mosca, Toula, Riazan, Wladimir, Niznie-Novgorod, Penza, Kazan e Simbirsk.

La parte al mezzogiorno è divisa in quindici governi o province, cioè: i governi di Tschernigow, d'Orel, di Tambov, di Kiev, di Pultava, d' Ukraina (la cui capitale è Karkov), di Koursk, di Voronez, di Saratov, di Kerson, d'Ecatherinoslav, della Tauride (la cui capitale è Perekop), ed il governo dei Cosacchi del Don (la cui capitale è Tscherkask), la Bessarabia (la cui capitale è Bender), e la Moldavia orientale (la cui capitale è Ismail).

Delle isole che appartengono alla Russia si è parlato al n.° 130, cui si può ricorrere.

GERMANIA

De' possedimenti austriaci si parla diffusamente nell' aggiunta fatta a quest' opera, e posta alla fine.

I possedimenti prussiani si dividono in otto parti, cioè: la Prussia orientale o ducale, la cui capitale è Konisberga; il gran ducato di Posen, le cui principali città sono, Danzica, Graudentz, Culm, Thorn, Gnesme e Posen; la Pomerania, le cui principali città sono, Stettino, Colberg e Stralsunda; il marchesato di Brandeburgo, le cui principali città sono, Berlino, Brandeburgo, Potzdam e Prenslow; il ducato della Slesia, la cui capitale è Breslavia; i dominii in Sassonia, le cui principali città sono, Gorlitz, Wittemberg, Magdeburgo, Erfurt; i possedimenti in Westfalia, le cui principali città sono, Munster, Minden, Paderborn, Fulda, Dusseldorf; il gran ducato del Basso Reno, le cui principali città sono, Clèves, Gueldria, Aquisgrana, Juliers, Colonia e Trèves.

Città di Germania degne di osservazione di cui non si è parlato in questa geografia.

Sassonia. Lipsia.

Annover. Embden, Osnabruck, Gottinga.

Baviera. Norimberga, Anspach, Salisburgo.

Gran ducato di Baden. Baden e Costanza.

Sulla riva sinistra del Reno. Worms, Spira, Due Ponti.

Città che meritano d'essere distinte pe' loro porti di mare, e che non sono state nominate in questa geografia.

Mar Baltico. Pillau, Rostock.

Mare del Nord. Tonningen, Flessinga, Ostenda, Nieuport, Deal, Margate, Jarmouth, Leith o porto d'Edimburgo, Aberdeen, Inverness.

Mare della Manica. Douvres, Portsmouth, South-hampton, Pool, Dartmouth, Plymouth, Falmouth.

Mare d'Irlanda. Liverpool, Chester.

Oceano. Cork, Bristol, Fontarabie, San-Sebastiano, Saint-Ander.

Mediterraneo. Gibilterra, Tarragona, Civita-Vecchia, Gaeta.

Adriatico. Zara, Durazzo.

Arcipelago. Napoli di Malvasia.

Mar Nero. Varna, Kaffa o Teodosia.

PARTE SECONDA

Esercizio sulle particolarità geografiche ed istoriche della terra.

DIMANDE E RISPOSTE

Nota. Nel far queste dimande bisognerà fermarsi a ciascun' interrogazione, per lasciar allo scolaro il tempo di rispondere, e si aggiungeranno ad ogni dimanda le parole: *Qual è*, *Quali sono*, che si mettono una volta sola al principio de' paragrafi, ed in mezzo della pagina, per brevità.

§ I. Stati

Qual è lo Stato d'Europa

Che è circondato dal mare da tutte le parti, e comprende tre regni? *In cui* si contengono due grandi isole nell' Oceano, e molte altre piccole? (Le Isole Britanniche).

Che è contornato dal mare al nord, all' est ed all' ouest e dalla Germania al mezzogiorno? *Dal quale* sortirono i Cimbri che uniti ai Teutoni volendo impadronirsi dell' impero romano con un esercito considerabile, furono vinti dal console Mario? (La Danimarca).

Che confina al nord col mar Glaciale; al mezzogiorno col mar Baltico; ad occidente coll' Oceano, il Sund ed il Cattegat? (La Svezia e la Norvegia).

Che confina col mar Glaciale al nord, coll'Asia all' est; col mare d'Azof o di Zabacche e col mar Nero al mezzogiorno; colla Polonia e la Svezia all' occidente? (La Russia).

Che confina colla Manica e coi Paesi-Bassi al nord; colla Germania, la Svizzera e l'Italia, all' est; col Mediterraneo e la Spagna al mezzogiorno? *Che* anticamente fu chiamato dai Romani Gallia Transalpina? *Che* fu dagli stessi Romani diviso in quattro differenti parti, chiamate Gallia Belgica o Comata, Gallia Narbonese o Braccata, Aquitania, e Gallia Celtica o Lugdunensis? (La Francia).

Che confina colla Polonia, Boemia, Ungheria, all' est; col mar Baltico e col Jutland al nord; colla Francia e co' Paesi-Bassi all'ouest; colla Svizzera e l' Italia al sud-ouest, e colla Turchia al sud-est? *Che* era una volta divisa in nove circoli, cioè: l'Alta Sassonia, Bassa Sassonia e la Westfalia, al nord; l'Alto Reno, il Basso Reno e la Franconia nel mezzo; la Svevia, la Baviera e l'Austria al mezzogiorno? (La Germania).

Che confina colla Slesia all' ouest; coll' Ungheria e la Moldavia al mezzogiorno; colla Prussia ed una parte della Russia al nord; ed all' est colla Russia meridionale? (La Polonia).

Che confina al nord ed all' ouest col mar di Germania o Nord; ed al sud colla Francia? *Che* in addietro si chiamava Belgico, ed è stato abitato dagli antichi Batavi? (I Paesi-Bassi.

Che confina col Tirolo all' est, ed all'ouest colla Francia; al nord colla foresta Nera ed una parte della Germania, ed al mezzogiorno coll' Italia? *Nel quale* in un cantone chiamato Glaris, evvi una cava di marmo e d' ardesie su cui veggonsi impressi de' pesci di diverse specie, tra le quali anche di quelli delle Indie; il che ricorda, per quanto dicesi, il diluvio universale? (La Svizzera).

Che confina al nord col mar Baltico, all'est ed al sud colla Polonia ed all' occidente col gran ducato di Posen? (La Prussia ducale).

Che confina al nord, al sud, all' ouest colla Germania, all' est colla Polonia e l'Ungheria? (La Boemia).

Che confina al nord colla Gallizia e la Boemia; all' ouest colla Germania, al sud ed all' est colla Turchia? (L'Ungheria).

Che confina all'ouest ed al sud coll'Oceano; al nord ed all' est colla Spagna? *Che* anticamente si chiamava Lusitania? (Il Portogallo).

Che confina al nord colla baia di Biscaglia ed i Pirenei; all'est col Mediterraneo; al sud in parte collo stesso mare ed in parte collo stretto di Gibilterra ed all'occidente col Portogallo e l' Oceano? *Che* fu chiamato in passato Iberia ed Esperia? (La Spagna).

Che confina al nord colla Svizzera e la Germania; all' est ed al nord-est col golfo di Venezia; al sud-est e sud-ouest col Mediterraneo ed al nord-ouest colla Francia? *Che* è

stata chiamata dagli antichi Saturnia, Enotria, Esperia, Ausonia e Tirrenia? *Che* nella parte settentrionale conteneva le Gallie Transpadane e Cispadane. *Che* nella parte meridionale aveva l'Etruria, il Lazio e la Magna Grecia? (L'Italia).

Che confina al nord colla Russia, la Polonia, l'Ungheria e la Germania; all' est col mar Nero ed il mar di Marmara; all'ouest col mar Jonio ed il golfo di Venezia ed al sud col Mediterraneo? *Che* nella sua parte settentrionale comprendeva una volta l'Illiria e la Dacia? *Che* nella parte meridionale conteneva la Tracia e la Grecia? *Nel quale* trovasi l'Albania, che comprendeva anticamente l'Epiro ed una parte della Macedonia? *Nel quale* trovasi la Livadia, nella quale si conteneva una volta sotto il nome d'Acaia, l'Etolia, la Focide, la Beozia e l'Attica? (Fu appunto in Attica che Meleagro uccise colle proprie mani il cignale d'Erimanto, e ne presentò la testa ad Atalanta). *Nel quale* trovasi la Morea, chiamata una volta Peloponneso, che era divisa in sei province, cioè: l'Acaia così chiamata propriamente, l'Argolide, l'Elide, l'Arcadia, la Laconia e la Messenia? (La Turchia Europea).

Qual è lo Stato in Asia

Che confina al nord con un grande muro lungo circa quattrocento leghe? *In cui* le donne portano delle scarpe molto strette, e fanno consistere la loro bellezza nell'avere i piedi piccoli come quelli de' fanciulli? (La China).

Qual è lo Stato d'Affrica

Che dagli antichi si chiamava Mauritania, Numidia propria, Affrica e Libia? (La Barbaria).

Che è il solo Stato d'Affrica che non sia bagnato da alcun mare? (La Nigrizia).

Qual è la Stato d'America

Il clima del quale, duecento anni fa, era estremamente freddo, ma che al presente ogni anno diventa sempre più caldo, dopo che i Francesi e gl' Inglesi vi hanno tagliate molte foreste? (Il Canadà).

In cui si trova il territorio delle Missioni o paese delle Amazzoni, scoperto da Francesco Orellana, e così denominato, perchè parve ai navigatori di aver veduto delle compagnie di donne armate? (Il Brasile).

§ II. Divisione degli Stati

Qual è la parte d'Europa

Che si chiamava Caledonia, e nella quale si trovano le università di Edimburgo e di Glasgow? (La Scozia).

In cui si trovano le rovine di un gran muro fabbricato dall' imperator Adriano per difendersi dalle incursioni de' Pitti che i Romani non poterono mai domare? *Nel quale*, dall' anno 956 a questa parte, grazie alle cure

del re Eduardo, non vi sono più nè lupi nè altre bestie selvagge che lo devastano? (L'INGHILTERRA).

Che comprende quattro grandi province, cioè: Ulster al nord, Leister all'est, Munster al sud, e Connaught all'ouest? *Che* ha meritato il nome d'isola de' Santi, per aver essa dati molti santi? (L'IRLANDA).

Che confina al sud-est col ducato d'Holstein, e che si chiamava in addietro Chersoneso cimbrico? (IL JUTLAND).

Il di cui nome significa, nella lingua del paese, strada del Nord? (LA NORVEGIA).

Ove trovasi un animale simile al cervo, ma un po' più piccolo d'un cavallo, di cui gli abitanti si servono per viaggiare, ne mangiano la carne, e si coprono colla sua pelle? (LA LAPONIA SVEDESE).

Che è diviso in due parti da un golfo che porta lo stesso nome? (LA BOTNIA).

Da dove sortirono i Franchi che acquistarono le Gallie, e diedero il loro nome a questo paese? (L'ANTICO CIRCOLO DI FRANCONIA).

Che comprende le province chiamate Terra di Lavoro, Abruzzi, Puglia, Calabria? (IL REGNO DI NAPOLI).

Qual è la parte dell'Asia

Ove gli Ebrei dimorarono quarant'anni sotto la direzione di Mosè? (L'ARABIA PETREA).

Ove è Nicopoli, città d'Armenia, fabbricata

da Pompeo in memoria d'una vittoria da lui riportata sulle truppe di Mitridate? *Che* contiene la Georgia turca o Mingrelia, che si chiamava una volta Colchide, e tanto famosa per la spedizione degli Argonauti e la nascita di Medea? (La Turchia in Asia all'est).

Che confina al nord col mar Nero; all'est colle province orientali della Turchia Asiatica, all'ouest col mar di Marmara e l'Arcipelago? *Che* si chiamava una volta Asia Minore? *In cui* sulle coste del mar Nero, dall'est all'ouest, trovavansi le province di Ponto, di Paflagonia e la Bitinia? *Che* comprendeva sull'Arcipelago dal nord al sud, la Troade, la Misia e la Jonia? *Che* aveva nel Mediterraneo, dal nord al sud, le province di Caria, Licia, Pamfilia e Cilicia? *Che* conteneva nel mezzo, dall'est all'ouest, le province di Capadocia, di Galazia, di Frigia e di Lidia? *In cui* Mitridate, re di Ponto, sostenne per quarant'anni una grande e pericolosa guerra contro i Romani? (La Natolia).

Qual è lo Stato d'Affrica

Che si chiamava in passato Libia, ove era il famoso tempio di Giove Ammone, al quale difficilmente si poteva avvicinare, in causa delle sabbie ardenti da cui era circondato? (Il Regno di Barca).

Che si chiamava una volta Affrica Tripolitana, perchè vi si contenevano tre grandi città? (La Repubblica di Tripoli).

Che si chiamava Affrica Propria, la cui capitale era Cartagine? (La Repubblica di Tunisi).

Che si chiamava una volta Numidia, ove regnarono Massinissa, Giugurta, Siface e Giuba? (La Repubblica d'Algeri).

Che si chiamava una volta Mauritania Tingitana? (L'Impero di Marocco).

Qual è la parte d'America

Che trovasi al nord del Canadà, nella parte comunemente chiamata paese degli Eschimesi, e che contiene il nuovo paese di Galles? (La Nuova Bretagna).

§ III. Principali citta' d'Europa

Qual è la città nelle isole Britanniche

Che era una volta la capitale dei re bretoni? *Che*, nella lingua del paese, significa città dell'Abate, e che così fu chiamata perchè i re sassoni vi fondarono una ricca abazia? (Abingdon).

Che è la capitale di Sommersetshire, ove nacque Giovanni Locke, illustre filosofo, l'amico de' fanciulli, il quale pretende che sia loro rappresentato lo studio come una cosa onorevole e piacevole? (Bristol).

Ove il famoso arcivescovo Tomaso Becket fu assassinato davanti l'altare della cattedrale sotto il regno di Enrico II, re d'Inghilterra? (Cantorbery).

Ove vedesi un cannone di bronzo lungo ven-

tidue piedi? — Gli stati d'Utrecht lo presentarono alla regina Elisabetta, e fu chiamato la sua terzetta o piccola pistola. (Douvres).

Che è la capitale di Devonshire, e che una volta era bagnata dal mare, ed ora ne è distante circa venti miglia? (Exeter).

Ove Edmondo II, ultimo re de' Sassoni, e Canuto il Grande, primo re de' Danesi, dopo aver deposte le spade in un singolare combattimento, si divisero amichevolmente il regno d'Inghilterra? (Glocester).

Che è la capitale della provincia di Surry in Inghilterra? *Ove* i baroni inglesi, opponendosi, nel 1216, al governo dispotico del loro re Giovanni, ottennero il famoso privilegio della Magna Carta? (Guildford).

Che è la capitale d'una provincia d'Inghilterra chiamata Hertfordshire? *Ove* i Danesi, nel 1789, avevano due bei forti per sicurezza dei loro vascelli sulla riviera Lea, che tutto in una volta si trovò disseccata? — Alfredo re d'Inghilterra, col quale erano in guerra, fu quegli che colla sua destrezza la fece disseccare. Essendo egli padrone della riviera al di sopra de' forti dei Danesi, potè con facilità farne deviare il corso. — *Che* trovasi vicino ad un piccolo luogo chiamato Welwyn, ove gli Inglesi cominciarono la strage generale de' Danesi, nella notte di san Brice, l'anno 1012? (Hertford).

Che è in Iscozia, vicino al luogo ove gl'In-

glesi, nel 1746, attaccarono il presidente Eduardo Stuart? — Questo principe fu vinto, e, trovandosi esposto a gravi pericoli, dovette salvarsi vestito da fanciulla, imbarcandosi su d'alcuni vascelli che il re di Francia aveva fatti equipaggiare per favorire la sua fuga. (Inverness).

Ove nacque Isacco Newton, celebre geometra inglese, che scoperse il principio del movimento della natura? — Un pomo da lui veduto cadere nel suo giardino gli fece fare delle riflessioni che lo guidarono a questa grande scoperta. — *Ove* vedesi la famosa campana chiamata Tom? — Ella pesa cinque tonnellate, corrispondenti a cinquemila libbre metriche, ha ventitre piedi di circonferenza, e si dice che può contenere mille e settecento pinte di birra. (Lincoln).

Che è una delle prime città d' Irlanda, che nel 1689 fu assediata da Giacomo II re d' Inghilterra, in persona? — Un prete irlandese, protestante, vi si distinse con prodigi di valore, ed obbligò il re a ritirarsi dopo sei settimane. (Londonderry).

Che ha la chiesa metropolitana, dedicata a san Paolo, ed è la più bella del mondo dopo san Pietro di Roma? *Ove* esiste una colonna alta duecento piedi, e che ne ha quindici di diametro, fabbricata in memoria d' un incendio, che nel 1666 abbruciò quasi intieramente la città? *In cui* avvi più di un milione di

abitanti, e nelle di cui strade sonovi da tutte e due le parti de' bellissimi marciapiedi per comodo e sicurezza dei pedoni? (Londra).

Che è distante dodici miglia da Naseby, ove l'armata del parlamento, nel 1645, ottenne una decisiva vittoria su Carlo I re d'Inghilterra? (Northampton).

Ove evvi una celebre università, e nelle cui vicinanze si uniscono le due riviere Tam e Yse, e formano il Tamigi? (Oxford).

Che ha una cattedrale molto rinomata per il suo campanile, il più alto dell'Inghilterra? — Esso ha dodici porte che corrispondono ai dodici mesi, e trecento sessantacinque finestre corrispondenti ai giorni dell'anno. (Salisbury).

Ove l'imperatore Carlo V s'imbarcò sulla flotta inglese per ritornare dall'Inghilterra in Ispagna? *Ove* Filippo II sbarcò per andare a sposare Maria, regina d'Inghilterra? (Southampton).

Ove il valoroso Guy, conte di Warwick, abbattè ed uccise in seguito, in un singolare combattimento, il famoso gigante danese Colfrando Colebrand? (Winchester).

Che si considera come un villaggio, e dove i re d'Inghilterra hanno la loro casa di campagna? *Ove* Eduardo III istituì l'ordine della Giarretteria, quando la contessa di Salisbury, sua favorita, si lasciò cadere in un ballo un legaccio. Il re lo raccolse esclamando: *Disprezzati sian coloro che ne mormoreranno!* (Windsor).

Ove Cromwell, nel 1651, sconfisse gli Scozzesi, venuti per obbligarlo a rimettere sul trono Carlo II? *Ove* Cromwell battè Carlo II, il quale, per salvarsi dal suo vincitore, stette nascosto molte ore in una crepatura, di una grossa quercia? (Worcester).

Che dà il nome ad uno de' figli del re d'Inghilterra, ed ove morirono l'imperator Severo, ed il padre del Gran Costantino? (York).

Qual è la città della Danimarca

Che trovasi nell'isola di Zelanda, al nord di Copenaghen, dirimpetto ad Helsimburgo, ed ove tutti i vascelli che passano lo stretto del Sund pagano un diritto al re di Danimarca? (Helsingor).

Qual è la città della Svezia

Che è tanto rinomata perchè sotto la regina Margherita, nel 1395, vi si fece il trattato d'unione delle tre corone di Svezia, Danimarca e Norvegia? *Che* è separata dall'isola d'Oland da uno stretto, in mezzo del quale trovasi una sorgente d'acqua dolce? (Calmar).

Ove il fumo delle fucine è tanto denso, che, quando il vento dell'ouest lo spinge sulle case, gli abitanti sono obbligati di accendere il lume anche a mezzogiorno? (Coperberg).

Ove, nell'anno 1619, Gustavo-Adolfo, re di Svezia, e Cristiano IV, re di Danimarca, si abboccarono? (Helmstadt).

Il nome della quale, nella lingua del paese, significa fabbricata su de' pali? — Le case sono quasi tutte di legno, ed è posta su due penisole che formano sette scogli nel lago di Meler. (Stockholm).

Qual è la città della Norvegia

Che è uno de' porti di mare della Norvegia, dal quale solo si distribuisce a questo paese il grano proveniente dall'estero? (Bergen).

Che ha due nomi, uno de' quali trae origine da Cristiano IV, re di Danimarca, che la fece fabbricare, e l'altro dalla baia sulla quale è fabbricata? (Christiania o Anslow).

Ove stavano una volta i re di Norvegia, e che nel momento fa un considerabile commercio di legnami, pesci e rame? (Drontheim).

Ove Carlo XII, re di Svezia, fu ucciso assediando questa città? (Friderichstadt).

Qual è la città della Russia

La quale sta sulla Dwina, che una volta faceva un commercio floridissimo, ridotto ora quasi a nulla dopo la fondazione di Pietroburgo? (Arcangelo).

Che era anticamente la capitale dell'impero russo, ed ove vedesi, nella chiesa dell'Assunzione, la campana più grossa che si trovi al mondo? — Essa ha una circonferenza di sessantaquattro piedi nell'esterno, ed è grossa due piedi, e dicesi che pesi trecentoventimila lib-

bre. — *Dalla* quale comincia una strada di duecento leghe, che conduce in linea diretta a Pietroburgo? (Mosca).

Ove Carlo XII, re di Svezia, in età ancora di 19 anni, nel 1700, ottenne una vittoria completa su Pietro il Grande? — Lo czar Pietro, disse in quell'epoca: « Io temeva che gli Svedesi ci battessero; ma son certo che a forza di batterci insegneranno a noi pure la maniera di vincerli. » (Narva).

Il nome della quale significa borgo di Pietro, e che fu fabbricata nel 1703 sulla Newa, da Pietro il Grande, in onore dell'apostolo san Pietro? (Pietroburgo).

Che sta al sud-est di Kiev, e che è celebre per molte battaglie che vi si sono date: una nel 1389, tra Tamerlano, imperatore del Mogol, e Vitold, gran-duca di Lituania, che vi fu disfatto; l'altro nel 1709, tra Pietro il Grande e Carlo XII, re di Svezia, che vi fu vinto, e dove cominciò la fortuna ad abbandonarlo? (Pultava).

Che era una volta una delle città anseatiche, e sostenne, nel 1570, un grande assedio contro Magno, duca d'Holstein, ed un altro contro i Moscoviti nel 1557? (Revel).

Qual è la città di Francia

Che, nel 1597, fu presa dagli Spagnuoli con una furberia piacevolissima? — Alcuni d'essi trasvestiti da villani, finsero di voler introdurre in città un carro di noci; quando la porta

fu aperta, slegarono un sacco, ed i soldati della guardia corsero per impadronirsene; allora i supposti villani si scagliarono su de' soldati, e, sostenuti dagli Spagnuoli, s'impadronirono della città. (Amiens).

Che è tra Nîmes e Montpellier, e che nel secolo decimoterzo era buon porto, ed ora è distante due leghe dal mare? *Ove* san Luigi s'imbarcò due volte per seguire le crociate, cioè, nel 1248 e 1269? *Ove* si abboccarono Francesco I e Carlo V nel 1538? (Aigues-mortes).

Ove vedesi tuttora, nel giardino botanico, un' urna di porfiro che si crede sia stata impiegata alle nozze di Cana? *Che* è rinomata per le belle cave di ardesie che si trovano nei suoi contorni? (Angers).

Ove Enrico IV, nel 1589, riportò una grande vittoria sul duca di Maienna, capo della Lega? (Arques).

Ove le donne hanno un diritto di marciare per le prime in una processione? — Dicesi che ciò sia stato loro accordato in memoria dell'intrepidità con cui, nel 1742, respinsero le truppe di Carlo di Temerario, duca di Borgogna, dopo che i loro mariti erano stati messi in ritirata. (Beauvais).

Ove Enrico III, in una riunione degli stati generali, nel 1588, fece assassinare il duca di Guisa, e suo fratello il cardinale? (Blois).

Ove, nel 1438, si fece la prammatica-sanzione, ed ove nacquero Luigi XI, i famosi padri Bourdaloue, d'Orléans e Labbe? (Bourges).

Che pe' suoi grandi magazzini, arsenali e passeggiate alle sponde del mare vien riputato il più bel porto della Francia, nella cui rada possonvi stare con tutta sicurezza cinquecento vascelli di linea? (Brest).

Ove trovasi nell'Allier un ponte che ha un sol arco, fatto dai Romani? (Brioude).

Ove è stato sepolto Guglielmo il conquistatore, in un' antica abazia da lui stesso fondata, e dedicata a santo Stefano? (Caen).

Che fu presa d'assalto da Enrico IV, nel 1580, e dove per la prima volta si fece uso de' petardi? (Cahors).

I di cui abitanti, assediati dagl'Inglesi, nel 1347, si difesero con un coraggio incredibile contro Eduardo III, re d'Inghilterra? — Questo re si decise di accordar la capitolazione col patto però che sei tra i principali cittadini venissero in camicia e colla corda al collo a portargli le chiavi della città e subire in seguito la morte; Eustachio di Saint-Pierre, e cinque altri individui furono quelli che generosamente si sacrificarono pel bene della loro patria. Eduardo, commosso dalle preghiere della sua sposa, perdonò loro. (Calais).

Ove si son date tre battaglie contro tre Filippi di Francia? — La prima nel 1071, contro Filippo I, che vi fu disfatto da Roberto il Grigione; la seconda nel 1328, contro Filippo il Bello, che guadagnò una vittoria e saccheggiò la città; la terza nel 1677, contro Filippo

duca d'Orléans, che vi battè il principe d'Orange, e prese la città. (Cassel).

Ove Filippo di Valois fu disfatto da Eduardo III, re d'Inghilterra, nel 1346, e dove gl'Inglesi, per la prima volta, fecero uso del cannone? (Crécy).

Che è nel dipartimento dell'Isera, e vicino alla grotta della Nostra Signora di Balmo? — Questa è una caverna con uno stagno d'acqua nel quale Francesco I s'è internato per circa due leghe. (Cremieu).

I cui abitanti avendo scoperto la Guinea, ne trasportarono de' denti d'elefante, e mettendosi a lavorarli, si fecero in seguito un ricco commercio di tutte sorta di lavori d'avorio? (Dieppe).

Che, nel secolo decimoquinto, era la capitale del regno di Borgogna, ed ove nacquero Bossuet, Longepierre, Crébillon e Bouhier? (Digione).

Che trovasi nel dipartimento della Maina e della Loira, ove si è trovato un vasto e profondo anfiteatro costrutto dai Romani? — Questo è scavato in una rupe, e si vede ancora intorno all'arena de' luoghi in cui si tenevano gli animali che vi si facevano combattere. (Doe o Doué).

Ove sono gli avanzi della Torre senza veleno, così chiamata perchè non vi si sono mai veduti insetti velenosi, e quelli che vi sono stati portati, ne son tosto partiti? *Che* trovasi alla

distanza di tre leghe da Fontana ardente? — Questo è un pezzo di terra lungo otto piedi e largo quattro, dal quale sortono delle fiamme rosse e turchine, dell'altezza circa d'un mezzo piede; esse abbruciano la carta, la paglia e la legna: la sol cosa che non vi si accende è la polvere da schioppo. (Grenoble).

Ove eranvi ultimamente due magnifici ospedali, in uno de' quali, chiamato lo spedale Contessa, i malati vi erano serviti in argenteria? (Lilla).

Che è vicino a San-Gobin, nota pei superbi specchi che vi si fabbricano, e che si mandano a perfezionare a Parigi? (La Fère).

Che fu fabbricata cinquecentotrentanove anni avanti Gesù Cristo, dai Focesi, fuggiti dall'Asia in Francia per sottrarsi alla tirannia dei Persiani? *Che* ricevette, son già mille e trecento anni, dall'Asia Minore la prima vigna che sia stata piantata in Francia? *Che* fu chiamata da Cicerone l'Atene dei Galli, e da Plinio la Padrona dell'educazione? (Marsiglia).

Che è fabbricata sulla riviera dell'Ill, nell'antica Alsazia, che dai Tedeschi fu chiamata casa de' Mulini, per la gran quantità di mulini che vi si vedevano? (Mulhausen).

Ove risiedevano gli antichi duchi di Bretagna, dove Enrico IV, nel 1598, pubblicò il famoso editto di tolleranza, che fu poi rivocato da Luigi XIV? (Nantes).

Che è la patria dell'imperatore Marc'Aure-

lio, e che produce del mele il più stimato in Francia? (Narbona).

Che una volta riceveva l'acqua col mezzo del magnifico acquedotto sul ponte del Gard? — Questo ponte che si dice fabbricato sotto l'imperatore Antonio, riunisce due montagne, ed ha tre file d'archi gli uni sopra gli altri. (Nîmes).

Che deve il suo nome, ed il conto in cui è tenuta ad una ricca abazia, ove veggonsi delle isole galleggianti? — Questi sono piccoli pezzi di terreno con degli alberi che galleggiano sopra l'acqua, e che con molta facilità si possono far andare da un luogo all'altro. (S. Omer).

Che ha sostenuto due assedi memorabili, uno nel 451 contro il terribile Attila; l'altro nel 1428 contro gl'Inglesi, che furono respinti da Giovanna d'Arco, chiamata la Pulcella d'Orléans? *Che* sotto i quattro re figli di Clodoveo, fu la capitale del regno che toccò a Gontran, il di cui nome viene dal latino *Aurelianum?* (Orléans).

Ove si vede un pozzo la di cui acqua rigurgita straordinariamente ne' tempi piovosi, e getta fuori una quantità grande di pesci? (Ornans).

Il nome della quale in latino è *Lutetia da luteus*, che significa giallastro o di fango? *Che* possiede uno de' più famosi musei di pittura e scultura che trovar si possa nel mondo? (Parigi).

Ove Eduardo, il principe Nero, nel 1356, fece prigionieri il re di Francia Giovanni e suo

figlio Filippo, che condusse in seguito in Inghilterra? (Poitiers).

Che ha un ponte sull'Oisa, da cui deriva il suo nome? *Che*, nel 1435, fu presa dagl'Inglesi con un singolare stratagemma?—In una notte, in cui tutta la terra era coperta di neve, si avvicinarono alla città coperti con dei panni bianchi, vestiti tutti di bianco, portando delle scale bianche; con questo mezzo riuscì loro di salire sulle mura senza essere veduti. (Pontoise).

Ove, nel 1557, Filippo II, re di Spagna, guadagnò su de' Francesi una grande battaglia in memoria della quale fece fabbricare nelle vicinanze di Madrid il palazzo dell'Escuriale? (San-Quintino).

Ove si consacrano i re di Francia, e dove Clodoveo fu battezzato? (Reims).

Il cui porto è difeso da due torri distanti sette tese l'una dall'altra, con una catena, che nella notte ne impedisce l'entrata? (La Rochelle).

Ove Giovanna d'Arco fu abbruciata come una maga, e dove nacquero i due Corneille e Fontenelle? *Ove* vedesi un ponte selciato costrutto su de' battelli, che s'alza e s'abbassa colla Senna, a seconda del flusso e riflusso? (Roano).

Ove trovansi un bell'anfiteatro, degli acquedotti, ed un arco trionfale costrutto sul ponte della Charente? (Saintes).

Ove i Calvinisti sostennero un assedio memorabile nel 1513, contro le truppe di Carlo IX?

— Vi si mangiò del cuoio, delle pergamene ed ogni sorta d'animali. (Sancerre).

Ove si è costrutto sulla Loira un superbo ponte di dodici archi ellittici, ciascuno de' quali ha sessanta piedi di diametro, ed ove è nata la celebre signora Dacier? (Saumur).

In cui evvi una cattedrale che ha per campanile una torre alta cinquecentosettantaquattro piedi, ed un orologio molto rinomato? — Questo orologio ha vari quadranti per indicare le ore, i giorni, le settimane, i mesi ed il corso di molti pianeti? (Strasburgo).

Che sulla Loira ha uno dei più bei ponti di Europa, formato di quindici archi ellittici, ciascun de' quali ha settantacinque piedi di diametro? (Tours).

Che fu conquistata da Luigi XIV su degli Spagnuoli nel 1677, e dove si fabbricano de' pizzi molto stimati? (Valenciennes).

Che è il capoluogo d'un dipartimento ove trovasi la caverna di Leuge? — Vi si vede una ghiacciaia naturale e perenne, ed un piccolo ruscello che vi si agghiaccia in estate e scorre nell'inverno. Quando si vede della nebbia nella caverna, è un indizio certo che deve piovere all'indomani: i contadini vengono a consultare questo barometro naturale. (Vesoul).

Ove nel 1311, vi si tenne un famoso concilio in presenza del papa Clemente V; di Filippo il Bello, re di Francia; di Eduardo II, re d'Inghilterra; di Giacomo II, re d'Arragona,

per proclamarvi l' abolizione dell' ordine Templari di Gerusalemme ? (Vienna).

Che trovasi nell' antico Rossiglione e vicino ad una montagna ove scorgesi una singolare caverna ? — Vi si sale per una scala di cinquecento gradini, e vi si vedono, di distanza in distanza, de' pezzi di ghiaccio che sono attaccati alla volta. (Villefranche).

Qual è la città di Germania

Che Carlo Magno scelse per sede del suo impero, ed ove fu sepolto ? *Ove* conservavasi una volta la spada colla cinta ed il libro degli Evangeli di Carlo Magno, che servivano per l' incoronazione degl' imperatori ? (Aix-la-Chapelle o Aquisgrana).

Che trovasi nell' antico circolo di Franconia, ed ove nacque Giovanni Filippo Baratier? — Dicesi che questo straordinario ragazzo sapesse a sei anni il greco, il latino, l' ebreo, il tedesco ed il francese, a undici anni era conosciuto come autore, e morì nell' età di diciannove, nel 1740, colla fama di un perfetto letterato. (Anspach).

Ove i Luterani, nel 1530, presentarono i loro nuovi articoli di fede, e dove, nel 1555, si stabilì nell' impero il sistema di tolleranza e si fece la pace di religione? (Augusta).

Che è fabbricata sul pendio d' una collina, ed il suo nome trae origine dal latino *clivus*, che significa pendio ? (Clèves).

Ove, nel 1514, in un celebre concilio, vi scovarono tre antipapi, deposti e rimpiazzati da Martino V? (Costanza).

Che è molto rinomata per due grandi fiere che vi si tengono, ed ove si faceva l' incoronazione degli imperatori? (Francoforte sul Meno).

Ove nacque Gaspare Barthius? — Questo giovinetto, per quanto si dice, nel 1559, nell' età di dodici anni, ridusse tutti i Salmi di Davide in versi latini di tutti i metri, e fece stampare delle altre poesie nella propria lingua? (Kustrim).

Nella quale tutti gli anni si tengono due fiere molto celebri particolarmente in libri, ed ove nacque il famoso Leibnitz? (Lipsia).

Ove nacque Enrico Heinecken, fanciullo straordinario per le qualità del suo spirito? — Si dice ch' ei cominciasse a parlare di dieci mesi; a due anni e mezzo egli sapeva la geografia, l' istoria antica e moderna, si spiegava in latino e francese con molta facilità, ed aveva molto discernimento. Egli morì nell' età di quattro anni ed alcuni mesi, il 27 giugno 1725. (Lubecca).

Nella quale Lutero fece i suoi studi, ed ove il borgomastro Ottone di Guerick inventò la macchina pneumatica nel 1654? *Ove* nella chiesa di santa Margherita si veggono degli organi che sono ornati di varie figure di legno, le quali si muovono e suonano come se fossero animate? (Magdeburgo).

Dove l'arcivescovo Wiligise, figlio d'un legnaiuolo da carrozza, nel 975, volle mettere una ruota nella sua arma principesca, per non dimenticare la sua origine? *Gli abitanti* della quale sostengono che Giovanni Guttemberg, tedesco di nascita e soldato di professione, inventò ivi l' arte di stampare in caratteri nel 1440? *Ove* dicesi che il frate Costantino Anglisen, chimico tedesco, inventasse la polvere da cannone? (Magonza).

Ove dimora un re che ha il più bello ed il più magnifico palazzo di tutta la Germania? — Dicesi che in questo palazzo vi siano undici torri, venti grandi sale, diciannove galerie, duemila e seicentosessanta grandi finestre, sei cappelle, sei grandi cucine, dodici grandi cantine, quaranta vasti appartamenti dipinti, soffittati e mobigliati. Vi sono molte galerie col mezzo delle quali il palazzo comunica colle principali chiese, traversando le case e le strade col mezzo di molti archi. (Monaco).

Ove si custodivano gli ornamenti imperiali di Carlo Magno, cioè: la corona, il globo, lo scettro, la dalmatica, la cotta d'oro, il manto, destinati all' incoronazione degl' imperatori di Germania? (Norimberga).

Che trovasi in una piccola isola formata dalle riviere di Sprée e di Havel, e dove il re di Prussia ha la sua casa di campagna? (Potzdam).

Ove trovasi il più bel ponte di pietra sul Danubio, ed ove tenevansi una volta le diete generali dell' impero? (Ratisbona).

La quale ha la chiesa metropolitana che è il più bell' edifizio della Germania? — Questa chiesa è fabbricata sul modello di san Pietro in Roma, e colle stesse proporzioni. (SALISBURGO).

Che trovasi nell' antica Alta Sassonia, possiede delle miniere tanto ricche, per cui nel 1477, sotto l'imperator Federico III, vi si trovò un pezzo d' argento d' una grossezza straordinaria? — Il duca Alberto volle vederlo, e discese nella miniera; fece preparare da pranzo su questo pezzo d'argento, e disse a coloro che pranzavano con lui: « L' imperator Federico è un potente signore, ma voi m' accorderete che la mia tavola val più della sua. » (SHENESBERG).

Che è nella Pomerania: ove si ritirò Carlo XII dopo aver abbandonata la Turchia? (STRALSUNDA).

Ove si tenne l' ultimo generale concilio contro i Luterani, che era cominciato nel 1543, e finì nel 1563? (TRENTO).

Ove Lutero cominciò a predicare la sua dottrina, nel 1517, e fu sepolto nella cappella del castello? (WITTEMBERGA).

Ove i canonici sottomettono i loro novizi o aspiranti ad una curiosa cerimonia? — Si mettono essi tutti in fila, fanno passare innanzi di loro gli aspiranti e li battono sulle spalle leggermente con una bacchetta; dicesi che facciano questo perchè non venga voglia ai principi di voler entrare nel loro capitolo composto solo di particolari. (WURTZBURGO).

Qual è la città di Polonia

Che era la capitale della Polonia prima di Varsavia, ed ove si eleggevano e si coronavano i re di Polonia? (Cracovia).

Che è la più antica città di Polonia ed il cui nome significa *Nido?* — Essa fu così chiamata perchè Lecco I, duca de' Polacchi, nel 1550, volendo fabbricare la città, vi trovò un nido d' aquile? (Gnesne).

Che è la più antica città della Prussia, in cui sonovi depositati gli archivi dello Stato, e nella quale nacque Nicola Copernico? (Thorn).

Ove, nella chiesa cattedrale di san Stanislao, vedesi il sepolcro di san Casimiro, re di Polonia? — Sigismondo III lo fece coprire con un pezzo d'argento massiccio del peso di 3000 libbre, vi fece porre un altare pure d'argento, e regalò a questa chiesa una campana tanto pesante che vi vogliono ventiquattro uomini per suonarla. (Wilna).

Qual è la città de' Paesi-Bassi-Uniti.

Che trae il nome dal fiume *Amstel*, e dalla parola *dam* che vuol dire diga? (Amsterdam).

Che fu presa, nel 1585, dal principe di Parma, ripresa dai Francesi nel 1700, e ceduta al duca di Marlborough nel 1706, dopo la battaglia di Ramillies? (Anversa).

Che è la più bella de' Paesi-Bassi, ed ove tra le altre cose vedesi una superba passeggiata, chiamata il Parco? (Brusselles).

Ove nacque l' imperator Carlo V, nella quale si trovano ventisei isole, e de' canali su cui son fabbricati trecento ponti? (GAND).

Che stassi sulla riviera Dunged e vicino al lago di Bies-Bosc, formatosi, nel 1421, da una inondazione del mare che sommerse settantadue villaggi? (GERTRUYDENBERG).

Il cui nome ha origine dal fiamingo *tricht*, che vuol dire passaggio, e *maes*, che significa Mosa, cioè passo della Mosa? (MAESTRICHT).

Che, nel 1692, fu presa da Luigi XIV in persona, dopo un assedio di sei giorni? (NAMUR).

Nella quale l'esercito spagnuolo, comandato dall' arciduca Alberto, fu disfatto, nel 1600, dagli eserciti degli stati, sotto il comando del principe Maurizio? (NIEUPORT).

Che sostenne per tre anni un assedio contro gli Spagnuoli, e non si arrese, nel 1604, al marchese Spinola, che dopo una onorevole capitolazione? *Ove* restò prigioniero il maresciallo d'Aumont mentre tentava di prenderla con uno stratagemma, nel 1650? (OSTENDA).

Il cui nome trae la sua origine da un rigagnolo chiamato Rote, ed ove nacque il celebre Erasmo, di cui si conserva la statua di bronzo nel mezzo della città? (ROTTERDAM).

Celebre per un trattato di pace che vi si fece nel 1713, e per un maglio tanto bello che, nel 1672, Luigi XIV, nel corso delle sue conquiste, impedì che fosse guastato? (UTRECHT).

Qual è la città in Isvizzera

Ove nacque Guglielmo Tell (se pur ha esistito), considerato per il primo che abbia cooperato a procurar la libertà alla Svizzera? — Tutti sanno con qual destrezza egli colpì sulla testa di suo figlio il pomo che vi aveva fatto mettere il governatore austriaco, e in qual modo di poi egli uccise questo governatore. (ALTORF).

Il nome della quale viene dal latino *abbatis cella*, o casa dell'abate, perchè vi risiedeva un abate che ne era il proprietario? (APPENZEL).

Che è divisa in due dal Reno, e nella quale si pretende sia stata inventata l' arte di fabbricare la carta? (BASILEA).

Il nome della quale nella lingua del paese significa orso? — Essa fu così denominata, perchè il suo fondatore vi ammazzò uno di questi animali quando cominciò a fabbricarla. (BERNA).

Che è distante una lega da un romitaggio posto molto in alto e che fu scavato in una rupe da due soli uomini, uno de' quali era il padrone, l'altro il suo domestico, nel corso di venticinque anni? — Vi si vedono un bel convento, una chiesa e due camere. (FRIBURGO).

Ove Guglielmo Farel e Pietro Viret cominciarono a predicare la religione riformata, e Giovanni Calvino ve la stabilì? (GINEVRA).

Ove nel palazzo di città si conservano le ossa d'un preteso gigante che era alto 19 piedi? *Che* trae il suo nome da una torre posta in un

luogo ove la Reuss sorte da un lago, e che anticamente serviva di Faro? (Lucerna).

Che trovasi distante una mezza lega dal luogo ove il Reno si precipita da alcune rupi, e forma una caduta orribile d' acqua il cui rumore si sente alla distanza di molte leghe? (Sciaffusa).

Ove trovasi una specie d' uomini singolari chiamati *Cretini*? — Sordi, muti, imbecilli, quasi insensibili ai colpi, i quali hanno de' gozzi che cadon loro alle volte fino alla cintura. (Sione).

Che per la prima fra le città della Svizzera si separò dalla Chiesa romana, nel 1524, sotto la condotta di Zuinglio, e che è la patria di Gesner? *Ove* trovasi una gran piazza in cui vedesi una fontana, le acque della quale s'innalzano circa centoquindici piedi? (Zurigo).

Qual è la città nella Prussia ducale

Ove si dice che si vede un bel palazzo, con una sala senza pilastri, lunga 274 piedi, e larga 64? (Konisberga).

Qual è la città in Boemia

Ove ammirasi, nella chiesa di san Giacomo, un grande altare della Vergine, adorno di due belle colonne di cristallo di rocca? (Praga).

Il nome della quale in tedesco significa montagna del cappuccio? — Si dice che nel 1237 un monaco, avendo trovato un pezzo d' argento nel luogo ove è fabbricata adesso la città,

vi lasciasse il suo cappuccio per riconoscere quel luogo nel suo ritorno. (KUTTEMBERG).

Qual è la città in Ungheria

Che era una volta la capitale dell'Ungheria, i di cui bagni sono tanto caldi che vi si possono far cuocere in pochissimo tempo delle uova ? (BUDA).

Ove avvi un fortissimo castello sulla cui cima si sale da una scala di centoquindici gradini, distanti un piede uno dall' altro? — In mezzo di questo castello è stato scavato nella rupe un pozzo che vien riempito dalle acque del Danubio. (PRESBURGO).

Qual è la città del Portogallo

Ove trovasi una cisterna tanto grande che contiene tant' acqua quanta ve ne vuole per uso della città per sei mesi? — Essa vi è trasportata da un superbo acquedotto lungo una lega, e che in qualche luogo è sostenuto da cinque file d' archi fabbricati uno sopra l' altro. (ELVAS).

Ove Alfonso I di Portogallo fu dichiarato re dalle sue truppe dopo aver vinti i cinque re arabi nel 1130, per cui si cominciò a mettere nelle armi del Portogallo cinque scudi azzurri in croce? (OURIQUE).

Da dove gli Arabi furono scacciati da don Alfonso Henriquez di Portogallo nel 1447, ed ove il terreno è così fertile che vi si fa la raccolta due mesi dopo avervi seminato? (SANTAREN).

Qual è la città in Ispagna

Ove avvi un magnifico ponte costrutto sul Tago dall' imperatore Traiano, e che era il capoluogo d'un ordine di cavalieri? (Alcantara).

Che è nell'Estremadura, ed ove Giovanni I, re di Portogallo, nel 1358, riportò una vittoria che gli assicurò la corona? (Alpiborata).

Ove trovasi un bellissimo ponte fabbricato dai Romani sulla Guadiana, e dove i Portoghesi furono battuti, nel 1761, da don Giovanni d'Austria? (Badajoz).

Ove gli antichi dicevano che esisteva la colonna d'Ercole in Europa, dirimpetto a quella d'Abila, in Affrica? (Gibilterra).

Che è il capoluogo d'un ordine militare di cavalieri, istituito nel 1158 da don Sancio II, re di Castiglia? (Calatrava).

Che fu fabbricata da Asdrubale, generale cartaginese, ed il di cui porto è il migliore di tutte le Spagne? (Cartagena).

Che è la patria dei due Seneca e di Lucano? *Ove* gli Arabi nel secolo XII, avevano stabilita un' università resa illustre da Averroës e da altri sapienti arabi? (Cordova).

Che vien considerata come un villaggio, ed in cui Filippo II, nel 1563, fece fabbricare un convento in memoria della battaglia di san Quintino guadagnata contro i Francesi? — In questo convento, fabbricato in forma di grata, vi sono undicimila e quaranta finestre, diciassette clau-

stri, ventidue corti, più di ottocento colonne, un infinito numero di sale, di gabinetti, e quattordicimila porte ed usci: vi sono voluti ventidue anni per fabbricarlo, ed ha costato venticinquemilioni. (L'Escuriale).

Ove gli Arabi, nel 1134, guadagnarono una grande battaglia su d'Alfonso VII, re d'Arragona, il quale vi fu anche ucciso? (Fraga).

Che è fabbricata su d'una piccola isola, e che comunica coll'Andalusia per mezzo d'un ponte? *Che* fu fabbricata dai Fenici, e chiamata Gades dai Romani? (Cadice).

Ove nacque il famoso navigatore Sebastiano Cano, che s'imbarcò con Magellano per fare il giro del mondo, ritornò sotto Carlo V, e morì nel 1528? (Guipuscoa).

Che fu fabbricata dai Romani sotto l'imperator Galba, e dove stabilì la sua sede il primo re cristiano della Spagna? (Leon).

Ove una volta stava Sagunto, città celebre pel suo attaccamento ai Romani, e per essere stata causa della seconda guerra punica? *Che* fu presa da Annibale dopo sei mesi d'assedio, e i cui abitanti preferirono di perir vittima delle fiamme, e di seppellirsi sotto le ruine della loro patria, piuttosto che divenire preda del nemico. (Morviedro).

In cui si trova un campanile che ha una scala fatta in maniera che le bestie da soma vi ponno montare fino alla cima? (Murcia).

Il cui nome ha origine da Pompeo, generale

romano, il quale, come si dice, la fece fabbricare quando andò nella Navarra? (Pamplona).

Che trovasi tra Avila e Segovia, nella Vecchia Castiglia, ha un forte castello, e dove furono tenuti in ostaggio per quattro anni Francesco, delfino di Francia, ed Enrico, suo fratello, figlio di Francesco I? (Pedraga della Sierra).

Che è nell' isola di Minorica, ed a cui fu dato lo stesso nome d' un generale cartaginese che la fece fabbricare duecento anni avanti Gesù Cristo? (Porto Maone).

Che è fabbricata sull' Ebro, ed il nome suo deriva dal latino *Cæsarea Augusta*? (Saragozza).

I cui abitanti avevano il privilegio, parlando col re in persona, di non levarsi il cappello che dopo di lui? (San-Sebastiano).

Ove scorgesi un bellissimo acquedotto fabbricato dall' imperator Traiano? — Quest' acquedotto, che poggia su due montagne, è lungo tremila passi, ed è composto di due file di centosettantasette archi l' uno sopra l' altro. (Segovia).

La cui cattedrale è la chiesa più grande di Spagna? (Siviglia).

Che è stata fabbricata su le ruine dell' antica Numanzia, distrutta da Scipione Affricano centotrent' anni prima di Gesù Cristo? (Soria).

Qual è la città in Italia

Che, in grazia della sua estensione, fu chiamata la seconda Roma, e dove risiedevano soventi gl' imperatori romani? *Che* fu distrutta

quasi del tutto e saccheggiata da Attila, re degli Unni, nel 432? (Aquileia).

Ove nacque il poeta latino Pacuvio e vi morì Virgilio? (Brindisi).

Che è nelle vicinanze dell'antica Canne, ove Annibale distrusse i consoli romani Paolo Emilio e Terenzio Varrone, e passò a fil di spada più di quarantamila Romani? (Canosa).

Ove, dopo la battaglia di Canne, i soldati di Annibale si abbandonarono alla voluttà ed ai piaceri, il che contribuì a scemare il loro coraggio? (Capua).

Che, nel quindicesimo secolo, fu devastata da una violenta fazione, i cui membri si distinguevano coi nomi di *Bianchi* e *Neri*? (Firenze).

Il cui nome ebbe origine da quello della nutrice d'Enea, che ve la fece sotterrare? (Gaeta).

Ove trovasi la santa Casa, cioè la casa di Nazareth, ove dicesi che sia stato allevato Nostro Signore? (Loreto).

Ove avvi una delle fortezze più considerevoli d'Europa, ed in vicinanza del luogo ove nacque Virgilio? (Mantova).

Che fu distrutta fin dalle fondamenta dall'imperator Federico Barbarossa, il quale vi fece anche spargere del sale, tutto ciò per vendicarsi (asseriscon alcuni) dell'insulto che gli abitanti avean fatto a sua moglie, facendola girare per città su d'un asino? (Milano).

Ove nacque Andrea Doria, uno de' più celebri marini, e dove egli morì, nel 1660, in età di 94 anni? (Oneglia).

Che ha un pozzo profondissimo, ove i muli vanno a prendere dell'acqua discendendo da una scala e risalendo da un' altra? (Orvieto).

Il cui nome in latino significa entrata, imboccatura, perchè ella è situata all' imboccatura del Tevere? (Ostia).

Ove nacque Tito-Livio, celebre istorico latino, e dove vedesi adesso una bellissima chiesa dedicata a sant'Antonio? (Padova).

Che una volta chiamavasi Ticinum, ove, nel 1523, Francesco I, re di Francia, fu fatto prigioniero da Carlo V? (Pavia).

Che è una delle dodici antiche città etrusche, e fu fabbricata centosessant' anni dopo il diluvio? *Ove* L. Antonio fu obbligato di darsi nelle mani d'Augusto? (Perugia).

Ove trovasi un famoso cimitero chiamato Campo Santo, formato con terra religiosamente stata trasportata da Gerusalemme da alcuni marinai della città su cinquanta galere? (Pisa).

Che, nel tempo dei Romani, era sul mare Adriatico, ed ora ne è distante più d' una lega? *Ove* Teodorico, re de' Goti, risiedeva, e dove si vede il suo sepolcro, coperto d' una sola pietra di marmo, che ha venticinque piedi di diametro, e quindici di grossezza? (Ravenna).

Ove si scorge ancora un piedestallo di marmo che faceva parte della tribuna sulla quale Giulio Cesare arringò i suoi soldati marciando verso Roma, dopo aver passato il Rubicone? (Rimini).

Che è bagnata dal Tevere, e fu fabbricata so-

pra sette colli, settecentocinquantatre anni prima di Gesù Cristo? (Roma).

Ove fioriva, in addietro, una scuola di medicina, che era celebre pe' suoi precetti sulla salute? (Salerno).

Ove trovasi la famosa fontana d'Aretusa, le acque della quale scolano nella riviera Alfea? *Ove* nacque l'immortale Archimede, il quale, con delle macchine fin allora sconosciute, difese per molto tempo la sua patria contro i Romani? — Con queste macchine fece saltar in aria ed andare a fondo molti vascelli nemici, e ne abbruciò molti altri con degli specchi ustori. (Siracusa).

Dalla quale ha ricevuto il suo nome una specie di ragno, della morsicatura del quale, pretendesi, non si possa guarire che ballando molto? (Taranto).

Ove eranvi le villeggiature di Giulio Cesare, Caio Cassio, Augusto, Mecenate, Catullo e Properzio, dove Orazio compose una gran quantità delle sue opere? *Ove* scorgesi una bellissima caduta d'acqua, un tempio della Sibilla, la casa d'Est ed il lago di Solfatara? (Tivoli).

Che è degna d'ammirazione per la bellezza delle sue fabbriche, per le sue strade diritte, e per la facilità con cui si fa girar l'acqua in tutti i quartieri della città per pulire le strade? (Torino).

Ove esiste un anfiteatro molto vasto e ben conservato? — Vi sono quarantaquattro file di

banchi di marmo bianco, su de' quali possono comodamente star sedute più di venticinquemila persone. — *Ove* tra gli antichi nacquero Catullo, Cornelio Nipote, Vitruvio e Plinio il naturalista, e tra i moderni, Fracastoro, Paolo Veronese, Scipione Maffei, ec.? (VERONA).

Qual è la città della Turchia Europea

I di cui primi nove re si chiamarono Inachidi, in onore d' Inaco, che la fabbricò 1856 anni prima dell' Era cristiana? *Nella quale* regnava Agamennone nel tempo della guerra di Troia? (ARGO).

Dalla quale sortirono i più grandi sapienti ed artisti greci, e che da' Romani fu chiamata la scuola dell' universo? (ATENE).

Che è nella Valacchia, ed ove risiede un principe schiavone tributario de' Turchi, e chiamato *Ospodaro*? (BUCHAREST).

Che fu chiamata dai Romani Byzantium, e che adesso è chiamata dai Turchi Stamboul? *Che* fu fabbricata, nel 329, da Costantino il Grande, secondo il disegno di Roma? *Che* ha due grandi sobborghi, uno chiamato Pera, e l' altro Galata, abitati dagli Europei e dai ministri stranieri, che non possono soggiornare in città? (COSTANTINOPOLI).

Che dopo Atene ha dato il più gran numero di architetti, pittori e scultori greci? (CORINTO).

Ove Pompeo si ritirò quando fu inseguito da Cesare, e dove Cicerone dimorò nel tempo del

suo esilio? *Che* i Greci chiamarono Epidamnum ed i Romani Dyracchium? (Durazzo).

Che è nella Moldavia, ove risiede un *Ospodaro*, principe greco, tributario de' Turchi? (Jassy).

Che è nell'Albania, ove dimorava il re Pirro? *Che* era posta nelle vicinanze dell'Acheronte, dalla favola chiamato fiume infernale? *La quale* si denominava una volta Ambracia, e che dopo la battaglia d'Azio, Augusto chiamò Nicopoli? (L'Arta).

Da cui trae il suo nome un golfo ove don Giovanni d'Austria riportò una famosa vittoria sulla flotta turca, nel 1571? (Lepanto).

Che sta nella Morea, ove si adorava particolarmente Esculapio, Dio della medicina? *Che* ebbe per lungo tempo il nome di Epidaurus-Limera e che oggi si fa distinguere pe' suoi buoni vini? (Napoli di Malvasia).

Che sta in eguale distanza da Corinto ed Atene, ed a cui fu dato il nome di uno de' figli di Nettuno? *Che* sulle prime fu governata da dodici re, si eresse dopo in repubblica, cadde indi in potere degli Ateniesi, e fu alla fine liberata dagli Eraclidi? (Megara).

Che fu resa celebre dalla vittoria che Ottavio ed Antonio riportarono su Bruto e Cassio quarantadue anni prima di Gesù Cristo? (Filippi).

Che era chiamata una volta Tessalonica, poco distante da Pella, ove fu educato Filippo, re di Macedonia, ed ove nacque Alessandro il Grande, suo figlio? (Salonichi).

Che era una volta la capitale della Beozia, ed ove nacque Epaminonda? *Che* fu distrutta intieramente da Alessandro il Grande, a riserva della casa ov' era nato il poeta Pindaro? (Tebe in Beozia).

§ IV. Citta' principali fuori d'Europa

Qual è la città dell'Asia

La quale, dopo Costantinopoli ed il Gran Cairo, è la più grande dell'impero turco? (Aleppo).

Che ha due nomi, e dalla quale tutti i giorni si spediscono de' colombi per portare degli avvisi e delle nuove in Aleppo? *Che* è il porto della città d'Aleppo, dalla quale è distante ventotto leghe? (Alessandretta o Scanderoun).

Che fu chiamata dai Greci grande città, e porta il nome d'Epidafne, in causa del tempio e del bosco dedicati ad Apollo in Dafne, piccola città esistente in quelle vicinanze? *Che* venne chiamata la regina del Levante, perchè i re di Siria, e di poi i governatori romani vi risiedevano? (Antiochia).

Che era la capitale dell'Assiria, ed aveva cento porte di bronzo? *Che* l'anno 538 prima di Gesù Cristo fu presa da Ciro? — Egli fece cambiare il corso delle acque dell'Eufrate, e nella notte fece traversare dalle sue truppe questo fiume che era disseccato. (Babilonia).

Che è posta sull'Idaspe, nell'India, e fu

fabbricata da Alessandro in memoria della vittoria riportata su Poro? *Che* fu chiamata col nome d'un cavallo, di cui Alessandro non volle si perdesse la memoria? (Bucefalo).

Che fu una volta la capitale del regno di Bitinia, di poi quella dell'impero turco prima che Maometto IV s'impadronisse di Costantinopoli? (Prusia o Bursa).

Che fu il primo porto di mare cui approdarono gli Europei nella penisola dell'Indostan, sulla costa del Malabar? (Calicut).

Ove ogni sera si chiudono i cancelli di tutte le strade, per obbligare gli abitanti a rientrare in casa di buon'ora? (Canton).

Ove era il tempio di Diana, una delle sette maraviglie del mondo, abbruciato da Erostrato nella notte in cui nacque Alessandro il Grande? (Efeso).

Ove era il mausoleo, altra delle sette maraviglie del mondo? *Ove* nacquero l'istorico Erodoto, il dotto Dionigi ed il filosofo Eraclio? (Alicarnasso o Boudroun).

Che diventò la capitale della Giudea dopo che Davide l'ebbe conquistata? *Ove* trovasi il monte Calvario, il monte Oliveto ed il torrente di Cedron, che scorre lungo la valle di Giosafatte? *Che* fu distrutta da Nabucodonosorre il Grande, ed i cui abitanti per ordine di questo principe furon condotti prigionieri in Babilonia? *Che* fu intieramente distrutta da Tito, l'anno 78 di Gesù Cristo, dopo un memorabile assedio? (Gerusalemme).

Ove trovasi il principale stabilimento della compagnia delle Indie inglesi, sulla costa del Coromandel? (Madras).

Ove nacque e visse Maometto, ed ove disse di aver ricevuto il Corano dalle mani dell'angelo Gabriele? *Ove* i Maomettani vanno in pellegrinaggio una volta almeno nella loro vita, per visitare la culla del mondo, la camera di Abramo ed il ritiro d'Agar? (La Mecca).

Che da' Turchi vien chiamata città del profeta, perchè Maometto, fuggendo dalla Mecca per salvarsi, fu accolto e protetto dagli abitanti di quella città? *Ove* trovasi il sepolcro di Maometto e quello d'Omar, che soventi son visitati dai Turchi? (Medina).

Che è la più grande della China, ed ove vedesi una torre di porcellana alta duecento piedi? (Nankin).

Che, dopo essere stata la sede degl'imperatori di Persia, fu distrutta da Alessandro il Grande? — Dicesi che questo conquistatore un giorno, in mezzo a' suoi stravizzi, vi accendesse il fuoco colle sue proprie mani, ad istanza della cortigiana Taide. (Persepoli).

Che era il principale stabilimento commerciale de' Francesi nelle Indie orientali? (Pondichery).

Che era una volta la capitale della Fenicia, ove s'inventarono, per quanto si dice, l'arte di far gli specchi e la biancheria? (Sidone).

Che era la capitale di Ponto ai tempi di Mitridate, ed ove nacque Diogene il cinico? (Sinope).

Che fu chiamata Palmira, per la gran quantità di palme che produceva, e che dicesi fabbricata da Salomone? *Che* si rese celebre pel gran potere di Odenat, e pel coraggio di Zenobia sua moglie? *Che* dall' imperatore Adriano fu chiamata Adrianopoli? (TADMOR).

Ove regnarono un dopo l'altro Didone, Belo e Pigmalione, e che era nella Fenicia? *Ove* si pescava una specie di conchiglie marine in cui si trovava un bellissimo colore di porpora molto stimato dagli antichi? (TIRO).

Qual è la città in Affrica

Che fu fabbricata da Alessandro il Grande all'ouest del Nilo, ed ove nacque il sapiente Euclide? *Ove* stava il gran Faro, una delle sette maraviglie del mondo? *Ove* esisteva la famosa biblioteca de' re Tolomei, abbruciata nel settimo secolo, secondo l'opinione di alcuni, dal califo Omar? (ALESSANDRIA).

Che è distante cento miglia dall' imboccatura del Nilo, dirimpetto alle piramidi ed alle ruine di Memfi? (IL CAIRO).

Che si chiamò una volta Abyla, ed era una delle colonne d' Ercole? (CEUTA).

Che fu presa ai Turchi da san Luigi, re di Francia, e resa di poi per riscattarsi? (DAMIETTA).

Che procura ai Portoghesi, i quali vanno alle Indie, gli stessi vantaggi, ricavati dalle altre nazioni dal Capo di Buona Speranza. — Ove si fermano, e vi fanno delle provvigioni (MOZAMBICO).

Che una volta si chiamava Utica, ed ove si ritirò Catone, il quale nell'alternativa di cadere nelle mani di Cesare o di darsi la morte, si appigliò a quest'ultimo partito? (Porto-Farino).

Che si chiamò Hecatompylos e Diompolis Magna dai Greci, perchè aveva cento porte? — In tempo di guerra sortivano da ciascuna di queste porte ventimila combattenti e duecento carri. (Tebe o Luxou).

Che è distante dieci miglia dalla parte del sud dall'antica Cartagine, e che nel 1535, l'imperator Carlo V tolse a Barbarossa? (Tunisi).

Qual è la città dell'America

Che trovasi nel Maryland, nel fondo della baia di Chesapeak, ed in pochissimo tempo ha prosperato moltissimo? (Baltimora).

Da dove tutti gli anni venivano in Europa le immense rendite che il re di Spagna aveva nella Granata e nella Terra-Ferma in America? (Cartagena).

Che, nel tempo degl' Incas, era la capitale del Perù e la residenza del governo? (Cusco).

Che è stata fabbricata in poca distanza d'una città che portava lo stesso nome, e che nel 1773, fu distrutta da un terribile terremuoto, e vi perirono circa ottomila famiglie? (Guatimala).

Che ha un porto, in cui possono stare più di mille bastimenti, ma l'entrata ne è così stretta, per cui non vi possono entrare che uno alla volta? (L'Avana).

Che è la più antica città fabbricata dagli Europei in America, e precisamente da Bartolomeo Colombo, fratello dell'ammiraglio? (SAN-DOMINGO).

Ove sulle prime sbarcò Ferdinado Cortez, con cinquecento Spagnuoli, quando intraprese la conquista del Messico? (VERA CRUX).

Che trovasi tra gli Stati della Virginia e del Maryland, e che fu destinata ad essere la sede del governo degli Stati-Uniti, per essere egualmente distante dalle estremità settentrionali e meridionali di questo paese? (WASHINGTON).

§ V. GRUPPI D'ISOLE

Quali sono i gruppi d'isole

Le quali nel quindicesimo secolo vennero denominate da Gonsalvo Vello con una parola, che in portoghese significa sparviere, perchè vi vide molti di questi uccelli? *Che* furono scoperte da Gio. Vanderberg, mercante di Bruges? — Si pretende che dopo il suo ritorno a Lisbona, essendosi vantato di aver fatta questa scoperta, i Portoghesi s'imbarcarono ed andarono ad impossessarsene. (AZZORRE).

Le prime state scoperte da Cristoforo Colombo nell'America, nel 1492? (LE ISOLE LUCAIE O BAHAMA).

Che erano chiamate Fortunate, e da dove son venuti i canarini? (ISOLE CANARIE).

Il cui nome ha origine da una parola greca che vuol dire circolo? (LE CICLADI).

Che furono scoperte da Magellano nel 1521? — Gli abitanti di quel paese gli rubarono una parte de' suoi effetti, e ciò lo indusse a dar loro il nome che hanno oggi, in concorrenza di quello di Isole Mariane. (Isole dei Ladroni).

Ove i poeti han posto la sede della corte di Eolo, Dio dei venti? (Le Isole di Lipari).

Il cui nome ha origine da una parola greca che vuol dire sparso, perchè effettivamente sono sparse qua e là nell'Arcipelago? (Le Sporadi).

Che si dividono in quattro gruppi, cioè: le isole delle Volpi, le isole Kan, le isole Aleutine e le isole di Negho? *Che* son poste all'entrata dello stretto del Nord, e furono scoperte dai Russi sotto il regno di Pietro I? (Isole dell'Arcipelago settentrionale).

Che furono scoperte dal capitano Cook; la principale delle quali è quella d'Owhyhée? (Le Isole Sandwich).

Che furono scoperte dal capitano Wallis nel 1767, e visitate da Cook nel 1769? *Le più* grandi delle quali sono Otahiti, Olieta, Balabola e Oheteroa? (Le Isole della Società')

Che furono scoperte dal capitano Cook nel 1773, e le prime delle quali sono Amsterdam, Rotterdam, Middelburgo? (Le Isole degli Amici).

Che furono scoperte da don Quiros, e la più importante di esse è la terra di Santo-Spirito? — Il navigatore spagnuolo sulle prime le credette un continente; ma il capitano Cook scoperse non esser esse altro se non che un gruppo d'isole. (Le nuove Ebridi).

§ VI. Isole principali

Qual è l' Isola

Ove eravi un tempio ed una fontana dedicata a Bacco, e le acque di questa fontana, nelle idi di gennaio, aveano il gusto di vino? (Andros).

Che fu così chiamata da' Portoghesi perchè la scoprirono il primo giorno dell'anno, nel momento in cui stavano augurandosi il buon anno? (Anna Bona).

Ove trovasi il monte Ida, nel quale Giove fu allevato dai Coribanti? *Ove* regnò Minosse mille e quattrocentocinque anni prima di Gesù Cristo, e le cui leggi si osservavano ancora ai tempi di Platone? *Che* una volta si chiamava Creta, ove scorreva il fiume Lete, tanto rinomato nella favola? (Candia).

Che una volta portava il nome di Citera, celebre pel soggiorno che vi fece la dea Venere e per la nascita d'Elena? (Cerigo).

Ove nacque Venere, e vi furono eretti i tempii di Paphos e di Amatonta? (Cipro).

Che sta dirimpetto ad Eleusi e che si chiamava una volta Salamina? *Che* si rese celebre per la battaglia navale datavisi tra i Greci ed i Persiani, quando Serse andò in Attica? *Ove* nacquero Teucro ed Aiace, detti di Salamina? (Colouri).

Che si dice sia sortita dal fondo del mare e dove era l'altare d'Apollo? *Ove* nacquero Apollo e Diana, e vi si vedono ancora le ruine d'un tempio che fu loro consecrato. (Delos o Sdile).

Che ha un' estensione di centosessanta leghe di lunghezza e sessanta in larghezza, e non è abitata che da novecento anni? — Gli abitanti del paese sono piccolissimi, ma forti e robusti, ed amano molto la pesca e la caccia; si nutrono di pesce secco e lo mangiano crudo dopo averlo fatto venir molle a forza di batterlo; sono appassionati pel ballo e pel giuoco degli scacchi, abitano sotto terra e vivono molto tempo. (L'Islanda).

Che ha dato argomento a comporre il romanzo di Robinson Crusoé? (Juan Fernandez).

Che una volta si chiamò Calipso? *Ove* Calipso accolse Ulisse, indi il suo figlio Telemaco, e nella quale al presente non vi si trovano che degli alberi di ulivi selvatici? *Che* trovasi fra Tunisi e Malta, ove naufragò, nel 1552, l'esercito dell'imperatore Carlo V? (Lampedusa).

Che è una delle isole Sporadi, nota pel suo labirinto, uno de' più rinomati dagli antichi? *Ove* i poeti hanno stabilito il soggiorno e le fucine di Vulcano? *Ove* le donne, credendosi abbandonate da' loro mariti, scannarono tutti gli uomini ed uccisero tutti i fanciulli nati dalle donne ateniesi? (Lenno o Stalimene).

Che fu conquistata da' Portoghesi nel 1347, che in allora non era che una foltissima foresta ed ora è divenuta fertilissima, soprattutto in vini? — I Portoghesi vi accesero il fuoco solo per riscaldarsi; ma ciò causò un incendio terribile che durò molti anni. (Madera).

Che è la più fertile e la più grande delle Cicladi ed ove Bacco era particolarmente venerato? (Naxos).

Che è la più grande delle isole dell'Arcipelago, separata dalla Livadia da un ponte e che una volta si chiamava Eubea? (Negroponte).

Che è una delle isole Sandwich, ove fu assassinato, nel 1779, il capitano Cook dagli abitanti del paese in una lite che ebbe con loro? (Owhyhée).

Ove una volta esisteva la torre di marmo bianco, una delle opere le più maravigliose del mondo? (Paros).

Che dicono essersi anticamente innalzata dal fondo del mare, il cui clima era una volta temperato, ed ora divenuto freddo ed umido, in causa dell'immensa quantità di alberi che vi crescono, e di cui gli abitanti fanno un gran commercio coll'Egitto? *Ove* era una volta la statua di Apollo, una delle sette maraviglie del mondo? — Ella era alta sessanta cubiti, e posta in maniera che i vascelli vi passavano tra le gambe. — *Ove* risiedettero i cavalieri di Malta fino all'anno 1523 in cui i Turchi se ne impadronirono? (Rodi).

Ove, nel 1280, Pietro III, re d'Arragona, nel giorno di Pasqua, fece scannare tutti i Francesi, nell'ora di vespero, e precisamente al quarto colpo delle campane, il che ha dato il nome al vespero siciliano? (La Sicilia).

Che è la più grande tra le isole scoperte

dal capitano Cook, nel 1774, ed è vicina alle nuove Ebridi? (La Nuova Caledonia).

Che, nel 1642, fu scoperta dall'olandese Tasman? — Egli la credette un grande continente, ma, secondo il parere di Cook, che l'ha girata intorno, è divisa in due grandi isole separate dallo stretto di Cook. (La Nuova Zelanda).

Che, nel 1616, fu scoperta dagli Olandesi, ed ove gl'Inglesi dopo i viaggi del capitano Cook, vi stabilirono al sud-est una colonia sotto il nome di Botany-Bay? — *Che* è la più grande della terra, e la cui superficie quadrata è maggiore di quella d'Europa? (La Nuova Olanda).

Che nel 1528 fu scoperta da uno Spagnuolo ed è separata dalla Nuova Olanda dallo stretto dell'Endeavour? (La Nuova Guinea).

Che è separata dalla Nuova Guinea da uno stretto, ove il capitano Dampiers inglese fu il primo che vi navigasse? (La Nuova Bretagna).

Che è al nord della Nuova Bretagna, e che fu scoperta dal capitano inglese Carteret nell'anno 1767? (La Nuova Irlanda).

§ VII. Penisole principali

Qual è la penisola

Da dove sortirono i Goti, i quali s'impadronirono di tutta l'Europa, e saccheggiarono Roma sotto il loro re Alarico? (La Scandinavia).

Che una volta si chiamava Chersoneso Taurico? *Che* prima di passare sotto al dominio rus-

so, era la sede del kan de' Tartari, il quale, secondo la credenza de' Turchi, deve succedere al loro sultano nel caso in cui la razza ottomana venisse ad estinguersi? (La Crimea).

§ VIII. Capi principali

Qual è il capo

Che trovasi tra Hastin e Shoreham, nella provincia di Sussex in Inghilterra, e dove i Francesi, nel 1690, distrussero le flotte combinate degl'Inglesi e degli Olandesi? (Beachy-Head).

Che è nell'isola di Wight in Inghilterra, il cui nome significa Ago, per esser fatto in forma di punta? (Needles-point).

Che è nella parte la più meridionale dell'Affrica? *Ove* riposano tutti i vascelli europei che vanno alle Indie orientali? (Il Capo di Buona Speranza).

Che una volta si chiamava Actium, ove Augusto riportò una vittoria navale su Cleopatra ed Antonio? (Capo Figalo).

Che è nella parte la più occidentale dell'Europa? *Ove* gli antichi credevano che finisce la terra, ed il cui nome significa fine del mondo? (Il Capo Finisterre).

Cui Colombo diede un tal nome in rendimento di grazie alla Provvidenza, che gli accordò un vento favorevole? (Il Capo Gratias a Dios).

Che trovasi alla distanza di dieci leghe all'ouest della rada di Hogue? (Il Capo di La Hague).

Che trovasi nella parte più occidentale della Gran Bretagna, ed il cui nome in inglese significa fine della terra? (LANDS'END).

Che trovasi nella parte più meridionale dell'Inghilterra, e da dove partono i vascelli che vanno alle Indie occidentali? (IL CAPO LEZARD).

Che trovasi sulla costa d'Angola, nella parte che sta più al sud, ed ove gli Europei andavano a comprare i Mori? (IL CAPO NEGRO).

§ IX. CATENE DI MONTAGNE

Qual è la catena di montagne

Il cui nome, in lingua celtica, significa montagna alta, e molte delle quali arrivano all'altezza di due miglia? *Da dove* passò Annibale nel venir in Italia? (LE ALPI).

Che si chiamano la Spina del dorso degli Stati-Uniti, e che separano questo paese dalla Luigiana? (I MONTI ALLEGANI O APALACHE).

Il cui nome è eguale di quello di una provincia di Spagna dalla quale assume il titolo l'erede della corona? (I MONTI DELLE ASTURIE).

Da dove, secondo la favola, l'astronomo Atlante, re di Mauritania, trasformato in montagna sostiene il cielo colle proprie spalle? (I MONTI ATLANTI).

Che sono tra le più alte dell'Asia, alle quali Giove attaccò Prometeo, affinchè il suo cuore fosse sempre divorato dagli avoltoi? (IL MONTE CAUCASO).

La cui parte settentrionale è chiamata Puy-de-Dôme; la parte meridionale, Cantal; e quella del centro, Monte d'Oro? (Le Cevenne).

Ove dai re di Spagna e di Francia furono mandati il sig. di Condamine e molti altri celebri astronomi affinchè potesser meglio fissare la figura della terra? (Le Cordigliere).

Che produce i cedri i più rinomati nella storia? — Salomone fabbricò il tempio ed il suo palazzo di Gerusalemme con questi cedri. (Il Monte Libano).

Che dai Portoghesi fu loro dato questo nome, in causa dell'immensa quantità di leoni che vi trovarono? (Sierra-Leona).

Che dai Romani erano chiamati *monti Mariani*? *Ove* il ministro spagnuolo Olavidez fece venire a stabilirvisi molti Francesi e Tedeschi per accrescere la popolazione e l'industria degli Spagnuoli? (Sierra-Morena).

§ X. Montagne principali

Qual è la Montagna

Che trovasi nel Caernarvonshire, la più alta delle montagne del paese di Galles, ed è al di sopra del livello del mare 3555 piedi? *Che* dagli antichi Bretoni era tenuta in egual venerazione, in cui era tenuto il Parnaso dai Greci, ed il monte Ida dai Cretensi? (Snowden).

Che è nelle Alpi, in Savoia, ed è alta 14,600 piedi circa al di sopra del livello del mare, cioè

4000 piedi di più del picco di Teneriffa? (Il Monte Bianco).

Che trovasi tra il Valese e la valle d'Aosta, ed ove evvi un convento di religiosi molto ospitali, sempre intenti a soccorrere i viaggiatori smarriti? (Il Gran San-Bernardo).

Nelle cui vicinanze evvi un profondissimo lago, coperto d'un denso vapore, che si scioglie in pioggia gettandovi una pietra? (Monte d'Oro).

Che forma una penisola nell'Arcipelago, e che, al tramontar del sole, estende la sua ombra fino all'isola di Stalimene o Lenno, alla lontananza di circa otto leghe? *Ove* Serse scavò un canale lungo un miglio e mezzo, con cui condusse la sua flotta fino al piede della montagna? *Nella quale* lo scultore Denocrate fece l'offerta di scolpir una statua colossale, che avrebbe rappresentato questo re con la città in una mano, e coll'altra avrebbe sostenuto un bacino tanto grande da poter raccogliere tutte le acque della montagna? (Il Monte Athos).

Che trovasi tra la Tessaglia e la Macedonia, e dalla cui cima Ercole si gettò nelle fiamme? *Ove*, tra il mare e la montagna, evvi uno stretto passaggio, largo venticinque piedi chiamato Termopili, in causa de' bagni caldi e delle acque minerali che vi si trovano? — Questo passaggio è celebre nella storia per il combattimento di trecento Spartani che trattennero la marcia di trecentomila Persiani. (Il Monte Oeta).

Che trovasi nell'Arcadia, e che fa parte adesso della Morea, ove Ercole ammazzò il famoso cignale, da lui portato di poi sulle spalle ad Euristeo? — Questo principe restò tanto spaventato da questo spettacolo, che si andò a nascondere in un edificio di bronzo. (Erimanto).

Che sta nella Beozia, ora chiamata Livadia, ed una volta Elicona? *Che* era consacrata alle Muse, e da dove scaturiva la fontana detta Ippocrene? (Monte Zagara).

Che una volta era consacrata alle Muse e ad Apollo, tra la Tessaglia, la Macedonia e l'Epiro, resa celebre dai poeti tanto quanto il Parnaso? (Pindo).

Che si rese celebre per la favola de' Giganti e la cui cima, secondo gli antichi, toccava il cielo? *Che* era il soggiorno degli Dei, e dove risiedeva Giove? (L' Olimpo).

Che è la più alta nell' isola di Candia, ed ove dicesi che Apollo fosse allevato dai Coribanti? (Il Monte Ida in Creta).

Che era nell'Acaia vicino molto ad Elicona, e che dai poeti fu consacrata alle Muse e ad Apollo? *Ove* trovavasi una fontana celebre, perchè la profetessa Pizia ed i poeti che volevano destare il loro genio, vi s'immergevano, e bevevano della sua acqua? *Che* è una delle più alte montagne della Grecia, e si può vedere dalla cittadella di Corinto, alla distanza di circa ventisei leghe? *Che* ha due punte, su d'una delle quali era fabbricata la città di Delfo? (Il Monte Parnaso).

Che era in Tessaglia, faceva parte dell' Olimpo, e fu divisa in due da Ercole per fare la valle di Tempe? (Il Monte Ossa).

Che trovasi nella Tessaglia, su cui i giganti posero il monte Ossa per poter salire in cielo, quando facevano guerra agli Dei? *Ove* soggiornavano i Centauri, e nella quale il Centauro Chirone, precettore d'Achille, fece la lancia di cui nessuno, fuori di questo eroe, potea servirsi? (Il Monte Pelia).

Che trovasi sul Mediterraneo, tra la Siria e la Giudea, distante quattro leghe di Nazareth, e reso celebre per esservisi ritirato il profeta Elia? (Il Monte Carmelo).

Che è vicino a Gerusalemme, al nord di Sion, ed ove fu crocifisso Gesù Cristo? (Il Monte Calvario).

Che è nelle vicinanze di Troia in Frigia, e dove il pastore Paride giudicò che il premio della bellezza si dovea a Venere? (Il Monte Ida in Frigia).

Che è una penisola formata da due braccia del mar Rosso, e dove Mosè ricevè la legge da lui data poscia agl'Israeliti? (Il Monte Sinai).

Che è nell'Arabia Petrea, all' est del mar Rosso, e dove Mosè custodiva la gregge di suo suocero Gethro quando vide il roveto ardente? (Il Monte Horeb).

Che è molto venerato in Armenia, perchè dicesi che vi si fermasse l' arca di Noè dopo il diluvio? (Il Monte Ararat).

Che è nell' isola di Sumatra, e la cui cima è alta 12162 piedi circa al di sopra del livello del mare? (Il Monte Ofir).

Ove gli Olandesi stabilirono il primo loro meridiano? Ha la forma di un pan di zucchero, ed è alto circa 11500 piedi al di sopra del livello del mare. (Il picco di Teneriffa).

§ XI. Vulcani principali

Qual è il Vulcano

Che nella sua prima eruzione, nell' anno 79, sotto l' imperatore Tito, fu seguito da un terremuoto tanto forte, che fece subissare molte città, e particolarmente quelle di Pompeia e di Ercolano? Ove perì Plinio il naturalista volendo scoprire le cause d' un' eruzione? (Il Monte Vesuvio).

Che trovasi nella vallata di Demona, ed ove, secondo la favola, Giove schiacciò i giganti? *Ove* sono le fucine di Vulcano e de' Ciclopi che fabbricavano la folgore e il tuono? (Il Monte Etna o Gibello).

Che anche nel momento delle sue eruzioni è coperto di neve, e vicino del quale sonvi due sorgenti, una freddissima e l' altra bollente? (Il Monte Hecla).

Che è il più famoso dell'Asia, vicino al monte Tauro e la cui cima è sempre infuocata? (Il Vulcano d'Albour).

Che è nell' isola principale delle Molucche,

così propriamente chiamate, sotto l'equatore e che getta delle orribili fiamme, soprattutto nel tempo degli equinozi? (Il Vulcano di Ternate).

Che dà il nome ad una delle isole del capo Verde, e getta continuamente delle fiamme? (Il Vulcano dell'Isola del Fuoco).

Che trovasi nell' isola principale delle Canarie, e che rare volte sta senza gettar fiamme? (Il Vulcano del picco di Teneriffa).

Che è nelle vicinanze di Quito, le cui eruzioni sono più terribili di quanto possa essere stato detto o scritto? (Il Vulcano di Cotopaxi).

Che trae il nome da una grande città tra Lima e Potosi, nel Perù, e getta molte fiamme? (Il Vulcano di Arequipa).

Che trae il nome da un gruppo d' isole separate dall'America dallo stretto di Magellano? (Il Vulcano della Terra del Fuoco).

§ XII. Principali Foreste

Qual è la Foresta

Che trae il suo nome dalla più bella casa di piacere del re d' Inghilterra? *Ove* trovasi Benfield, piccolo villaggio, in cui nacque il famoso Pope? (La Foresta di Windsor).

Che trovasi nel Glocestershire, e dalla quale per lungo tempo gl' Inglesi ricavarono il miglior legname per la costruzione de' vascelli? (La Foresta di Dean).

Che è la sola foresta reale in Inghilterra, al

nord della riviera Trent e si estende in quasi tutta la parte che sta all'ouest di Nottinghamshire? (La Foresta di Serwood).

Che fu piantata da Guglielmo il Conquistatore nell'Hampshire, ed ove Guglielmo Rufo fu per accidente ucciso alla caccia da Tyrrel? (Nuova Foresta).

Che trovasi nella parte la più settentrionale della Norvegia e della Svezia, e dove trovansi delle volpi in grande copia? (La Foresta della Laponia).

Che trovasi in un regno appartenente al re di Svezia, e somministra molto legname da costruzione di navi all'Europa? (La Foresta della Norvegia).

Che sta nel governo d'Arcangelo in Russia, ed è separata dall'Asia da una catena di montagne? (La Foresta di Zibania).

Che ha lo stesso nome della città ove la Pulcella d'Orléans fu fatta prigioniera dagl'Inglesi, nel 1430? (La Foresta di Compiègne).

Che ne' tempi di Cesare conteneva una gran parte della Germania, tra la Mosa, Thionville e Liegi? (La Foresta delle Ardenne).

Che trovasi nel dipartimento della Marna, e nella quale i re di Francia andavano alla caccia dopo Luigi VII? (La Foresta di Fontainebleau).

Che da' Romani fu chiamata Marciana Sylva, e in una parte Hercynia Sylva, e si estendeva in quasi tutta la Germania fino alla Boemia?

Che ora si estende dal nord al sud tra l'Ortenau, la Brisgovia, una parte del regno di Wurtemberg, del principato di Furstemberg, e verso la sorgente del Danubio fino al Reno, al di sopra di Basilea. (La Foresta Nera).

§ XIII. Lande e Deserti

Quali sono le Lande

Che s'estendono nel golfo di Guascogna, dopo l' imboccatura della Garonna fino a Baionna? *Che* facevano parte della Guascogna, e rappresentano all'occhio una vasta pianura coperta di sabbia, di cespugli, di piccole quercie verdi, con una corteccia da cui si ricava il sughero, di pini da cui si ricava della resina, e coi quali si fanno gli alberi de' vascelli? (Le Lande di Bordeaux).

Qual è il Deserto

Che è diviso in due parti dal monte Sinai, ove gl' Israeliti stettero per quarant' anni accampati sotto la condotta di Mosè? (Il Deserto di Sinai).

Che è pieno di masnade di ladri i quali hanno de' cavalli molto apprezzati, e che derubano le caravane quando ritornano dalla Mecca? (Il Deserto dell'Arabia).

Che è nella Nubia, all' ouest del Nilo, dal quale, in cinque giorni di cammino, si va dall' Egitto nell'Abissinia? (Il Deserto di Bahouda).

Che trovasi tra la Pomerania prussiana e la Prussia propria, nel distretto di Danzica? (Il Deserto di Waldon).

Che sta dall'altra parte del muro della China, tra la China e la Tartaria chinese, e si prolunga fin nella Tartaria indipendente? (Il Deserto di Cori o di Chamo).

Che trovasi tra l'Egitto e Tripoli, e non è abitato che da Arabi erranti? *Ove* trovavasi il tempio d'Ammone, nel quale difficilmente si poteva entrare perchè era circondato da sabbie ardenti? (Il Deserto di Barca).

§ XIV. Mari Principali

Qual è il Mare

Che dagli antichi si chiamava *Iperboreo*, ciò che vuol dire sul nord? *Ove* tutti gli anni gli Inglesi, Olandesi e Danesi vanno a pescare le balene? (Il Mar Glaciale).

Il cui nome ha origine da quello di una catena di montagne che si estendono dall'Egitto sino alle coste occidentali dell'Affrica? (L'Oceano Atlantico).

Il cui nome significa posto in mezzo alla terra, e che bagna tre parti del mondo? (Il Mediterraneo).

Che è il più grande di tutti i mari, e che bagna all'est l'antico continente ed all'ouest il nuovo? (Il Mar Pacifico o del Sud).

Che non ha nè flusso nè riflusso, e spesse

volte gela nell'inverno, e si può considerare come un golfo? (Il Mar Baltico).

Il cui nome procede da Io, figlia d'Inaco e d'Ismene, la quale cambiata in giovenca da Giove, lo traversò nuotando? (Il Mar Jonio).

Il cui nome in greco significa *più che mare*, ed era chiamato Egeo? (Arcipelago).

Che per essere molto vicino al regno di Ponto, dagli antichi fu chiamato Propontide? (Il Mar di Marmara).

Che sulle prime fu chiamato Axinus, cioè barbaro, perchè gli abitanti delle sue coste erano poco ospitali, e di poi Eusino, cioè ospitale? (Il Mar Nero).

Che si chiamò Palude Meotide, e che fu adorato come una divinità dai Messageti, popoli della Scizia? (Il Mare d'Azof).

Che per quanto si sappia non comunica cogli altri mari, e che, come si crede, comunica sotto terra col golfo Persico? *Che* non ha nè flusso nè riflusso, e le di cui acque sono più salate nel mezzo che sulla costa, in causa del numero grande di fiumi che vi si scaricano da tutte le parti? (Il Mar Caspio).

Che fu passato a piedi asciutti dagl'Israeliti quando partirono dall'Egitto? *Il cui* nome greco Eritreo, Rosso, indica il colore delle sue sabbie? (Il Mar Rosso).

§ XV. Stretti Principali

Qual è lo Stretto

Che una volta si chiamava Ellesponto? *Che* Elle traversò su d' un montone con suo fratello Frisso per andar nella Colchide? *Ove* Serse fabbricò un ponte di battelli quando andò ad invadere la Grecia? *La cui* entrata è difesa dai Dardanelli? (Lo Stretto di Gallipoli).

Che una volta si diceva Bosforo di Tracia? (Lo Stretto di Costantinopoli).

Che dagli antichi si chiamava Bosforo de' Cimmerii? *Ove*, al dir d' Ovidio, trovavasi la casa del Sonno? (Lo Stretto di Caffa).

§ XVI. Golfi Principali

Qual è il Golfo

Che si chiamava *Mare Superum* dai Romani, perchè pareva loro che fosse al di sopra dell' Italia? (Il Golfo di Venezia).

Che dagli antichi si diceva *Sinus Thermaicus*, da *Thermæ*, ora Salonichi? (Il Golfo di Salonichi.)

Che si formò in causa di un' inondazione seguita nel 1225, e che è separato dal mare del Nord da un circolo di piccole isole? (Il Golfo di Zuyderzee).

§ XVII. Fiumi e Riviere

Qual è il Fiume

Che confinava una volta colla Sarmazia all'ouest, e la separava dalla Germania? (La Vistola).

Il cui nome spagnuolo viene da *guad*, riviera, e *danas*, antico nome proprio del fiume? (La Guadiana).

Che trae il suo nome dalle due piccole riviere da cui è formata, la Tam e l'Isis? (Il Tamigi).

Che trae il suo nome dalla parola latina *minium*, minio, nelle cui vicinanze se ne trova una gran quantità? (Il Minho).

Che una volta si chiamava *Iberus*, per cui una colonia di Celti che si stabilì sulle sue sponde fu detta Celtiberia? *Che* una volta era il confine de' possedimenti romani e cartaginesi in Ispagna? (L'Ebro).

Nella cui imboccatura vedesi un faro alto centosessanta piedi, fabbricato da Enrico IV, e destinato a servir di direzione ai vascelli per ischivare i banchi di sabbia? (La Garonna).

Che una volta fu chiamato *Abula*, in causa della bianchezza delle sue acque, e di poi *Tiberinus*, perchè vi si annegò Tiberino, re d'Etruria? (Il Tevere).

Che una volta si diceva *Padus*, *Eridanus*? *Ove* le sorelle di Fetonte, secondo la favola, vennero cambiate in pioppi? (Il Po).

Che si chiamava Tanais, e che separava una volta l'Europa dall'Asia? (Il Don).

Da cui si ricavano delle pietre preziose e dell'oro, e dove gl'Indiani vanno in pellegrinaggio da tutte le parti dell'Indostan? (Il Gange).

Che dà il nome a tutto il paese meridionale dell'Asia? *Ove* Alessandro il Grande diede fine alle sue conquiste? (L'Indo).

Le cui acque nel mese di maggio e giugno si spargono nell'Egitto (1), e lo rendono fertile? *Il cui* nome trae l'origine da un re di Tebe, e che era adorato dagli Egiziani come il Dio dei fiumi? (Il Nilo).

Ove vedesi la famosa caduta d'acqua di Sant'Antonio, larga quasi ottocento piedi ed alta circa trenta? (Il Mississipi).

Che dicesi esser il più gran fiume del mondo, ed ha molte foci sotto la linea equinoziale? (Il Fiume delle Amazzoni).

Qual è la Riviera

Che, vicino alla sua sorgente, serve di barometro agli abitanti? — Quando deve piovere l'acqua esce gorgoliando dalla sua sorgente, e trasporta seco una minutissima sabbia, che l'intorbida più o meno secondo la maggiore, o minor quantità d'acqua che deve venire; e quando deve far buon tempo, la sabbia torna al fondo, e l'acqua si fa chiara. (La Lys).

Che si scarica nel Kur, ed i cui nomi latino e greco significano rapido? (L'Aras o L'Arasse).

---

(1) Per mezzo di molti canali.

§ XVIII. Laghi Principali

Qual è il Lago

Che si chiamava *Lacus Lemanus*, le cui acque sono molto basse in inverno e molto alte in estate, in causa delle nevi che, in quest'ultima stagione, vengono sciolte dal caldo nelle vicine montagne? *Nelle cui* rive si vede il castello di Ripaille, noto per essere stato il voluttuoso ritiro del duca Amedeo di Savoia quando rinunciò il governo de' suoi Stati? (Il Lago di Ginevra).

Che una volta si chiamava Trasimeno, ove i Romani, condotti dal console Flaminio, furono battuti da Annibale? (Il Lago di Perugia).

Che trovasi in Austria, nella Carniola, e somministra del pesce, del grano e del selvatico tutti gli anni? — Quando una parte delle acque di questo lago si è ritirata nelle fosse, e l'altra si perde sotto terra, si pesca il pesce che vi è restato; di poi vi si semina del grano, che vi cresce in pochissimo tempo: nell'inverno e nell'autunno, vi si prende una gran quantità di selvatico, che vi si ritira da tutte le vicine foreste? (Il Lago Czirnitz).

Che è profondo circa trecento braccia, e nel quale, alla vigilia d'una burrasca, si sente un rumore terribile e continuato, simile a quello del tuono? (Il Lago Wetter).

Che è il più grande del nuovo continente?

Che è detto il mar Caspio dell'America, e porta le sue acque nel lago degli Huroni? (Il Lago Superiore).

Che comunica col lago Ontario col mezzo della riviera Niagara, colla quale fa una caduta d'acqua o cateratta, la più grande che vi sia al mondo? (Il Lago Erié).

§ XIX. Canali Principali

Qual è il Canale

Che separa due regni, e che col mezzo del Frith, di Forth e della riviera Clyde fa comunicare il mare del Nord col mar d'Irlanda? (Il Gran Canale di Scozia).

Che si forma colle acque della Schelda, e fa comunicare tra di loro Gand, Bruges e Ostenda? (Il Canale di Bruges).

Per mezzo del quale si naviga internamente tra Calais, Gravelines, Dunkerque, Furnes, Niewport, Ostenda? (Il Canale di Dunkerque).

Che conduce da San-Pietroburgo al mar Caspio? — I viaggiatori, che sono obbligati d'andare secondo la corrente dell'acqua, stanno due anni in viaggio. (Il Gran Canale di Russia).

Che unisce la Loira vicino a Briare, ed il Loing a Montargis? (Il Canale di Briare).

Che riceve l'acqua dalla Loira, al di sopra d'Orléans, comunica col Loing, al di sopra di Montargis, e si riunisce alla Senna al di sopra di Moret? (Il Canale d'Orléans).

Il quale non è altro che la piccola riviera di Layon fatta divenir navigabile? *Che* comincia presso di Doué, sopra i confini dell'antico Poitou, passa a Touané ed a Rabli, e si getta nella Loira a Chalonne? (Il Canale di Monsieur).

Che è una continuazione del Canale di Briare, e scorre da Montargis fino alla Senna? (Il Canale di Montargis).

Che traversa una montagna, sotto la volta di Malpas, lunga settecento piedi? *Che* comincia a Cette, finisce nella Garonna, e riunisce il Mediterraneo all'Oceano? (Il Canale di Linguadoca).

§ XX. Acque Minerali

Quali sono le acque minerali

Che si trovano in Inghilterra lungi dodici miglia da Bristol, e che dai Romani furono chiamate *aquæ solis*, acque del sole? (Acque di Bath).

Che sono nella contea di Kent, ai piedi di una città fabbricata su tre colline, una chiamata monte Sinai, l'altra monte Ephraim, e la terza Plaisant? (Acque di Tunbrige).

Che trovansi nella contea di Surry, da cui si estrae un sale buono da purgare e molto conosciuto in Europa? (Acque d'Epsom).

Che sono nella contea d'York, e fanno lo stesso effetto di quelle di Pyrmont in Germania? (Acque di Scarborough).

Che si prendono in una città chiamata nei Paesi-Bassi Spa Scozzese, e che hanno le stesse proprietà delle acque di Spa? (Acque di Aberdeen).

Che si trovano in una città della Svizzera ove si tenevano le sedute degli Stati? (Le Acque di Baden in Isvizzera).

Che sono in una città di Germania, dalla quale prende il suo nome un gran ducato? *Che* sono distanti otto leghe da Strasburgo, al di là del Reno, presso delle quali fu ammazzato il maresciallo di Turena nel 1675? (Le Acque di Baden).

Che sono nell'arciducato d'Austria, ove vanno le persone in folla, principalmente da Vienna? (Le Acque di Baden in Austria).

Che si trovano nel paese di Liegi ed hanno cinque principali sorgenti? (Le Acque di Spa).

Che ricevono il loro nome da una città celebre pel trattato che vi si fece, ed il quale diede fine alla guerra di successione contro la casa d'Austria? (Le Acque di Aquisgrana).

Che sono ai piedi degli Alti Pirenei, ed in una ricca vallata ove trovansi diciassette villaggi, senza comprendervi la piccola città di Luc? (Le Acque di Barrège).

Che sono nel dipartimento della Senna inferiore; distanti nove leghe da Roano, e tre leghe da Neuchâtel? (Le Acque di Forges).

Che sono nelle montagne e nel dipartimento dei Voghesi? (Le Acque di Plombières).

Che sono nel dipartimento dell'alta Marna, distanti sette leghe da Langres, e dieci leghe da Chaumont? (Bourbonne les bains).

Che sono nel dipartimento dell'Allier, distanti sei leghe da Moulins, e dieci leghe da Nevers? — Le sue acque sono tanto calde che non vi si può tener la mano più d'un momento senza sentirne dolore; le uova nonostante non vi possono cuocere, e le piante non vi si disseccano: quando si prende di queste acque nelle loro sorgenti, e che si mettono sul fuoco, non bollono più presto dell'acqua la più fredda. (Le Acque di Bourbon-l'Archambaut).

Che sono nel dipartimento dell'Allier, distante sei leghe da Gannat, e diciotto da Moulins? (Le Acque di Charroux).

Che sono nel dipartimento dell'Hérault, distanti sei leghe da Frontignan? (Le Acque di Balaruc).

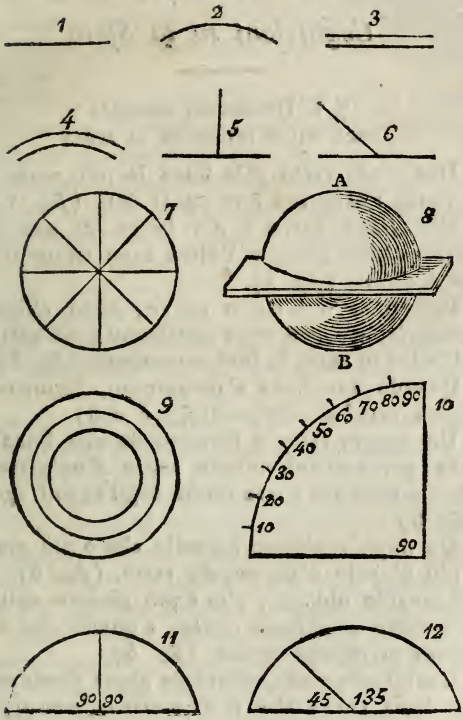
1
2
3
4
5
6
7
A
8
B
9
10
10
20
30
40
50
60
70
80
90
90
11
90
90
12
45
135

PARTE TERZA

Cognizioni su la Sfera.

§ I. Definizioni generali onde poter intendere la sfera

Una *linea retta* è la linea la più corta che si possa tirare tra due punti dati. (*fig.* 1).

Una *linea curva* è piu lunga di una linea retta quando l'una e l'altra sono tirate tra gli stessi punti. (*fig.* 2).

Due linee o rette o curve, sono chiamate *paralelle*, quando sono egualmente distanti una dall'altra in tutta la loro estensione. (*fig.* 3 *e* 4).

Quando due linee s'incontrano, formano un *angolo* retto o obliquo. (*fig.* 5 *e* 6).

Un *angolo retto* è formato da una linea che cade perpendicolarmente sopra d'un'altra, o che da ciascuna parte forma degli angoli eguali. (*fig.* 5).

Un *angolo obliquo* è quello che è più grande o più piccolo d'un angolo retto. (*fig.* 6).

L'angolo obliquo, che è più piccolo dell'angolo retto si chiama *acuto*, e quello che è più grande si chiama *ottuso*. (*fig.* 6).

Un *circolo* è una superficie piana rinchiusa in una linea curva che si dice *circonferenza*, i di cui punti sono tutti egualmente distanti dal punto del mezzo detto *centro*. (*fig.* 7).

Si chiama *raggio* d'un circolo una linea retta tirata dal centro alla circonferenza. (*fig.* 7).

L'*arco* d'un circolo è una parte retta della sua circonferenza; la *corda* è una linea retta che termina all'estremità d'un arco, una linea cioè tirata nella circonferenza, ma che non passa pel centro.

Una linea retta tirata dal centro d'un circolo e prolungata da tutte le parti fino alla circonferenza si chiama *diametro*. (*fig.* 7).

Il diametro d'un circolo divide la sua circonferenza, e la sua superficie in due parti eguali chiamate *semi-circoli*. (*fig.* 7).

Un piano che passa pel centro d'un globo, o d'una sfera la divide in due parti eguali, chiamate *emisferi*. (*fig.* 8).

L'*asse* d'un globo è una linea che lo traversa perpendicolarmente passando pel centro. I circoli che sono in eguale distanza uno dall'altro in tutti i punti della loro circonferenza, e che hanno lo stesso asse, si chiamano *circoli paralelli*. (*fig.* 9).

Si sa che la circonferenza d'un circolo o grande o picccolo si divide in trecentosessanta parti eguali, che si chiamano *gradi*; ogni grado si suddivide in sessanta parti eguali, che si chiamano *minuti*; ciascun minuto in sessanta altre parti, che si chiamano *secondi*; e ciascun secondo in *terzi*, ec. I gradi, i minuti, i secondi, d'un gran circolo sono più grandi che i gradi, i minuti, i secondi, d'un piccolo cerchio. (*fig.* 10).

Ogni angolo ha tanti gradi, quanti ne ha la

parte di circonferenza alla quale corrisponde, quando la punta dell'angolo è considerata come centro; nella *figura* 11, i due angoli del centro essendo retti hanno ciascuno novanta gradi; ma nella *figura* 12 l'angolo acuto si compone di 45 gradi, e l'angolo ottuso di centotrentacinque. I due assieme formano la somma di centottanta gradi o di due angoli retti.

I poli sono le estremità dell'asse: ciascun polo è lontano novanta gradi dal piano d'un circolo.

A e *B* sono i poli del circolo *AB*. (*fig.* 8).

Nota dell'Autore. Invece di presentare ai ragazzi delle figure sulla carta, sarebbe meglio di far loro vedere gli stessi oggetti su delle palle di legno, o de' circoli di cartone.

§ II. Spiegazione della Sfera

Cos'è un globo artificiale? È un corpo rotondo e solido sul quale sono descritte tutte le parti della terra e dell'acqua colle loro rispettive situazioni e distanze.

Quali sono le linee, i punti ed i circoli che si veggono sopra il globo? Sono l'asse, i poli, l'equatore, il meridiano, i tropici, i circoli polari, i punti dello zodiaco, i punti dei solstizi, i coluri, l'orizzonte, i punti cardinali o del compasso, i punti del zenith, del nadir, ed i circoli azzimutti.

Cos'è l'asse della terra? È una linea immaginaria che passa pel centro della terra, e sulla

quale si suppone che il globo s'aggiri una volta ogni ventiquattr'ore dall'occidente all'oriente; quest'asse è di 2864 leghe di Francia (1).

Cosa sono i poli? Sono due punti dell'asse diametralmente opposti l'uno dell'altro; uno si chiama artico o settentrionale, e l'altro antartico o meridionale.

Cos'è l'equatore? È un circolo immaginario che circonda il globo nel suo centro, tra i due poli, e li divide in due parti eguali che si chiamano *emisferi*; uno *settentrionale*, l'altro *meredionale*. Il circolo dell'equatore si divide in ventiquattro parti eguali, che si chiamano *ore;* ogni ora si divide in sessanta *minuti*; e ogni minuto in sessanta *secondi*: di maniera che un'ora è eguale, o corrisponde a quindici gradi; ogni minuto del tempo è eguale e corrisponde a quindici minuti d'un grado.

Cosa sono i meridiani? Sono i circoli che si veggono passare pei poli del mondo, e che dividono l'equatore in angoli retti. Regolarmente sono tirati sul globo artificiale di quindici in quindici gradi; il che porta la varietà d'un'ora tra i vari luoghi pe' quali passano.

Cosa sono i tropici? Sono due circoli paralelli all'equatore; quello che sta al nord chiamasi *tropico del cancro*, e quello che sta al

---

(1) In questo libro si sono adottate le leghe, 25 delle quali formano un grado, e corrispondono a 60 miglia geografiche italiane.

mezzogiorno chiamasi *tropico del Capricorno*, ciascuno di questi due circoli è distante ventitre gradi e trenta minuti dall'equatore.

Cosa sono i circoli polari? Due circoli che sono distanti ventitre gradi e trenta minuti ciascuno dai poli, sono paralelli all'equatore, dal quale sono lontani sessantasei gradi e trenta minuti ciascuno.

Cos'è lo zodiaco. È un gran circolo che divide il globo in due parti eguali, e che tagliando l'equatore in due punti opposti forma con esso un angolo di ventitre gradi e trenta minuti: il circolo dello zodiaco si divide in dodici parti eguali, che si chiamano *segni*, ciascuno de' quali è composto di 30 gradi.

Cos'è l'eclittica? Un circolo che ci figuriamo trovarsi in mezzo dello zodiaco, e da dove il sole non si allontana mai nel suo movimento annuale, mentre scorre i dodici segni del circolo stesso.

Nomi e figure dei dodici segni dello zodiaco

1.	Ariete,	nel mese di marzo	♈
2.	Toro	aprile	♉
3.	Gemelli	maggio	♊
4.	Cancro	giugno	♋
5.	Leone	luglio	♌
6.	Vergine	agosto	♍
7.	Libbra	settembre	♎
8.	Scorpione	ottobre	♏
9.	Sagittario	novembre	♐
10.	Capricorno	dicembre	♑
11.	Acquario	gennaio	♒
12.	Pesci	febbraio	♓

Eccovi due versi tecnici latini onde ricordarsi più facilmente dei dodici segni:

Sunt Aries, Taurus, Gemini, Cancer, Leo, Virgo, Libraque, Scorpius, Arcitenens, Caper, Amphora, Pisces.

I primi sei si chiamano *settentrionali*, ed occupano la metà dell'eclittica che sta al nord dell'equatore; gli ultimi sei si chiamano *meridionali*, perchè occupano la parte meridionale dell'eclittica. Il sole scorre i tre primi nella primavera, ed i tre seguenti nell'estate; passa per altri tre nell'autunno e scorre gli ultimi tre nell'inverno.

Cosa sono i punti dell'equinozio ed i punti del solstizio? I due punti opposti ne' quali l'eclittica taglia l'equatore sono i *punti dell'equinozio*, perchè nel tempo in cui il sole si mostra in questi punti, i giorni sono eguali alle notti in tutta la terra; e i due punti opposti nell'eclittica che trovansi nella maggior distanza dei punti equinoziali, e che arrivano fino ai tropici, si chiamano *punti dei solstizi.*

Cos'è il circolo dell'orizzonte? L'*orizzonte visibile* è quel circolo che voi vedete in un giorno sereno, all'estremità del quale pare che il cielo e l'acqua, o il cielo e la terra si tocchino; l'*orizzonte vero* o *razionale* è quello che ha per limite il piano che passa pel centro della terra e la divide in due emisferi. (*fig.* 8). L'orizzonte c'indica il levare ed il tramontar del sole, della luna, delle stelle, alla cui comparsa sul nostro orizzonte diciamo che si levano,

e diciamo che tramontano quando vanno al di sotto dell'orizzonte e non li vediamo più.

In qual maniera conosciamo noi col mezzo dell'orizzonte i punti del compasso o della bussola ed i punti cardinali? L'orizzonte si divide in trentadue parti eguali con delle linee che si veggono tirate dal luogo ove trovasi l'osservatore, e che l'una coll'altra formano un angolo del valore della trentesimaseconda parte di trecentosessanta gradi, cioè un angolo di undici gradi e quindici minuti. I punti di queste divisioni si chiamano *punti del compasso*: i punti che dividono l'orizzonte in quattro parti sono il nord, il mezzogiorno, l'oriente e l'occidente, e si chiamano *punti cardinali.* Da qualunque parte ci troviamo questi punti si ponno facilmente riconoscere: poichè, al mezzogiorno essendo il sole nella sua maggior altezza, se gli voltate le spalle, il nord vi resta in faccia; l'oriente e l'est resta alla vostra diritta e l'occidente o l'ouest alla vostra sinistra.

Cosa sono il zenith ed il nadir? Sono due punti immaginari che si fissano in cielo: il zenith sta precisamente sul nostro capo, ed il nadir sta precisamente sotto i nostri piedi; sono anche chiamati poli dell'orizzonte.

Cosa sono i circoli azzimutti? Sono circoli descritti intorno al globo, e che s'incontrano al zenith ed al nadir nell'istesso modo che i meridiani s'incontrano ai poli della terra: essi dividono l'orizzonte in angoli retti.

Riassumendo tutto quanto si è detto intorno al globo, bisogna osservare che vi si trova:

1.° L'asse o il diametro della terra, la cui estensione, secondo i migliori osservatori, è di 2864 leghe.

2.° Quattro poli, cioè, due poli della terra, chiamati *polo settentrionale*, e *polo meridionale*; ed i due poli dell'orizzonte, che si chiamano il *zenith* ed il *nadir*.

3.° Quattro punti cardinali, chiamati *nord*, *sud*, *est* e *ouest*; ventotto secondari, i cui nomi sono composti dei primi.

4.° Sei grandi circoli, il cui piano passa pel centro della terra, e la divide in due parti eguali o emisferi; e sono, l'*orizzonte*, l'*equatore*, il *meridiano*, lo *zodiaco* e i due *coluri*.

4.° I circoli azzimutti hanno relazione col meridiano, e l'eclittica col zodiaco; la circonferenza della terra o de' circoli che si veggono sulla terra è di 9000 leghe.

6.° Due circoli minori, chiamati *tropici*.

7.° Due piccoli circoli, denominati *circoli polari*.

§ III. Applicazione della Sfera del Globo Artificiale

L'*orizzonte* d'un globo artificiale è quel largo orlo o specie di cornice di legno che vi si osserva, e che s'incontra coll'orizzonte già sopra spiegato: il globo è posto entro detto orlo di legno, e vi è unito col mezzo di due incavi, uno

al nord e l'altro a mezzogiorno, i quali servono a far entrare il meridiano. Questo circolo dell'orizzonte è molto utile per determinare il levare ed il tramontar del sole e degli astri, non che il tempo che i pianeti stanno sopra l'orizzonte, e l'aumento e la diminuzione dei giorni e delle notti in tutti i luoghi della terra.

Il *meridiano* è un gran circolo attaccato al globo con un filo di metallo, le due estremità del quale indicano i poli della terra. Siccome questo circolo divide il globo in due parti eguali, una vien detta *emisfero orientale*, e l'altra *emisfero occidentale*. Facendo scorrere a suo piacere il meridiano nei due incavi dell'orizzonte, si possono sbassare o alzare i poli.

Il *quarto del circolo* è una striscia stretta di rame che corrisponde esattamente alla quarta parte d'un meridiano, e si divide in novanta gradi. Evvi un incavo ed una madre vite in una delle estremità, onde poterlo attaccare al zenith nel meridiano quando si vogliono misurare sul globo le distanze de' luoghi.

Il *circolo delle ore* è un piccolo circolo collocato in tal modo che si può levarlo quando si vuole, e stabilirlo su d'uno o dell'altro polo del globo. All'estremità dell'asse del polo si trova un ago che, girando insieme al globo, indica le ore sul piccolo anello.

La *sfera retta* è quella ove l'orizzonte passa pei poli settentrionali e meridionali, e l'equatore pel zenith ed il nadir: i popoli che abi-

tano l'equatore si trovano in questa posizione della sfera.

La *sfera obliqua* è quella in cui uno dei poli trovasi elevato sull'orizzonte, nel tempo stesso che l'altro sta al di sotto: il zenith ed il nadir cadono allora tra l'equatore ed i poli, e l'equatore forma un angolo coll'orizzonte. I popoli che abitano tra l'equatore ed i circoli polari si trovano in questa posizione della sfera.

La *sfera paralella* è quella ove l'equatore s'incontra coll'orizzonte, ed ove i poli sono nel zenith e nel nadir: i popoli che abitano i due poli si trovano in questa posizione della sfera.

Dopo d'aver descritti in tal modo molti punti del globo e le loro posizioni, ci applichiamo a proporre alcuni PROBLEMI per meglio mostrarne la maniera di servirsene.

I. *Ricercare sul globo la latitudine e longitudine d'un luogo qualunque.* Girate il globo fino a che il luogo sia sotto il gran meridiano: il numero dei gradi che si troveranno dopo l'equatore fino al punto del meridiano che corrisponde a questo luogo indicherà la sua latitudine; il grado del meridiano che sarà sotto l'equatore indicherà la sua longitudine.

II. *Dopo che si è trovata la longitudine e la latitudine di un luogo, trovarne la posizione sul globo.* Girate il globo fino a che la longitudine già trovata sia sotto il meridiano; numerate su questo circolo il grado di latitudi-

ne, o al nord, o al sud, e fatevi un punto: il luogo che si troverà direttamente sotto questo punto sarà quello che voi cercate.

III. *Modo di misurare sul globo la distanza che passa tra due luoghi dati.* Prendete la loro distanza col compasso, ed applicatela all'equatore: voi conterete i gradi che saranno tra i due punti del vostro compasso; allora, moltiplicando ciascuno di questi gradi per venticinque leghe, nel risultamento voi troverete esattamente quello che cercate.

IV. *Rettificare il globo.* Quando il globo è posto su d'un piano ben eguale, alzate il polo secondo la data latitudine; fissate di poi il quarto del circolo nel zenith, e se sul piede vi è una bussola, mettete il globo in modo che il gran meridiano sia posto direttamente al sud o al nord come i due punti dell'ago: allora il globo sarà nell' egual posizione della terra.

V. *Modo di ritrovare ad una cert'ora fissata l'ora che fa in qualch' altro luogo.* Mettete il luogo ove voi siete sotto il gran meridiano, nello stesso tempo il polo deve essere elevato secondo la latitudine del luogo; mettete l'ago orario sull'ora indicata dal vostro orologio; girate il globo tanto, che il luogo da voi cercato si trovi sotto il meridiano, e l'ago indicherà l'ora richiesta.

VI. *Ricercare la declinazione del sole, cioè la sua distanza dall'equatore*, o *settentrionale*,

o *meridionale.* Avendo messo sotto il meridiano il luogo del sole pel giorno fissato, i gradi del meridiano compresi tra l'equatore ed il luogo di cui si tratta indicheranno la declinazione del sole di quel giorno. In tal modo, nel venti aprile, la declinazione settentrionale è di undici gradi e mezzo, ma nel 26 ottobre la declinazione meridionale è di undici gradi e mezzo.

§ IV. Paragone degli abitanti della terra tra di loro rispetto alle loro zone ed alle loro ombre

Il globo terrestre è diviso dai tropici e dai circoli polari in cinque parti, chiamate zone, che, in greco, vuol dire *cintura:* tra queste zone avvene una torrida o ardente, due temperate e due fredde; i loro abitanti, secondo la differente direzione delle loro ombre al mezzogiorno, sono diversamente chiamati.

La zona torrida sta tra i due tropici; i raggi del sole vi sono perpendicolari quasi tutto l'anno, ed è per questo che gli antichi credevano che questa parte del mondo non fosse abitata. La sua estensione è di quarantasette gradi, cioè di 1175 leghe; l'equatore vi sta in mezzo, e la divide in due parti eguali, di gradi ventitre e trenta minuti per ciascuna.

Gli abitanti di questa zona sono chiamati *anfisci*, che vuol dire *a due ombre*, perchè il sole si trova, in varie epoche dell'anno, ora

al nord ed ora al mezzodì del loro zenith: le loro ombre si volgono verso il nord, quando il sole è al sud del loro zenith; e, quando hanno il sole al nord, le ombre si volgono al sud. Ma, trovandosi il sole due volte l' anno direttamente sul loro zenith, non hanno alcun' ombra al mezzogiorno; e perciò vengono chiamati *asci*, cioè popoli senz' ombra. *Anfisci* viene dalla parola greca *amphi*, due, e da *shia*, ombra (due ombre). *Asci*, deriva da *a*, senza, e da *shia*, ombra (senz' ombra).

Le due zone temperate stanno fra i tropici ed i circoli polari; i raggi del sole vi sono sempre obliqui, tanto nel gran caldo, che nel gran freddo: l' estensione di ciascuna delle zone temperate è di quarantatre gradi o di 1075 leghe. Gli abitanti di queste zone si chiamano *eterieci*, che vuol dire *ombre varie*, perchè le ombre degli uni sono sempre opposte a quelle degli altri: a mezzogiorno l'ombra degli abitanti della zona temperata del nord si volge verso il nord, e l'ombra di quelli che abitano la zona temperata del mezzogiorno si volge verso il sud. *Eterieci* è formato da *eteros*, differente, e da *shia*, ombra (di different' ombra).

Le due zone fredde sono poste tra i due circoli polari ed i poli; gli antichi credettero per molto tempo che non fossero abitate: la loro estensione è di ventitre gradi e trenta minuti per ciascuna, o di 587 leghe e mezzo. Gli abitanti di queste zone si chiamano *perieci*,

perchè in certe stagioni veggono che il sole si aggira per qualche giorno di seguito intorno al loro orizzonte, secondo trovasi più o meno distante dal polo; in conseguenza la loro ombra s'aggira intorno di loro. *Perieci* deriva da *peri*, rotondo o giro, e da *shia*, ombra (ombra dintorno).

ABITANTI DELLE VARIE ZONE

I. *Zona torrida.* 1.° Una parte dell'Affrica, cioè, dalla parte meridionale del Monomotapa fino alla parte settentrionale della Nubia e della Nigrizia. 2.° Una parte dell'Asia, cioè, dalla parte la più meridionale sino alla parte meridionale dell'Arabia deserta, dell'antico Mogol e della China. 3.° Una gran parte dell'America, cioè, dal capo San-Luca nella California sino a Rio Janeiro nel Brasile, e sino alla parte meridionale del Perù.

II. *Zona temperata settentrionale.* 1.° Essa comprende quasi tutta l'Europa, cioè dal capo Matapan fino a Tornea, e la parte settentrionale della Botnia. 2.° Una gran parte dell'Asia, cioè, dal mezzo dell'isola Formosa, Canton, Daca e Mascate, fino all'imboccatura dell'Oby ed alla Tartaria settentrionale. 3.° Una gran parte dell'America, cioè, dal capo San-Luca e dall'Avana fino al capo del principe di Galles, ed alla parte settentrionale dell'isola di Buona Fortuna.

III. *Zona temperata meridionale.* 1.° Com-

prende la parte più meridionale dell'Affrica, cioè, dal capo delle correnti, la città di Sant'Agostino nell'isola di Madagascar, il capo Capricorno nella Nuova Olanda, fino al mare del Sud e la Nuova Zelanda. 2.° Una gran parte dell'America meridionale, cioè, dopo Rio Janeiro fino al capo Horn.

IV. *Zona glaciale settentrionale.* 1.° Comprende la parte settentrionale dell'America, cioè, dopo la Groenlandia ed il paese che è dopo il capo del principe di Galles e la parte meridionale dell'isola di Cumberland fino al polo. 2.° Una piccola parte dell' Europa, cioè, la Nuova Zembla, la punta della Norvegia, la Laponia e lo Spitzberg. 3.° Una gran parte della Tartaria, cioè, dall'imboccatura dell'Oby fino al polo.

V. *Zona glaciale meridionale.* Questi paesi sono quasi intieramente sconosciuti. La loro lontananza e l'impetuosità delle burrasche e de' venti che i navigatori v'incontrano, li forza a retrocedere.

§ V. Paragone degli abitanti della terra fra di loro rispetto al loro clima

Un clima è un'estensione di terra rinchiusa tra due paralelli di latitudine, i di cui abitanti hanno i giorni più lunghi o più corti de' loro vicini.

Tutta la superficie del globo è divisa in sessanta clima: se ne contano ventiquattro dall'equatore a ciascuno de' circoli polari, e que-

sti clima variano tra di loro circa una mezz'ora di giorno; dai due circoli polari ai poli stessi si contano sei clima che variano tra di loro di giorni di un mese intiero. L' estensione di paese compresa in ciascun clima di mezz'ora è tanto meno grande quanto più questo clima s'allontana dall'equatore; e l'estensione de' paesi dei clima di mesi è tanto più grande quanto più il clima si scosta dai circoli polari, e si accosta ai poli.

Clima al nord dell'Europa

Clima d'una mezz'ora.

Clima I, lat. 8° 25'; *giorno* 12 *or.* 30 *m.* Nel primo clima trovasi la costa d'Oro, dei Denti, e la Malaguetta in Guinea, Malacca, Caienna, Surinam, ecc.

Clima II, lat. 16° 25'; *giorno* 13 *or.* L'Abissinia, Siam, Madras, Pondichéry, l'istmo di Panama, Tabago, la Granata, San-Vincenzo, la Barbada, ecc.

Clima III, lat. 23° 50'; *giorno* 13 *or.* 30 *m.* La Mecca, Bombay, una parte del Bengala, Canton, il Messico, la Baia di Campêche, la Giamaica, San-Domingo, la Guadalupa.

Clima IV, lat. 30° 25'; *giorno* 14 *or.* L'Egitto, le isole Canarie, il Delhy, il golfo del Messico, la Florida e l'Avana.

Clima V, lat. 36° 28'; *giorno* 14 *or.* 30 *m.* Gibilterra, una parte del mediterraneo, la

costa di Barbaria, Gerusalemme, Ispahan, Nankin, la California, il Nuovo Messico, la Florida occidentale, la Georgia, la Carolina.

Clima VI, lat. 41° 22′; *giorno* 15 *or.* Lisbona, Madrid, Minorica, Sardegna, una parte della Grecia, l'Asia Minore, una parte del mar Caspio, Samarcanda, Pekin, la Corea, il Giapone, Williamsburgo, il Maryland e Filadelfia.

Clima VII, lat. 45° 29′; *giorno* 15 *or.* 30 *m.* Le province settentrionali della Spagna, la parte meridionale della Francia, Torino, Genova, Roma, Costantinopoli, il mar Nero, il mar Caspio, una parte della Tartaria, Nuova-York e Boston.

Clima VIII, lat. 49° 10′; *giorno* 16 *or.* Parigi, Vienna, la Nuova Scozia, Terra Nuova ed il Canadà.

Clima IX, lat. 52°; *giorno* 16 *or.* 30 *m.* Londra, la Fiandra, Praga, Dresda, Cracovia, le province meridionali della Russia, una parte della Tartaria e di Terra Nuova.

Clima X, lat. 54° 27′; *giorno* 17 *or.* Dublino, York, l'Olanda, Annover, Varsavia, la Tartaria, il Labrador ed il nuovo paese di Galles al mezzogiorno.

Clima XI, lat. 56° 37′; *giorno* 17 *or.* 30 *m.* Edimburgo, Copenaghen, Mosca.

Clima XII, lat. 58° 29′; *giorno* 18 *or.* La parte al sud della Svezia e Tobolsk.

Clima XIII, lat. 59° 58′; *giorno* 18 *or.* 30 *m.* Le Orcadi, Stockolm.

Clima XIV, lat. 61° 18′; *giorno* 19 *or.* Bergen in Isvezia, Pietroburgo.

Clima XV, lat. 62° 25′; *giorno* 19 *or.* 30 *m.* Abo, Wiburgo e lo stretto d'Hudson.

Clima XVI, lat. 63° 20′; *giorno* 20 *or.* La Siberia e la parte al sud della Groenlandia.

Clima XVII, lat. 64° 6′; *giorno* 20 *or.* 30 *m.* Dronteim in Norvegia.

Clima XVIII, lat. 64° 49′; *giorno* 21 *or.* Una parte della Finlandia.

Clima XIX, lat. 65° 21′; *giorno* 21 *or.* 20 *m.* Pitea in Isvezia, Arcangelo.

Clima XX, lat. 65° 45′; *giorno* 22 *or.* Il monte Hecla in Islanda.

Clima XXI, lat. 66° 6′; *giorno* 22 *or.* 30 *m.* La parte al nord della Siberia.

Clima XXII, lat. 66° 20′; *giorno* 23 *or.* La Nuova Galles settentrionale.

Clima XXIII, lat. 66° 28′; *giorno* 23 *or.* 30 *m.* Lo stretto di Davis e del Nord.

Clima XXIV, lat. 66° 31′; *giorno* 24 *or.* La Samoieda, la parte settentrionale dell'Islanda e dell'isola di Buona Fortuna.

Clima d'un mese.

Clima XXV, lat. 67° 21′; *giorno* 1 *mese.* La parte meridionale della Laponia.

Clima XXVI, lat. 69° 48′; *giorno* 2 *mesi.* La Groenlandia occidentale.

Clima XXVII, lat. 73° 37′; *giorno* 3 *mesi.* La Zembla australe.

Clima XXVIII, lat. 78° 30′; *giorno* 4 *mesi.* La Zembla boreale.

Clima XXIX, lat. 84° 5′; *giorno* 5 *mesi.* Lo Spitzberg o Groenlandia orientale.

Clima XXX, lat. 90°; *giorno* 6 *mesi.* Incognito.

§ VI. Paragone degli abitanti della terra tra di loro rispetto alle loro rispettive latitudini e longitudini.

Essi sono *antieci*, *perieci* o *antipodi.*

Antieci.

Questi sono que' popoli che si trovano sopra lo stesso meridiano, ma sotto de' paralelli opposti, cioè, se uno dei due è posto al quarantesimo grado di latitudine al nord, l'altro trovasi al quarantesimo grado di latitudine al sud. In conseguenza:

1.° Gli antieci hanno de' poli egualmente alti; ma non hanno lo stesso polo.

2.° Gli antieci sono in egual distanza dall'equatore, ma gli uni stanno nella latitudine del nord, e gli altri in quella del sud.

3.° Tutte le ore del giorno e della notte sono eguali presso i due popoli, perchè son posti tutti e due sotto lo stesso meridiano.

4.° I giorni degli uni sono eguali alle notti degli altri, per la loro opposta latitudine, e perchè il sole si leva o tramonta più presto o più tardi relativamente agli uni ed agli altri. Ma, quando il sole è nell'equatore, i giorni

sono eguali pei due popoli, perchè tramonta e si leva egualmente rapporto a tutti e due.

5.° Il giorno più lungo per gli uni, è più corto per gli altri; e la notte più lunga per gli uni, è più corta per gli altri, perchè il loro meridiano è lo stesso, ma la loro latitudine è opposta.

6.° Le stagioni dell'anno sono opposte le une alle altre pei due popoli, cioè, quando gli uni hanno l'inverno, gli altri hanno l'estate; ma questa differenza di stagione è poco sensibile per gli antieci che abitano la zona torrida.

7.° I popoli che sono sotto l'equatore non hanno antieci. La parola antieci deriva dal greco *anti*, in faccia o dirimpetto, *aiços*, casa; come se questi popoli avessero le loro case dirimpetto l'una dell'altra.

Perieci.

Questi sono que' popoli che si trovano sopra la stessa latitudine, tanto del nord, che del sud, ma sopra opposti meridiani, cioè che se uno d'essi è sotto il cinquantesimoprimo grado di latitudine al nord, l'altro è sotto il cinquantesimoprimo grado della stessa latitudine, ma uno nell'emisfero orientale, e l'altro nell'occidentale. In conseguenza:

1.° I perieci o quelli che stanno nella latitudine del nord, o quelli che stanno in quella del sud, hanno ciascuno il loro polo egualmente alto, perchè sono nello stesso grado di latitudine.

2.° Sono egualmente lontani dall'equatore perchè sono sopra la stessa latitudine.

3.° Quando gli uni hanno il mezzogiorno, gli altri hanno la mezzanotte, e quando sono le dieci ore di mattina presso gli uni, sono le dieci di sera presso gli altri, perchè sono sopra de' meridiani opposti.

4.° La lunghezza della notte e del giorno è eguale presso i due popoli, perchè sono in egual distanza dall'equatore.

5.° Hanno nello stesso tempo le quattro stagioni, perchè tutti e due si trovano sotto lo stesso grado di latitudine.

6.° Gli abitanti dei poli non hanno perieci. La parola perieci viene dal greco *peri*, giro o cosa che gira, e da *aicos*, casa, cioè *casa negli stessi paralelli.*

Antipodi.

Questi sono popoli che si trovano sopra dei meridiani e dei paralelli opposti, cioè se gli uni sono sopra il quarantesimo grado di latitudine al nord, gli altri sono sopra il quarantesimo grado di latitudine al sud; e se gli uni sono nell'emisfero orientale, gli altri sono nell'emisfero occidentale.

1.° Gli antipodi hanno la stessa elevazione del loro polo, perchè sono sotto lo stesso grado di latitudine, una al nord, l'altra al mezzogiorno.

2.° Sono in egual distanza dall'equatore, abbenchè gli uni siano nell'emisfero meridio-

nale, e gli altri nell'emisfero settentrionale; gli uni nell'emisfero orientale, e gli altri nell'emisfero occidentale.

3.° Quando presso gli uni fa mezzogiorno, presso gli altri fa mezzanotte; quando presso gli uni sono le sette di mattina, presso gli altri sono le sette di sera, perchè hanno de' meridiani opposti.

4.° Il giorno più lungo presso gli uni è il più corto presso gli altri, la notte più lunga presso gli uni è la più corta presso gli altri, perchè abitano de' paralelli e sopra de' meridiani opposti.

5.° Quando c'è estate per gli uni, presso gli altri c'è inverno, perchè la loro latitudine è opposta.

6.° I piedi degli uni sono direttamente opposti a quegli degli altri, perchè sono in una posizione diametralmente contraria sopra il globo. Antipodi deriva dal greco *anti*, contro, *podos*, piedi (piede contro piede).

TAVOLA DEGLI ANTIECI

NELL'EMISFERO SETTENTRIONALE.	NELL'EMISFERO MERIDIONALE.
Monti Sierra Leona	Isola di Sant'Elena
Egitto	Monomotapa
Arabia felice	Isola di Madagascar, N.
Arabia deserta	Isola di Madagascar, S.
Isola di Guahan	Nuova Olanda, N.
Hoan-Ho o fiume Giallo	Terra di Notte, N. O.
Isola di Jesso o Cicha	Isola di Van Diemen
Isola di Candia	Golfo di San-Lorenzo
Tripoli	Ottentotti

Nubia
Nuova Bretagna o Labrador
Nuovo Hampshire
Lago Ontario
Filadelfia
Charles-Town
Capo Florida
Isola di San-Domingo
Terra Ferma, al nord
Monomotapa, al nord
Terra del Fuoco
Chili e Patagonia
Isola di Chiloe
Costa occidentale del Chili
Isola di Giovanni Fernandez
Isola di San-Felice
La Plata, nel Perù
Cusco

TAVOLA DE' PERIECI

NELL' EMISFERO ORIENTALE.

Imboccatura del fiume Lena
Capo Ghiacciato
Nuova Zembla
La Siberia, al nord
Fiume Lena
Montagne Yablonoy
Tartaria russa, al nord
Kamtschatka, al nord
Isole Shetland
Amsterdam
Fiume Jenisey
Lago Baikal
Fiume Amur
Tartaria indipendente
Tartaria ed il lago Aral
Tartaria chinese
Tcitcicar
Sahara, presso la Nubia
Monti Himma-Leh
Imboccatura dell' Indo
Regno di Tonquin
Baia di Bengala, N.
Isole Filippine
Isola di Hainan
Regno di Camboge

NELL' EMISFERO OCCIDENTALE.

Isola di James
Baia di Baffin, N. O.
Terre incognite del Canadà
La Groenlandia
Stretto di Davis
Groenlandia, al sud
Isola di Buona Fortuna
Islanda
Isola Gorea, Arc. del nord
Isole delle Volpi
Baia d'Hudson
Labrador, all' ouest
Stretto di Belle-Ile
Luigiana, al nord
Capo Bianco, N. Messico
Basso-Canadà
Terra Nuova
Isole di Sandwich
Santa-Fè
California, al sud
Isola di Cuba
Penisola di Yucatan
Piccole Antille
San-Domingo
Giamaica

Istmo di Malacca	Provincia di Darien
Isola di Borneo, al nord	Terra Ferma, al nord
Le Molucche	Paesi delle Amazzoni
Nuova Guinea	Brasile, al nord
Nuova Olanda, al nord	Brasile, al centro
Monomotapa, al nord	Isole della Società
Nuova Olanda, all'ouest	Parte delle Cordigliere

TAVOLA DEGLI ANTIPODI

NELL'EMISFERO ORIENTALE.	NELL'EMISFERO OCCIDENTALE.
Lago Baikal	Patagonia, al sud
Madrid	Stretto di Cook
Tartaria chinese	Patagonia
Impero di Marocco, N.	Capo Nord, N. Zelanda
Sorgente dell'Hoan-Ho.	Isola di Gio. Fernandez
Pekin	Patagonia, al nord
Mar Giallo, al nord.	Imbocc. del Rio della Plata
Corea, al sud	Capo Santa-Maria
Capo Bianco in Affrica	Nuova Caledonia
Monti di Kong	Isole degli Amici
Nubia	Isole della Società
Sud-ouest della China	Isola di San-Felice
Isola di Hainan	La Plata
Isola Formosa, al nord.	L'Assunzione, Paraguay
Guinea, al nord	Nuove Ebridi
Golfo di Siam, all'est	Città di Lima
Isole Filippine	Terra delle Amazzoni
Stretto di Malacca	Golfo di Guayaquil
Isola di Borneo	Paese delle Amazzoni, N.
Isola di Gilolo	Imb. del fiume delle Amazz.
Isola di Sumatra, al sud	Terra Ferma, al sud.
Sorgente di Zambèze	Isola Owhyhee
Terre de' Leoni, N. Olanda	Isole Bermudi
Isola di Van-Diemen	Isole Azzorre

AGGIUNTA
ALLA
GEOGRAFIA
DI
GAULTIER

DI TUTTE LE NOZIONI CHE POSSONO SERVIRE A DARE UN PIU' ESTESO RAGGUAGLIO DELL' ITALIA E DELL' IMPERO D'AUSTRIA, NON CHE DI UNA TAVOLA INDICANTE LA POPOLAZIONE DI TUTTI GLI STATI DELL' EUROPA E DELLE PRINCIPALI CITTA' DEL MONDO.

SEZIONE VI.

Geografia dell' impero d'Austria.

LEZIONE I.

(Sotto la denominazione d'impero d'Austria s'intendono tutti que' paesi che in un coll'arciducato d'Austria, propriamente detto, sono riuniti in un sol dominio).

301. *In qual situazione si trovano questi paesi?* Giacciono tutti sotto la zona temperata dell' emisfero settentrionale, tra il 42° 10′ ed il 51° 2′ di latitudine settentrionale, e tra il 26° 14′ ed il 44° 10′ di longitudine orientale dell' isola del Ferro. (4 marche).

302. *Quali sono i confini di questi paesi?* Confinano all'est colla Russia e la Turchia; al sud pure coll'impero Turco, il mare Adriatico, coi diversi Stati italiani posti su la diritta del Po, lo Stato Pontificio cioè, Modena, Parma ed una parte del Piemonte; all'ouest col Piemonte, la Svizzera e la Baviera; al nord colla Svizzera, la Baviera, la Sassonia, la Slesia prussiana, Cracovia ed il regno di Polonia. (4 marche).

303. *Qual è la superficie e la popolazione dell'impero d'Austria?* L'impero d'Austria ha una superficie maggiore di circa 194,000 miglia quadrate italiane. La sua popolazione non è minore di trenta milioni di abitanti. (2 marche).

Come si divide l'impero d'Austria? In occidentale, orientale, meridionale e settentrionale. (2 marche).

LEZIONE II.

PAESI OCCIDENTALI DELL'IMPERO D'AUSTRIA

304. *Quali sono i paesi occidentali dell'impero d'Austria?* La bassa Austria, o arciducato d'Austria propriamente detto, al di sotto e al di sopra del fiume Ens, col territorio di Salisburgo, la Stiria, il Tirolo, con le signorie di Vorarlberg, la Boemia, la Moravia e la Slesia. (3 marche).

305. *Come dividesi l'arciducato d'Austria?* In territorio al di sotto, e al di sopra dell'Ens. In quest'ultimo vi è compreso il territorio di Salisburgo. (2 marche).

306. *Quali sono i confini del territorio al di sotto dell'Ens?* All'est l'Ungheria, all'ouest il paese al di sopra dell'Ens, al nord la Boemia e la Moravia, al sud la Stiria. (3 marche).

307. *Quali sono le principali città di questo paese?* Vienna, capitale dell'arciducato d'Austria e di tutta la monarchia, ove risiede l'imperatore. Essa giace in gran parte sulla sponda destra del Danubio. Vi si trovano ancora Neustadt, Baden, Haimburg, San-Polten, Tuln, Krems, Korneuburg ed altre città. (4 marche).

308. *Quali sono i confini del territorio al di sopra dell'Ens?* Questi paesi confinano al nord con la Boemia, al sud con la Stiria, all'est col paese al di sotto dell'Ens, all'ouest col regno di Baviera. (3 marche).

309. *Quali sono le principali città di questi paesi?* Linz, posta sulla riva destra del Danubio, Wels, Ens, Freystadt, Braunau, Salisburgo, Hallein, ec. (3 marche).

310. *Quale religione si professa nell'arciducato d'Austria?* La religione dominante è la cattolica, ma vi sono anche molti protestanti, i quali professano liberamente il loro culto. La giurisdizione ecclesiastica, rispetto ai cattolici, è esercitata ne' paesi al di sotto dell'Ens dall'arcivescovo di Vienna, e dal vescovo di San-Polten; e ne' paesi al di sopra dell'Ens, dall'arcivescovo di Salisburgo e dal vescovo di Linz. Le comunioni protestanti hanno i loro propri concistori, sopraintendenti e predicatori. (4 marche).

311. *Quale lingua si parla nell'arciducato d'Austria*? La lingua tedesca. (1 marca).

312. *Quali sono i principali fiumi e riviere che bagnano questi paesi*? Il Danubio, l'Ens che separa i due territori dell'arciducato, la March, il Leitha, l'Inn, lo Steyer, il Traun. (4 marche).

IL DUCATO DELLA STIRIA

313. *Come si divide la Stiria, e quali sono i suoi confini?* In due parti, la Stiria superiore, e Stiria inferiore. La Stiria superiore si suddivide in due circoli, cioè di Judenburg e di Bruck che ne sono le principali città; l'inferiore in tre, le cui principali città sono Gratz, Marburg e Cilly. La Stiria confina coll'Austria, Ungheria, Croazia, Illiria e Baviera. (4 marc

314. *Quale religione vi si professa*? La cattolica, ma vi sono molti protestanti. La giurisdizione ecclesiastica vi è esercitata dal vescovo di San-Kan, che dimora però a Gratz, e dal vescovo di Levante. (2 marche).

315. *Quale lingua vi si parla*? La lingua tedesca. Nella Stiria inferiore però, principalmente nel circolo di Cilly, si usa la lingua vanda, che è un dialetto della slava. (2 marc.)

316. *Quali sono i principali fiumi e riviere che bagnano la Stiria*? L'Ens, il Mur, la Drava, la Sava, ec. (3 marche).

LA CONTEA PRINCIPALE DEL TIROLO
COLLE SIGNORIE DI VORARLBERG

317. *Come si divide il Tirolo e quali sono i suoi confini?* In sette circoli, compreso il territorio delle signorie di Vorarlberg, cioè nei circoli della valle dell'Inn inferiore, che ha Innsbruck per capitale; in quello della valle dell'Inn superiore, che ha Imst per principale borgo; nel circolo di Pusterhal, che ha per città principale Brunnecken; nel circolo di Bolzano; la cui principale città è Bolzano; nel circolo di Trento, che ha Trento per capitale; nel circolo di Roveredo, la cui principale città è Roveredo; e nel circolo di Bregens, che ha Bregens per città principale. Il Tirolo confina all'est colla Carinzia, al sud col regno Lombardo-Veneto, all'ouest coi Grigioni e col lago di Costanza, al nord colla Baviera ed il Salisburghese. (6 marche).

318. *Quale religione si professa in Tirolo?* La cattolica generalmente. La giurisdizione ecclesiastica vi è esercitata dai vescovi di Trento e di Bressanone. (2 marche).

319. *Quale lingua si parla in Tirolo?* La lingua tedesca è la dominante; ma il linguaggio dell'uomo volgare è però impuro, ed ai confini dell'Italia vi si parla l'italiano. (2 marc.)

320. *Quali sono i principali fiumi e riviere che bagnano il Tirolo?* L'Inn, l'Adige, il Lech, l'Isara, la Drava, la Brenta, il Reno (3 marc.)

IL REGNO DELLA BOEMIA

321. *Come si divide la Boemia e quali sono i suoi confini?* In sedici circoli che la maggior parte prendono il nome dalle città capo-luoghi, cioè di Bunzlau, Bidschov, Königingratz, Chrudim, Czaslau, Tabor, Budweis, Prackin, Klattau, Pilsen, Elbogen, Sautz, Leitmeritz, Rukonitz, Kaurzim, Beraun; Praga è la capitale del regno della Boemia. Questo paese confina al nord colla Lusazia e Sassonia; al sud coll'Austria e la Baviera; all'est colla Slesia, Glatz e la Moravia; all'ouest colla Baviera. (6 marche).

322. *Quale religione si professa nella Boemia?* La dominante è la cattolica; ma vi sono molti protestanti ed ebrei, i quali hanno pure libero esercizio di culto. La giurisdizione ecclesiastica sui cattolici è esercitata dall'arcivescovo di Praga, e dai tre vescovi di Leitmeritz, Königingratz e Budweis. (3 marche).

323. *Qual lingua vi si parla?* La tedesca e boema (slava) vi si parlano generalmente: vi sono però de' paesi ove non si parla che una sola di queste lingue. (2 marche).

324. *Quali sono i fiumi e le riviere principali che bagnano la Boemia?* L'Elba, la Moldava e l'Eger. (2 marche).

IL MARGRAVIATO DELLA MORAVIA

325. *Come si divide il margraviato della Moravia, e quali sono i suoi confini?* In sei

circoli, che prendono il loro nome dalle città capo-luoghi de' medesimi, cioè di Olmütz, di Brünn, di Prerau, di Hradisch, d'Iglau e di Znaym. La Moravia confina al nord colla contea di Glatz e colla Slesia, al sud coll'Austria, all'est colla Slesia e coll'Ungheria, all'ouest colla Boemia. (6 marche).

326. *Quale religione si professa nella Moravia?* La cattolica, ma vi sono anche de' protestanti. L'arcivescovo di Olmütz divide col vescovo di Brünn la giurisdizione ecclesiastica. (2 marc.)

327. *Quale lingua si parla nella Moravia?* La lingua del paese, come quella della Boemia, è un linguaggio slavo. Quasi dappertutto si parla però anche il tedesco, ed in molti luoghi non si parla che il solo tedesco. (2 marche).

328. *Quali sono i principali fiumi e riviere che bagnano la Moravia?* La Morava, il Teja, l'Oder. (2 marche).

IL DUCATO DELLA SLESIA

329. *Come si divide il ducato della Slesia, e quali sono i suoi confini?* La Slesia austriaca (della quale sola qui si tratta) si divide in due circoli: quello di Troppau, le cui principali città sono Troppau e Jägendorf; e quello di Teschen, le cui principali città sono Teschen e Jablunka. La Slesia austriaca confina al nord colla Slesia prussiana, all'ouest colla contea di Glatz e la Moravia, al sud colla Moravia e l'Ungheria, ed all'est colla Gallizia. (6 marche).

330. *Quale religione si professa nella Slesia?* La dominante è la cattolica: vi sono però molti protestanti. Il vescovo di Breslavia esercita la giurisdizione ecclesiastica sui cattolici. (2 mar.)

331. *Quale lingua si parla nella Slesia?* La tedesca generalmente, ma ai confini della Moravia e della Gallizia si parla anche la slava. (2 marche).

332. *Quali sono i principali fiumi e riviere che bagnano la Slesia?* L'Oder, l'Oppa, l'Elsa, l'Orawitza, la Vistola e la Biala. (3 marche).

LEZIONE III.

PAESI ORIENTALI DELL'IMPERO D'AUSTRIA

333. *Quali sono i paesi orientali dell'impero d'Austria?* Il regno d'Ungheria, i regni uniti della Croazia e della Schiavonia, ed il gran ducato di Transilvania. (3 marche).

IL REGNO DELL'UNGHERIA

334. *Come si divide l'Ungheria, e quali sono i suoi confini?* In alta e bassa Ungheria. L'alta si suddivide in circoli al di qua e di là della Teiss, e la bassa in circoli al di qua e di là del Danubio. Ognuno de' circoli si suddivide in comitati e distretti. Nella bassa Ungheria evvi Buda che è la capitale di tutto il regno, e Presburgo in cui si fanno le incoronazioni e si tengono le diete; e nell'alta Ungheria la principale città è Leutschau. L'Ungheria confina al nord colla

Slesia e colla Gallizia (la quale n'è divisa dai monti Carpazi), all'est colla Transilvania e colla Valacchia, al sud colla Servia e la Schiavonia, all'ouest colla Stiria, l'Austria e la Moravia. (6 marche).

335. *Quale religione si professa nell'Ungheria?* La dominante è la cattolica; ma quasi la metà degli abitanti appartiene alla chiesa protestante ed alla greca, con libero esercizio del proprio culto; gli arcivescovi di Gran, Colocza ed Erlau esercitano insieme ai vescovi la giurisdizione ecclesiastica sui cattolici. I Greci uniti hanno tre vescovi dipendenti dall'arcivescovo di Carlowitz. Gli evangelici hanno del pari che i riformati quattro sopraintendenti. (4 marche).

336. *Quale lingua si parla nell'Ungheria?* Vi si parlano quattro lingue principali, cioè l'ungarese, la tedesca e la slava (le quali si chiamano anche lingue patrie); la quarta è la latina, che si può risguardare come la lingua generale dell'Ungheria, perchè non solo si usa in tutti i tribunali e per gli affari del paese, ma anche dalla maggior parte degli abitanti, abbenchè si parli impuramente. (4 marche).

337. *Quali sono i fiumi e le riviere principali che bagnano l'Ungheria?* Il Danubio, la Morava, il Gag, il Grun, il Temes, la Teiss, la Leita, il Ruab e la Drava. Evvi nell'Ungheria un canale degno di osservazione, che serve di comunicazione tra la Teiss ed il Danubio, chiamato il nuovo canal Francesco. (4 marc.).

338. *Come si divide il regno della Croazia, e quali sono i suoi confini?* Tutto il paese si divide nel distretto provinciale, nel quale si comprendono tre comitati, quello d'Agram, che è la capitale del paese, e quelli di Varadino e Creuz, che sono anche le principali città; e nel circondario militare, nel quale si comprendono tre generalati, quello di Carlstadt, della frontiera del Banato e di Varadino, le cui principali città sono Glina e Belovar. La Croazia confina al nord, colla Stiria e l'Ungheria (da cui è separata per mezzo della Drava), all'est colla Schiavonia, la Croazia turca e la Bosnia, al sud colla Dalmazia ed all'ouest coll'Illiria e col mare Adriatico. (6 marche).

339. *Quale religione si professa nella Croazia?* I Croati propriamente detti professano la religione cattolica, ma sonovi però molti Greci uniti. La giurisdizione ecclesiastica sui cattolici di rito latino è esercitata dal vescovo di Agram o Zeny, e sui cattolici di rito greco dal vescovo di Creuz. (3 marche).

340. *Qual è la lingua che si parla nella Croazia?* La lingua del paese è la slava; ma la tedesca si è pur difusa tra questi popoli, e nei circondari confinanti coll'Ungheria si parla alcun poco l'ungharese. (3 marche).

341. *Quali sono i fiumi e riviere principali che bagnano la Croazia?* La Drava, la Sava, la Kulpa e l'Unna. (3 marche).

IL REGNO DELLA SCHIAVONIA

342. *Come si divide il regno della Schiavonia e quali sono i suoi confini?* Come la Croazia si divide nel distretto provinciale, ovvero Schiavonia propria, nel quale si comprendono tre comitati, quello di Werowitz, la cui principale città è Essek, quello di Possega, che n'è pure la principale città, e quello di Sirmich il cui capoluogo è Vukovar, borgo assai vago e grande; nel circondario militare, il quale consiste in tre reggimenti, o circondari, quello di Petervaradino, che è una fortezza importantissima, Carlowitz n'è la principale città, quello di Brod, che ha Brod per città principale, e quello di Gradisca, in cui evvi la Nuova Gradisca, città recentemente costrutta. La Schiavonia confina all'ouest colla Croazia, al nord coll'Ungheria, all'est ed al sud colla Servia. (8 marche).

343. *Quale religione si professa nella Schiavonia?* Parte degli abitanti professano la cattolica e dipendono spiritualmente dai vescovi di Diakowar nella Schiavonia, di Agram in Croazia, e di cinque chiese in Ungheria; altra parte la religione greca eterodossa, e questi sono soggetti all'arcivescovo di Carlowitz, ed al vescovo di Pakratz. (4 marche).

344. *Qual è la lingua che si parla nella Schiavonia?* La slava mista coll'antica illirica è la lingua generale; ma la tedesca si va ogni giorno di più diffondendo nel paese. (3 marc.)

345. *Quali sono i principali fiumi e riviere che bagnano questo paese?* La Drava e la Sava. (2 marche).

GRAN DUCATO DELLA TRANSILVANIA

346. *Come si divide il gran ducato della Transilvania e quali sono i suoi confini?* In tre parti principali: il paese degli Ungari che si suddivide in comitati; ed il paese degli Szekler e dei Sassoni che si suddividono in giudiciarie. Nel paese degli Ungari trovansi le città di Carlsburg e di Klausenburg, oltre molti borghi; il paese degli Szekler ha Maros Vasarhey per città principale, ed in quella dei Sassoni trovansi Hermanstadt, che è la principale città del gran ducato e Schasburg, Kronstadt, Megyes e Bistritz, altre città degne di rimarco. La Transilvania confina al nord coll'Ungheria e la Gallizia, all'est colla Moldavia, al sud colla Valacchia, all'ouest coll'Ungheria. (8 marche).

347. *Qual è la religione che si professa nella Transilvania?* Quattro, ed i loro seguaci godono uguali diritti e prerogative sotto le veglianti leggi. Sonovi dei cattolici, nei quali convien comprendere gli Armeni ed i Greci uniti, e su di essi la giurisdizione ecclesiastica è esercitata, quanto al rito latino, dal vescovo di Carlsburg, e, quanto al rito greco, dal vescovo di Fogarasch. Vi sono dei Luterani e dei Calvinisti, i quali hanno i loro sopraintendenti. Sonovi gli Unitari, quelli cioè che non riconoscono che una persona divina,

e finalmente i Greci non uniti ed i Valacchi protetti da un salvacondotto del principe del paese e dipendenti da un vescovo proprio. (4 marc.)

348. *Qual lingua si parla nella Transilvania?* Le principali lingue sono l'ungarese, che si parla dagli Ungari e dagli Szekler, e la tedesca, che si parla dai Sassoni e da altri Tedeschi, abitanti nella Transilvania. Il linguaggio de' Valacchi è un miscuglio di slavo e di corrotto latino. I Greci parlano il greco illirico e gli Armeni il loro idioma asiatico; ma la lingua comune di tutte queste nazioni sembra essere l'ungarese. (4 mar.)

349. *Quali sono i principali fiumi e riviere che bagnano la Transilvania?* Il Samos, il Maros, l'Arangos, il Kakel e l'Alt. (3 marche).

LEZIONE IV.

PAESI MERIDIONALI DELL' IMPERO AUSTRIACO

350. *Quali sono i paesi meridionali dell' impero Austriaco?* Il regno Lombardo-Veneto, il regno Illirico, la Dalmazia con Ragusi e l'Albania. (3 marc.)

IL REGNO LOMBARDO-VENETO

Di questo si parla avanti nella *Geograf. d'Italia.*

IL REGNO D' ILLIRIA

351. *Come si divide il regno d'Illiria e quali sono i suoi confini?* In due governi, il primo che è formato della Carniola e della Carinzia, comprende cinque circoli; le principali sue città

sono Laibach o Lubiana, Neustadt, Klagenfurt e Villach; il secondo, che consiste nel Litorale ed una parte della Croazia, ne contiene quattro, le principali sue città sono Gorizia, Trieste, porto di mare nell'Adriatico, Capo d'Istria, Rovigno, Fiume e Carlstadt. L'Illiria confina all'est col regno Lombardo-Veneto ed il Tirolo, al nord col Salisburghese e la Stiria, all'ouest colla Stiria e la Croazia, al sud col mare Adriatico e la Dalmazia. (8 marche).

352. *Quale religione si professa nell'Illiria?* La cattolica è la dominante, ma in questo regno e principalmente a Trieste trovasi una quantità di Greci, protestanti ed Armeni. La giurisdizione ecclesiastica sui cattolici è esercitata dai vescovi di Gurck, Lavanto, Lubiana, Gradisca, Trieste, Capo d'Istria, Città Nuova, Parenzo e Pola. (4 marc.)

353. *Qual è la lingua che si parla nel regno Illirico?* Si parla principalmente la tedesca e l'italiana; però nella Carinzia e nella Carniola, oltre la tedesca si parla l'idioma vandalico, e nel territorio di Gorizia il dialetto forlano. (4 marc.)

354. *Quali sono i fiumi e le riviere principali che bagnano l'Illiria?* La Drava, la Sava, l'Isonzo, il Gurk, il Lavanto, il Glan, la Laibach e la Cassa. Vi sono anche molti laghi nella Carinzia, come quelli di Weissen, d'Opiach, di Mühlstadt e di Wert: da quest'ultimo fu estratta l'acqua d'un canale che conduce a Klagenfurth; e nella Carniola i laghi di Feldes, di Wöcheir e di Czirnitz, di cui si è già parlato. (4 marche).

LA DALMAZIA CON RAGUSI E L'ALBANIA

355. *Come si dividono questi tre paesi, e quali sono i loro confini?* Si dividono in cinque uffici di circoli, tre de' quali appartengono alla Dalmazia, le cui principali città sono Zara, Sebenico e Spalatro; il circolo di Ragusi è posto in una penisola del mare Adriatico, e prende il nome dalla sua principale città, chiamata Ragusi; evvi anche un'altra città detta Stagno. Sonovi poi diverse isolette adiacenti a questo circolo, la più importante delle quali è Melita. Nel circolo dell'Albania evvi Cattaro, città la più importante dell'Albania austriaca; trovanvisi pure Castelnuovo, Risano e Budua. I confini di tutti questi paesi sono il mare Adriatico, la Croazia e l'impero turco. (8 marche).

356. *Quale religione si professa in queste contrade?* La dominante è la cattolica, e la giurisdizione ecclesiastica vi è esercitata da 3 arcivescovi e 13 vescovi. (3 marche).

357. *Qual è la lingua che vi si parla?* La lingua del paese è slava, ma è mescolata con tante espressioni straniere, e particolarmente italiane, ed ha inoltre nella provincia un carattere proprio per cui non è quasi intesa dalle altre nazioni slave. (3 marche).

358. *Quali sono i fiumi e le riviere principali che bagnano questi paesi?* La Kerka, la Cattina, il Drino e la Narenta. (3 marche).

LEZIONE V.

PAESI SETTENTRIONALI DELL'IMPERO D'AUSTRIA

359. *Quali sono i paesi settentrionali dell'impero Austriaco?* I regni di Gallizia e di Lodomiria e la Bucovina, compresi tutti sotto il nome di regno di Gallizia. (3 marche).

360. *Come si divide la Gallizia e quali sono i suoi confini?* Si divide in 19 circoli cioè: di Lemberg, Mislenitz, Sandetz, Bochnia, Tarnow, Tarlo, Rzeszow, Przemisl, Sanock, Sambor, Zolkiew, Zlosow, Brzezani, Stry, Stanislawow, Kolomea, Tarnopol, Zaleszych e Czernowitz, le cui principali città sono Lemberg, che è pure la capitale del regno: tutte le altre città principali portano il nome stesso di ciascun circolo sunnominato. La Gallizia confina al nord col regno di Polonia, all'est con la Russia e la Moldavia, al sud con l'Ungheria e la Transilvania, ed all'ouest colla Slesia. (10 marc.)

361. *Qual è la religione che si professa nella Gallizia?* La dominante è la cattolica (tra quelli che la professano bisogna annoverarvi i Greci uniti e gli Armeni). Vi sono pure dei protestanti e dei Greci non uniti, e sopra tutto degli Ebrei, il cui numero ascende a più di 160,000. La giurisdizione ecclesiastica sopra i cattolici è esercitata dall'arcivescovo di Lemberg e dal vescovo di Przemisl. A Lemberg vi risiede un arcivescovo degli Armeni ed uno dei Greci: questi ultimi hanno un vescovo a Przemisl, ed i Greci non uniti ne hanno uno a Czernowitz. (5 marc.)

362. *Qual è la lingua che si parla in Gallizia?* La principale è la polacca, che è un dialetto slavo; ma ora vi si parla molto il tedesco ed anche il latino. Nella Bucovina poi si parla specialmente la lingua dei Valacchi. (4 mar.)

363. *Quali sono i principali fiumi e riviere che bagnano la Gallizia?* La Vistola, il San, il Bug, il Dniester, il Prut, il Podhorze, il Siret, la Satschara, la Bistrizza e la Moldava. (4 marc.)

SEZIONE VII.

Geografia dell'Italia.

LEZIONE I.

364. *In quale situazione trovasi l'Italia?* L'Italia è posta tra i 36° 34′ e 47° gradi di latitudine al settentrione (1), ed i 4° e 15′ e 16° 40′ di longitudine all'est di Parigi senza la Savoia, e tra i 3° 14′ e 16° 50′ colla Savoia. (4 marc.)

365. *Qual è la configurazione, l'estensione e la superficie dell'Italia?* L'Italia è una penisola delle più estese della terra, e la sua figura è simile a quella di uno stivale. La lunghezza dell'Italia dall'estremità della Calabria, fino alle montagne d'Aosta, nella Savoia, che se-

(1) La latitudine è calcolata dalla punta più australe della Sicilia, ossia dal capo Passaro fino al Brenner, che separa il Tirolo italiano dal tedesco.

parano questo paese dal Piemonte, è circa di 700 miglia geograf. ital.; ma la sua larghezza è molto disuguale per poterla assegnare con precisione; sotto le Alpi è essa di 400 miglia in circa; dalla foce del Tevere fino ad Ancona è di 136; e nell'estremità della Calabria è di 80 miglia. Tutta la superficie piana dell'Italia è di 96,000 miglia geograf. quadrate in circa: il quinto poco più poco meno occupato dalle isole. (10 marc.)

366. *Quali sono i confini dell'Italia?* I suoi confini formati dalla natura stessa sono: al settentrione la Germania e la Svizzera, dalle quali è separata da un'alta catena di montagne, dette le Alpi; a ponente la Francia, dalla quale è separata pure dalle Alpi, ed il mar Mediterraneo; al mezzogiorno lo stesso mare, ed a levante il mar Adriatico o golfo di Venezia. (6 marche).

367. *Quale lingua si parla in Italia?* La sola lingua italiana. In tutti i paesi d'Italia si parla un dialetto particolare dal popolo, ma dappertutto s'intende e si scrive il buon italiano. (4 marche).

368. *Quale religione si professa in Italia?* La religione degl'Italiani si è la cattolica romana; ma vi sono tollerati tutti quelli che ne professano una diversa, nè sono in conto alcuno molestati, purchè non insultino il culto pubblico. (4 marche).

369. *Qual è la popolazione dell'Italia?* La popolazione dell'Italia, compresevi le isole, ammonta a più di venti milioni d'abitanti. (4 marc.)

370. *Quali sono i mari d'Italia?* Il golfo di Venezia o mare Adriatico, ed il mar Mediterraneo, il quale prende diverse denominazioni dalle terre che bagna. (3 marche).

371. *Quali sono le principali baie o golfi, i capi e stretti dell'Italia?* Le baie sono quelle di Nizza, di Finale, di Savona, della Spezzia, di Lucca, di Livorno, di Piombino, di Genova, di Civitavecchia, di Gaeta, di Napoli, di Reggio, d'Ancona, di Ravenna, di Venezia, di Trieste, ec. I capi principali sono quelli di Piombino, di Circello, di Spartivento, d'Otranto, di monte Gargano, d'Ancona, ec. Lo stretto o faro di Messina trovasi tra l'Italia e la Sicilia. (10 marche).

372. *Quali sono i principali fiumi dell'Italia?* Il Po, che ha un corso circa di 300 miglia, l'Adige, la Brenta, l'Arno, il Tevere, che ha un corso di 160 miglia circa; il Metauro, il Garigliano, il Volturno, ecc. (6 marche).

373. *Quali sono le principali riviere d'Italia?* Il Tanaro, la Doria, il Ticino, l'Adda, l'Oglio, il Mincio, la Formida, ecc. (6 marche).

374. *Quali sono le principali montagne d'Italia?* Le Alpi cogli Appennini. Le Alpi sono una lunga catena di monti che incominciano dalla foce del fiume Varo, nella contea di Nizza, e dopo molti tortuosi giri vanno a finire presso il fiume Arsia, nell'Istria, sul mare Adriatico. Le Alpi sono lunghe circa 700 miglia, e dividono l'Italia dalla Francia, dalla Germania e dalla Svizzera. Queste montagne sono altissime.

Il monte Bianco, in Savoia, ha 2,400 tese di altezza perpendicolare, ossiano 2 miglia e mezzo italiane, sopra la superficie del mare. Gli Appennini sono una catena di montagne che si staccano dalle Alpi nello Stato di Genova, si avanzano a guisa di dorso, lungo la riviera di Genova; indi traversano l'Italia in tutta la sua lunghezza, la dividono in due parti quasi uguali, e vanno a terminare alle due punte del regno di Napoli, nello stretto che lo divide dalla Sicilia, e nell'estremità della terra di Otranto. Il monte Corno o Gran-Sasso d'Italia nel regno di Napoli nell'Abruzzo ulteriore 2.° alto quasi 9000 piedi o 1500 tese circa corrispondenti ad un miglio e tre quinti italiani circa sul livello del mare è il più alto monte di questa catena. (8 marche).

375. *Quali sono i principali vulcani dell' Italia?* I principali vulcani dell'Italia sono il Vesuvio, nel regno di Napoli, ed alla vista di questa città. Esso ha la base di 25 miglia circa, e l'altezza perpendicolare di 3500 piedi corrispondenti circa a braccia 2330 sul livello del mare: l'Etna o Mongibello nell'isola di Sicilia, che occupa una superficie di 155 miglia di circonferenza; la sua altezza si fa ascendere a 10278 piedi o braccia 6800 circa sul livello del mare. (6 marche).

376. *Quali sono i principali laghi dell'Italia?* Il lago Maggiore ossia di Locarno, nell'Italia settentrionale, che ha la lunghezza di

24 miglia, e due miglia e mezzo di larghezza media: in esso si trovano le isole Borromee; il lago di Lugano; il lago di Como, che è lungo 28 miglia, e si unisce a quello di Lecco; il lago di Garda, che si estende in una lunghezza di circa 25 miglia, ed è largo sette miglia; il lago di Perugia, detto una volta Trasimeno, celebre per la rotta datavi da Annibale ai Romani; i laghi di Celano, Valano e Lesina, nel regno di Napoli. (8 marche).

377. *Quali sono le principali isole dell'Italia?* La Sicilia, la Sardegna, la Corsica l'isola di Malta e l'isola d'Elba. Si parlerà in seguito di esse più dettagliatamente. (4 marche).

378. *Come si divide l'Italia?* In tre parti: settentrionale, meridionale e del centro. (3 mar.)

LEZIONE II.

PAESI SETTENTRIONALI DELL'ITALIA

379. *Quali sono i paesi settentrionali dell'Italia?* I regni di Sardegna, e Lombardo-Veneto, i ducati di Parma, Modena e Massa. (3 marc.)

DEL REGNO DI SARDEGNA

380. *A chi appartiene il regno di Sardegna?* Alla real casa di Savoia-Carignano essendosi ora estinto il ramo primogenito della casa di Savoia colla morte del re Carlo Felice accaduta in quest'anno; questo Stato prende il nome dall'isola di Sardegna, di cui è padrona la stessa casa. (3 marche).

381. *Come si divide il regno di Sardegna?* Nel ducato di Savoia, principato di Piemonte, ducati di Genova, Monferrato, ecc.; nel contado di Nizza ed isola di Sardegna. (4 marche).

382. *Quali sono i confini e la superficie del regno di Sardegna?* Questo regno ha la superficie di 21000 miglia geografiche di 60 al grado. Confina col mar Mediterraneo, col gran ducato di Toscana, col ducato di Parma, col regno Lombardo-Veneto, colla Francia e colla Svizzera. (5 marche).

383. *Qual è la popolazione del regno di Sardegna?* La sua popolazione ammonta a 4,300,000 anime; si comprende in questo calcolo la popolazione dell'isola di Sardegna calcolata di oltre 500,000 anime. (4 marche).

Quali sono le sue principali città? Torino, che è la capitale di tutto il regno; Genova, Chambery, Novara, Vercelli, Pinerolo, Vigevano, Saluzzo, Cuneo, Casale, Nizza, Alessandria, Tortona, Mondovì, ecc. (4 marche).

384. *Quali sono i principali fiumi e riviere che bagnano questi paesi?* Il Po, il Tanaro, le due Dore, la Sesia e le Sture. (3 marche).

(*Nella Riviera di Ponente nel Genovesato a poche miglia di distanza da Nizza di Provenza trovasi il principato di Monaco appartenente al principe Onorio Grimaldi sotto la protezione del re di Sardegna. L'estensione di questo paese è di* 38 *miglia quadrate; la sua popolazione di* 6500 *anime. La sua capitale è Monaco posta su di una rupe che sporge in mare. Avvi Mentone altra piccola città*).

DEL REGNO LOMBARDO-VENETO

385. *A chi appartiene il regno Lombardo-Veneto?* All'imperial Casa d'Austria. (2 marc.)

386. *Come si divide il regno Lombardo-Veneto?* In due governi provinciali, che sono separati dal Mincio, e sono composti di 17 province. Il governo di Lombardia risiede a Milano, ed ha nove province; il Veneto risiede a Venezia, ed ha otto province. (4 marche).

387. *Quali sono i confini e la superficie del regno Lombardo-Veneto?* La superficie è di 830 miglia quadrate; 390 delle quali spettano alla Lombardia e 440 alle Province Venete. Al nord confina colla Svizzera, il Tirolo e la Carinzia; all'est coll'Istria e col mare Adriatico; al sud il Po lo divide dagli Stati romani, e dai ducati di Parma e Modena (1); all'ouest confina col regno di Sardegna. (4 marche).

388. *Qual è la popolazione del regno Lombardo-Veneto?* La sua popolazione si calcola più di quattro milioni d'indigeni, che vivono divisi in 39 ben costrutte città, 76 borghi e 2079 villaggi circa. (2 marche).

389. *Quali sono le sue principali città?* Mi-

---

(1) Il regno Lombardo-Veneto posto su la riva sinistra del Po si estende dalla parte di Borgoforte su la riva destra dello stesso fiume ove possiede San-Benedetto, Revere, Suzzara, Gonzaga, ecc. che fanno parte della provincia di Mantova.

lano è le capitale del regno Lombardo, e Venezia del Veneto; Mantova, Cremona, Verona, Padova, Brescia, Bergamo, Como, Vicenza, Pavia, Lodi, Treviso, Udine, ecc. sono le altre principali città. (5 marche).

290. *Quali sono i principali fiumi e riviere che bagnano questi paesi?* Il Po, il Ticino, l'Adda, l'Oglio, il Mincio, l'Adige, la Brenta, la Piave, il Tagliamento, ecc. (4 marche).

DEL DUCATO DI PARMA

391. *A chi appartiene questo ducato?* All'arciduchessa Maria Luigia d'Austria, che lo possiede in piena sovranità dopo il congresso di Vienna. Secondo poi il trattato seguito tra le Potenze Alleate, nel 1817, questo ducato alla morte dell'arciduchessa Maria Luigia, o venendo essa ad essere diversamente collocata, passerà in piena sovranità all'infante don Carlo Lodovico di Spagna, ora duca di Lucca. (4 marc.)

392. *Come si divide questo Stato?* In tre ducati, quello di Parma propriamente detto, di Piacenza e di Guastalla. (2 marche).

393. *Quali sono i confini, l'estensione, la popolazione e le principali città del ducato di Parma?* Al nord confina col regno Lombardo-Veneto; all'est ed al sud col ducato di Modena; all'ouest col regno di Sardegna. La sua superficie quadrata è di 1660 miglia geografiche italiane. La sua popolazione ammonta a 440,000 anime circa. Parma è la capitale del ducato;

Piacenza e Guastalla sono le principali città. (5 marche).

294. *Quali sono i fiumi, riviere o torrenti che bagnano questi paesi?* Il Po, la Trebia, la Parma, la Lenza ed il Taro. Sul Taro e su la Trebia sono stati fabbricati due magnifici ponti utilissimi al paese, che tramanderanno alla posterità il nome dell'augusta sovrana che gli ha fatti costruire. (4 marche).

DEI DUCATI DI MODENA, MASSA E CARRARA

395. *A chi appartengono questi ducati?* Questi ducati, in cui si comprendono quelli di Reggio e Mirandola, appartennero all'estinta antichissima Casa Estense, e sono ora governati dall'arciduca Francesco IV della casa d'Austria-Lorena sotto il titolo di duca di Modena, ecc. (5 marche).

396. *Quali sono i confini, la superficie, la popolazione e le principali città di questi ducati?* Al nord confinano col regno Lombardo-Veneto; all'est collo Stato della Chiesa; al sud col gran ducato di Toscana, ed il ducato di Lucca; all'ouest con Parma. La sua superficie quadrata è di 1571 miglia geografiche italiane. Modena è la capitale di questi ducati, e Reggio, Massa e Carrara sono le principali città. La loro popolazione è di 379,000 anime. (5 marche).

397. *Quali sono i fiumi, riviere o torrenti principali da cui sono bagnati questi paesi?* Il Panaro, la Secchia e la Lenza. (2 marche).

LEZIONE III.

PAESI DEL CENTRO DELL'ITALIA

398. *Quali sono i paesi del centro dell'Italia?* Il gran ducato di Toscana, il ducato di Lucca, lo Stato Pontificio e la repubblica di San-Marino. (3 marche).

IL GRAN DUCATO DI TOSCANA

399. *A chi appartiene il gran ducato di Toscana?* All'arciduca Leopoldo II d'Austria, nipote di S. M. l'imperatore d'Austria. (2 marc.)

400. *Quali sono i confini, l'estensione, la popolazione e le principali città del gran ducato di Toscana?* Confina al nord col ducato di Modena e lo Stato Pontificio; all'est cogli Stati stessi del Papa; al sud ed all'ouest col Mediterraneo, ed al nord-ouest coi ducati di Lucca e Massa. Questo paese ha una superficie di 6324 miglia geografiche ital. La popolazione ammonta circa a 1,275,000 anime. Firenze è la capitale della Toscana, e le principali città sono Pisa, Livorno, Siena e Piombino. (6 marche).

401. *Quali sono i fiumi e riviere principali che bagnano questo paese?* L'Arno e l'Ombrone. (2 marche).

IL DUCATO DI LUCCA

403. *A chi appartiene questo ducato?* All'infante di Spagna Carlo Lodovico di Borbone,

figlio del fu re d'Etruria. All'estinzione della sua casa o per diverso collocamento dello stesso principe, secondo il già citato trattato del 1817, il ducato di Lucca sarà unito al gran ducato di Toscana. Questo sovrano, oltre il ducato di Lucca, gode d'una rendita annuale di franchi 500,000 che gli vengono pagati dall'Austria e dalla Toscana.

403. *Quali sono i confini, l'estensione la popolazione e le principali città di questo ducato*? Questo Stato confina al nord con quello di Massa, all'est ed al sud colla Toscana, ed all'ouest col Mediterraneo. La sua superficie è di 312 miglia quadrate. La sua popolazione ammonta a 143,000 anime circa. La città capitale e puossi dir sola è Lucca. In questo paese vi sono dei bagni eccellentissimi. (4 marche).

404. *Quali sono i fiumi e riviere che bagnano questo paese*? Il Serchio è il solo che meriti qualche osservazione. (2 marche).

STATO PONTIFICIO

405. *A chi appartiene questo Stato*? Il Papa, capo della chiesa, ne è il sovrano temporale. (3 marche).

406. *Come si dividono gli Stati del Papa*? In Campagna di Roma e diciassette delegazioni, cioè di Frosinone, Rieti, Perugia, Spoleto, Camerino, Urbino e Pesaro, Forlì, Macerata, Fermo, Ascoli, Ancona, Bologna, Ravenna, Ferrara, e Benevento nel regno di Napoli, Viterbo e Civitavecchia. (4 marche).

407. *Quali sono i confini, la superficie e la popolazione degli Stati del Papa?* Al nord confinano col Po che li divide dal regno Lombardo-Veneto, al sud col regno delle due Sicilie, all'est collo stesso regno e col mar Adriatico, all'ouest colla Toscana e Modena. La sua superficie è di 13,000 miglia geografiche. La popolazione è di 2,509,000 anime circa. (5 marche).

408. *Quali sono le principali città degli Stati papali?* Roma, una volta capitale di quasi tutto il mondo conosciuto dagli antichi, ora di tutto il mondo cattolico, è la capitale di questi Stati e la residenza del Papa. Essa è posta sul Tevere. Vi sono inoltre molte città meritevoli di considerazione, come Bologna, Ravenna, Perugia, Ferrara, Ancona, Macerata, Rimini, ecc. (4 marche).

409. *Quali sono i principali fiumi e riviere che bagnano questi paesi?* Il Tevere, il Rubicone, il Metauro, il Reno, la Foglia, il Ronco, il Montone, il Musone, il Tronto, ecc. (4 marc.)

(*Il papa possiede inoltre il principato di Ponte Corvo posto come Benevento nel regno di Napoli. Ponte Corvo che conta* 5 *mila anime trovasi nella Terra di Lavoro; Benevento che ne conta* 20 *mila è posto nel Principato ulteriore*).

REPUBBLICA DI SAN-MARINO

410. *Cos'è la repubblica di San-Marino?* Negli Stati papali e precisamente nell'ex ducato d'Urbino, evvi una repubblica, la sola esistente

in Italia, detta la repubblica di San-Marino, sotto la protezione del governo del Papa. Questa repubblica, che ha una superficie quadrata di 17 miglia geografiche, consiste in una piccola, ma forte città costruita sopra un monte. Fu fondata nel V secolo da un eremita che le diede il nome. Si venera nella chiesa principale il sepolcro e la statua di san Marino. La popolazione di questa repubblica ammonta a 7000 anime, seimila delle quali abitano la città, e mille abitano alcuni villaggi posti su qualche alta montagna che circonda quella ove è la città stessa. (6 marche).

LEZIONE IV.

PAESI MERIDIONALI DELL' ITALIA

411. *Quali sono i paesi merdionali dell'Italia?* Il regno di Napoli o delle due Sicilie. (2 marc.)

412. *A chi appartiene il regno di Napoli?* Alla casa di Borbone. Il re attuale è Ferdinando II. (2 marche).

413. *Come si divide il regno di Napoli?* In 15 province sul continente. Quella di Napoli, Abbruzzo ultra primo, Abbruzzo ultra secondo, Abbruzzo citra, Terra di Lavoro, provincia di Molise o Sannio, Principato citra, Principato ultra, Capitanata, Terra di Bari, Terra di Otranto ossia di Lecce, Basilicata, Calabria citra, Calabria ultra prima, Calabria ultra seconda, oltre alcune piccole isole adiacenti al continente ed aggragate alle dette province, e l'isola di Sicilia, di cui si parlerà a parte. (4 marche).

414. *Quali sono i confini, la superficie e la popolazione di questo regno?* Confina al nord e all'ouest cogli Stati del Papa e coi mari Mediterraneo, Adriatico e Jonio, da tutte le parti. La sua superficie è di 32,100 miglia quadrate; ha 300 miglia di lunghezza e 80 di larghezza media. La sua popolazione ammonta a 7,300,000 anime. Al solo continente appartengono 23,000 miglia quadrate con 5,500,000 abitanti circa. (5 marc.)

415. *Quali sono le principali città del regno di Napoli?* Napoli, capitale di tutto il regno; Teramo, Capua, Gaeta, Aquila, Chieti, Salerno, Reggio ed Otranto sono le principali città. (4 marche).

416. *Quali sono i principali fiumi e riviere che bagnano questo paese?* Il Garigliano ed il Volturno che si gettano nel Mediterraneo. Il Basiento ed il Bradano nel golfo di Taranto, diramazione del mar Jonio; il Sangro e la Pescara nell'Adriatico. (3 marche).

LEZIONE V.

DELLE PRINCIPALI ISOLE D'ITALIA

DELLA SICILIA

417. *A chi appartiene la Sicilia?* La Sicilia, che porta il titolo di regno, appartiene al regno di Napoli detto anche regno delle due Sicilie. Essa è divisa dalle rive del Napoletano,

dallo stretto o faro di Messina largo circa tre miglia. (3 marche).

418. *Qual è la situazione, estensione e popolazione della Sicilia?* La Sicilia, la più grande isola del Mediterraneo, è posta tra i gradi 36° 40′ e 38° 20′ di latitudine, ed i gradi 10° e 13° 25′ di longitudine all'est del meridiano di Parigi. La lunghezza è circa di 180 miglia, e ne ha circa 108 di larghezza. La sua popolazione ammonta a 1,800,000 anime circa. (6 marche).

419. *Quali sono le principali città ed i fiumi della Sicilia?* Palermo è la capitale dell'isola, e le principali città sono Messina, Siracusa. I principali fiumi della Sicilia sono la Giaretta che sbocca nel mar Jonio, il Salso nel Mediterraneo. Si trovano nella Sicilia molte acque minerali calde e fredde. (4 marche).

DELL'ISOLA DI SARDEGNA

420. *A chi appartiene la Sardegna?* La Sardegna, che ha titolo di regno, appartiene alla real casa di Savoia. (2 marche).

421. *Qual è la situazione, estensione e popolazione dell'isola di Sardegna?* La Sardegna, posta nel punto centrale del Mediterraneo, in eguale distanza dell'Affrica e del continente d'Italia, separata dall'isola della Corsica dallo stretto di Bonifazio, largo nove miglia sta tra il grado 38° 57′ e 41° 20′ di latitudine, e tra il grado 5° 50′ e 7° 30′ di longitudine all'est del meridiano di Parigi. La sua lunghezza dal

sud al nord è di 175 miglia geografiche, e la sua larghezza dall'est all'ouest è di 100 miglia. La sua circonferenza è di 700 miglia. La popolazione ammonta a più di 500,000 anime circa. (6 marche).

422. *Quali sono le principali città e fiumi o riviere dell'isola di Sardegna?* Cagliari, capitale dell'isola, e Sassari altra principale città. I fiumi principali sono il Flumendosa e l'Oristano. (3 marche).

ISOLA DI CORSICA

423. *A chi appartiene la Corsica?* Alla Francia. (2 marche).

Qual è la situazione, estensione e popolazione della Corsica? La Corsica, posta al sud della riviera di Genova, da cui è distante circa 100 miglia, è lunga 140 quasi dal nord al sud; la sua larghezza dall'ouest all'est varia da 30, 45 fino a 66 miglia. Si calcola all'incirca a 400 miglia la sua circonferenza. Trovasi tra i gradi 41 e 43 di latitudine, e tra il sesto e l'ottavo grado di longitudine est del meridiano di Parigi. La sua popolazione ammonta a quasi 200,000 anime. (6 marche).

424. *Quali sono le principali città della Corsica?* Bastia ed Aiaccio, quest'ultima ne è anche la capitale. (3 marche).

ISOLA D'ELBA

425. *A chi appartiene l'isola d'Elba?* Al gran duca di Toscana. (2 marche).

426. *Qual è la situazione, popolazione ed*

estensione dell' isola d' Elba? Quest' isola, quasi tutta montuosa, trovasi vicino alle rive della Toscana. La sua circonferenza è di 78 miglia circa; la popolazione di 14,000 anime. (4 marc.)

427. *Quali città sonovi nell' isola d' Elba?* Porto-Ferraio e Porto-Longone. (2 marche).

ISOLA DI MALTA

428. *A chi appartiene l' isola di Malta?* All' Inghilterra. (2 marche).

429. *Qual è la città principale, la situazione, la popolazione e l' estensione di quest' isola?* Quest' isola è posta tra l' Affrica e la Sicilia. La sua lunghezza è di 20 miglia, la larghezza di 12, e la circonferenza di 60; la sua popolazione ammonta a 160,000 anime, compresa l' isola di Gozo, che le sta vicino. La Valletta è la città principale. (4 marche).

(*Alla Lezione XV, Sezione prima si è detto che le repubbliche d' Europa sono due, dobbiamo però parlare d' una terza di cui pochi libri di geografia fanno cenno. Questa è la repubblica di Andorra che trovasi in una vallata dei Pirenei. Essa prende il nome da Andorra borgo di Francia nel paese di Foix dipartimento dell' Arriège anticamente provincia di Linguadoca. Questa repubblica che esiste da molto tempo sotto la protezione della Francia e della Spagna ha una superficie di 144 miglia quadrate ital., una popolazione di 15000 anime. È divisa in 6 comuni di Camillo, Encamp, Ordino, la Massana-la-Vecchia, Andorra-la-Vecchia e San Giuliano. In Andorra si unisce il consiglio generale della vallata, composto di 24 membri a vita, quattro di ciascun comune. Questo paese è montuoso e poco fertile, e le montagne sono coperte per la maggior parte di foreste di pini*).

TAVOLA

INDICANTE LA POPOLAZIONE DELLE QUATTRO PARTI DEL MONDO, DELLE TERRE ANTARTICHE O OCEANICHE, DE' PRINCIPALI STATI D'EUROPA, NON CHE DELLE PIU' GRANDI CITTA' DEL MONDO, ACCENNANDO NELLO STESSO TEMPO LA SITUAZIONE GEOGRAFICA DI QUESTE ULTIME.

Secondo i più recenti calcoli la popolazione dell'intero nostro globo ripartito in continenti si fa ammontare per approssimazione come segue:

Europa	Milioni	227,700,000
Asia	»	390,000,000
Affrica	»	60,000,000
America	»	40,000,000
Le Isole nuovamente scoperte, che non sono ancora state classificate, dichiarandole unite piuttosto ad una che ad altra delle quattro parti del mondo, nominate Terre Antartiche, Australi e Meridionali o Oceaniche	»	20,300,000
Totale	Milioni	738,000,000

La popolazione de' principali Stati dell'Europa si calcola per approssimazione come appresso:

Impero d'Austria	Milioni	31,000,000
Impero di Russia, in Europa 52,000,000		61,000,000
—— Regno di Polonia . . . 4,000,000		
—— in Asia e America . . . 5,000,000		
Regno d'Inghilterra, in Europa 23,000,000		143,000,000
—— in Asia, Affrica ed America tra sudditi, tributari o protetti . . . 120,000,000		

Regno di Prussia . . . . . Milioni 12,464,000
Svezia e Norvegia (Regni) . . . . . » 3,900,000
Regno di Danimarca . . . . . » 1,950,000
Tutti i Regni, Gran Ducati, Ducati, Principati e Città Libere formanti la Confederazione Germanica (1). . . . . » 12,000,000
Regno di Francia in Europa 32,000,000 }
—— in Asia, Affrica e America . . . . . 554,000 } 32,554,000
Confederazione Elvetica o Svizzera . . » 1,950,000
Regno de' Paesi-Bassi . . . . . » 6,100,000
(In quest' anno il regno de' Paesi-Bassi si è diviso in due Stati. Il Belgio eretto in monarchia costituzionale il cui monarca non è ancora scelto; e l' Olanda su cui continua a regnare costituzionalmente la famiglia di Orange).
I diversi Regni e Principati d'Italia comprese le Isole . . . . . » 21,000,000
Regno della Spagna, in Europa . . . » 14,000,000
(Dopo i cambiamenti avvenuti in America di cui si è parlato alla Lezione X, Sezione IV *non si può più calcolare qual popolazione le rimarrà su quel continente)*.
Regno di Portogallo . . . . . » 4,000,000
(Alla Lezione X, Sezione IV *si è detto che il Brasile separatosi dal Portogallo aveva scelto per imperatore D. Pedro I della casa di Braganza. Intanto che si stava terminando la stampa di questo libro D. Pedro I in conseguenza di torbidi nati al Brasile ha abdicato nel 7 aprile del corrente anno in favore di suo figlio S. A. I. D. Pedro d'Alcantara nato nel mese di*

(1) In questi calcoli non sono compresi quegli Stati dei Paesi-Bassi, della Danimarca, della Prussia e dell'Austria che fan parte della Confederazione coi quali essa forma una popolazione di trenta milioni.

dicembre del 1825, che è stato riconosciuto dai Brasiliani per sovrano col titolo di re e sotto il nome di Pedro II. Fu nominata immediatamente una reggenza composta di membri presi nel seno della Camera. L' ex-imperatore si è ritirato in Europa).

La Turchia o Impero Ottomano,
in Europa . . . . . 10,000,000 } 26,000,000
Idem, in Asia ed Affrica 16,000,000 }
(*Nella popolazione della* Turchia Europea *si comprende anche la greca dei paesi ribellati di cui si è parlato alla* Lez. XIII, Sez. I).

Popolazione e situazione geografica delle principali città del mondo.

CITTA'	STATI	POPOLAZIONE	LONGITUDINE		LATITUDIN.	
			GRADI	MINUTI	GRADI	MINUTI
Abo	Finlandia . . .	12200	39	59	60	27
Angers	Francia	30000	17	6	47	28
Agraam	Illiria	29000	33	46	45	48
Aia	Paesi-Bassi . . .	43000	21	45	52	4
Aix	Francia	23000				
Aquisgrana . .	Prussia	35000	23	55	51	55
Aleppo (1) . .	Turchia asiatica	160000	54	50	36	11
Alessandria . .	Egitto	17000	47	36	31	13
Alessandria . .	Italia	16000	26	12	44	55

(1) Dal 1822 in poi questa città è stata quasi interamente distrutta dal terremoto, come lo è stato Abo dal fuoco nel 1823.

CITTA'	STATI	POPOLAZIONE	LONGITUDINE		LATITUDIN.	
			GRADI	MINUTI	GRADI	MINUTI
Algeri	Affrica	50000	20	7	36	49
Amburgo . . .	Germania . . .	112000	25	36	52	42
Amiens	Francia	42000	20	2	49	34
Amsterdam . .	Paesi-Bassi . . .	201000	22	30	52	22
Ancona	Italia	30000	31	9	43	38
Annover. . . .	Germania . . .	24000	27	40	52	25
Anversa	Paesi-Bassi . . .	65000	22	4	51	13
Aquila.	Italia	13000	31	10	42	20
Arcangelo . . .	Russia	9000	56	39	64	34
Astracan . . .	*Idem*	40000	68	00	44	15
Augusta	Baviera	34000	28	28	48	24
Avana	America settent.	26000	296	15	11	52
Avignone . . .	Francia	31000	22	29	43	57
Bagdad	Turchia asiatica	90000	62	5	23	20
Barcellona . .	Spagna	120000	19	52	41	26
Basilea	Svizzera	16000	25	15	47	65
Bassano	Italia	10000	34	18	45	42
Bastia	Corsica, isola .	11300	27	12	42	35
Batavia	Asia	130000	124	30	6	12
Belgrado . . .	Turchia europ.	30000	38	30	45	00
Benevento . . .	Italia	14000	32	27	41	6
Bergamo . . .	*Idem*	24000	27	19	45	42
Berlino	Prussia	220000	31	3	52	32
Berna	Svizzera	18000	25	20	47	2
Besanzone. . .	Francia.	29000	23	44	47	13
Birmingham. .	Inghilterra . . .	107000	15	50	52	30
Bristoll	*Idem*	88000	15	00	51	27
Brunswich . .	Prussia	36000	28	15	52	19
Bologna	Italia	64000	29	2	44	30
Bombay	Indie orientali .	160000	90	30	19	9

CITTA'	STATI	POPOLAZIONE	LONGITUDINE		LATITUDIN.	
			GRADI	MINUTI	GRADI	MINUTI
Bordeaux . . .	Francia	94000	16	46	44	50
Boston	America setten.	62000	307	3	42	25
Boulogne . . .	Francia	19000	19	17	50	44
Brema	Germania . . .	37000	27	20	53	14
Brescia	Italia	31000	27	53	45	33
Breslavia . . .	Slesia	82000	34	48	51	10
Brest	Francia , . . .	26000	13	11	48	23
Bruges	Paesi-Bassi . . .	36000	20	47	51	11
Brusselles . . .	*Idem*	100000	22	2	50	51
Buda	Ungheria	33000	36	42	47	30
Bukarest . . .	Valacchia . . .	80000	43	38	44	26
Buenos Ayres .	America merid.	80000	319	34	34	36
Cadice	Spagna	71000	11	23	36	32
Caen	Francia	38000	17	18	49	11
Cagliari	Italia	25000	26	55	39	20
Cairo	Egitto	260000	48	59	30	2
Calcutta . . .	India	500000	106	8	22	35
Capo Buona Speranza . .	Affrica	18000	36	4	33	55
Caracas	America	35000	312	35	9	40
Cartagena . . .	America merid.	25000	301	57	10	25
Cartagena . . .	Spagna	18000	16	31	37	37
Cefalonia . . .	Isole Joniche. .	5000	38	20	38	30
Cherburgo . .	Spagna	17000	16	2	49	38
Chioggia . . .	Italia	21000	39	00	45	17
Clermont-Ferrand	Francia	30000	20	45	45	46
Coblenza . . .	Germania . . .	15000	25	8	50	24
Colonia	*Idem*	64000	24	35	50	55
Como	Italia	15000	26	45	45	48

CITTA'	STATI	POPOLAZIONE	LONGITUDINE		LATITUDIN.	
			GRADI	MINUTI	GRADI	MINUTI
Copenaghen . .	Danimarca . . .	109000	30	6	55	41
Corfù	Isole Joniche. .	14000	37	48	39	40
Cork	Irlanda	101000	9	10	51	48
Costantinopoli	Turchia europ.	600000	48	35	41	2
Cracovia . . .	Polonia	25000	37	30	50	10
Cremona . . .	Italia	26000	47	41	45	8
Cristiania . . .	Norvegia	20000	27	34	59	24
Cronstadt . . .	Russia	30000	47	59	59	56
Cumana	America merid.	20000	314	00	9	46
Cuneo	Italia	9000	25	15	44	25
Damasco . . .	Siria	80000	54	53	52	35
Damietta . . .	Egitto	20000	50	00	31	00
Danzica	Prussia	54000	36	19	54	21
Diarbekir . . .	Asia	50000	57	35	36	58
Digione	Francia	24000	22	43	47	19
Douvres	Inghilterra . . .	4000	18	59	51	8
Dresda	Sassonia	70000	31	16	51	3
Dublino	Irlanda	227000	11	21	53	21
Dunkerque . .	Francia	25000	20	3	51	2
Edimburgo . .	Scozia	138000	14	30	55	58
Elbing	Prussia	19000	37	40	54	12
Erfurt	Germania . . .	21000	28	55	51	4
Erlau	Ungheria	17000	38	2	47	54
Faenza	Italia	15000	29	32	44	17
Fernambuco .	Brasile	60000	342	30	8	15
Ferrara	Italia	24000	29	16	44	50
Ferrol	Spagna	30000	10	24	43	24
Fez	Marocco	100000	13	50	33	40
Filadelfia . . .	America settent.	130000	302	24	39	57
Firenze	Italia	80000	29	32	44	17

CITTA'	STATI	POPOLAZIONE	LONGITUDINE		LATITUDIN.	
			GRADI	MINUTI	GRADI	MINUTI
Foggia	Italia	21000	33	15	41	28
Fontainebleau .	Francia	9000	20	13	48	25
Forlì	Italia	16000	35	10	44	17
Franc. sul Meno	Germania . . .	48000	26	16	50	8
Gand	Paesi-Bassi . .	70000	21	27	51	3
Genova	Italia	80000	26	38	44	25
Gerusalemme .	Asia	40000	52	52	31	50
Gibilterra . . .	Spagna	15000	12	35	36	00
Ginevra	Svizzera	25000	23	49	46	12
Glascov	Scozia	147000	13	36	56	20
Gothenburg . .	Svezia	21000	29	38	57	42
Granata	Spagna	80000	4	46	36	56
Gratz	Austria	34000	34	00	47	30
Grenoble . . .	Francia	23000	23	31	45	11
Groninga . . .	Olanda	24000	24	7	53	15
Guastalla . . .	Italia	6000	28	19	44	55
Harlem	Paesi-Bassi . .	20000	22	5	52	23
Havre de Grâce	Francia	26000	17	40	49	29
Hispahan . . .	Persia	200000	69	30	32	25
Halbertstadt .	Germania . . .	13000	29	40	52	6
Imola	Italia	8000	29	21	44	22
Insprug	Tirolo	11000	29	16	47	15
Jedo	Giapone . . .	1300000	177	45	36	14
Jassy	Moldavia . . .	40000	44	55	47	00
Königsberg . .	Prussia	64000	38	31	54	53
Laval	Francia	15000	16	45	48	4
Leida	Paesi-Bassi . .	29000	22	7	55	8
Lemberga . . .	Gallizia	52000	41	42	49	51
Liegi	Paesi-Bassi . .	49000	26	7	50	40
Lilla	Francia	70000	20	37	50	38

CITTA'	STATI	POPOLAZIONE	LONGITUDINE		LATITUDIN.	
			GRADI	MINUTI	GRADI	MINUTI
Lima	America merid.	80000	300	51	12	1
Limoges	Francia	26000	18	57	45	48
Lione	*Idem*	146000	22	29	45	46
Lipari	Italia	7000	33	00	38	55
Lipsia.	Sassonia . . .	40000	30	2	51	20
Liverpool . . .	Inghilterra . .	135000	14	47	53	28
Lisbona	Portogallo . .	260000	8	31	38	42
Livorno	Italia	66000	27	57	43	33
Lodi	*Idem*	18000	27	10	45	19
Londra	Inghilterra . .	1350000	17	34	51	31
Lovanio. . . .	Paesi-Bassi . .	25000	22	20	50	50
Lubiana	Illiria	10000	32	22	46	20
Madrid	Spagna	200000	13	58	40	25
Magdeburgo . .	Germania . . .	36000	34	5	52	20
Magonza . . .	*Idem*	25000	25	22	49	54
Manchester . .	Inghilterra . .	164000	15	25	53	20
Mantova . . .	Italia	25000	28	27	45	9
Marsiglia . . .	Francia	116000	23	2	43	28
Mecca	Asia	18000	58	30	21	45
Medina	*Idem*	8000	57	30	25	00
Messina	Italia	43000	33	48	38	21
Metz	Francia	45000	23	43	49	7
Milano (1) . .	Italia	151000	41	24	46	39
Mocka	Asia	18000	62	00	13	15
Modena	Italia	25000	29	19	44	34
Monaco	Baviera	70000	29	14	48	8

(1) Si comprendono in questo calcolo oltre i nazionali e nazionalizzati, in numero di 130,000 circa, gli esteri che esercitano mestieri, professioni, coltivano scienze, ecc. che hanno domicilio fisso in Milano da maggior o minor tempo

CITTA'	STATI	POPOLAZIONE	LONGITUDINE		LATITUDIN.	
			GRADI	MINUTI	GRADI	MINUTI
Montauban . .	Francia	25000	19	5	44	2
Montevideo . .	America merid.	16000	58	35	5	34
Montpellier . .	Francia	36000	21	33	43	37
Mosca	Russia	250000	55	13	55	46
Murcia	Spagna	35000	16	59	37	48
Nancy	Francia	29000				
Nankin	China	500000	137	00	32	40
Nantes	Francia	72000	16	56	47	13
Napoli	Italia	374000	31	58	40	50
Nimes	Francia	40000	21	33	43	50
Nizza	Provenza . . .	15000	24	56	43	42
Norimberga . .	Germania . . .	40000	28	44	49	25
Novara	Italia	13000	26	17	45	27
Nuova-Yorck .	Americ. settent.	176000	76	31	40	40
Olmütz	Germania . . .	11000	34	49	49	32
Orléans	Francia	40000	20	26	47	54
Ostenda	Paesi-Bassi . .	10000	20	35	51	14
Otranto	Italia	3000	36	20	40	10
Oxford	Inghilterra . .	12000	16	24	55	46
Padova	Italia	35000	29	33	45	24
Palermo	*Idem*	160000	31	1	38	7
Pamplona . . .	Spagna	14000	16	10	42	40
Parigi	Francia	890000	20	00	48	50
Parma	Italia	36000	28	00	44	48
Pavia	*Idem*	21000	26	49	45	11
Pekin	China	1300000	134	8	39	59
Perugia	Italia	30000	30	2	43	7
Pest	Ungheria . . .	59000	36	46	47	28
Piacenza . . .	Italia	28000	27	22	45	3
Pietroburgo . .	Russia	320000	47	59	59	56

CITTA'	STATI	POPOLAZIONE	LONGITUDINE		LATITUDIN.	
			GRADI	MINUTI	GRADI	MINUTI
Pisa	Italia	20000	28	3	43	43
Plimouth . . .	Inghilterra . . .	61000	13	30	50	22
Poitiers	Francia	22000	17	47	46	34
Portsmouth . .	Inghilterra . . .	41000	16	30	50	48
Posen	Polonia	25000	35	8	52	25
Potosi	America merid.	11000	313	00	20	40
Praga	Boemia	95000	32	5	50	5
Presburgo . . .	Ungheria	41000	35	15	48	13
Quedlimburgo	Germania . . .	10000	29	6	51	18
Quito	America merid.	70000	299	45	13	17
Ragusi	Dalmazia	6000	36	00	42	48
Ratisbona . . .	Baviera	26000	29	46	48	56
Ravenna . . .	Italia	24000	29	51	44	25
Reggio di Mod.	*Idem*	18000	28	42	44	43
Reims	Francia	35000	21	43	49	15
Rennes	*Idem*	30000	15	58	48	6
Riga	Livonia	36000	41	18	56	56
Rio Janeiro . .	Brasile	140000	334	22	22	54
Rimini	Italia	10000	30	13	44	4
Roano	Francia	90000	18	37	49	28
Rochelle (la) .	*Idem*	28000	16	29	46	10
Roma	Italia	154000	30	8	41	54
Rosetta	Egitto	15000	59	10	31	10
Roterdam . . .	Paesi-Bassi . . .	66000	22	22	55	56
Rovigo	Italia	7000	29	45	45	10
Salisburgo . .	Germania . . .	13000	30	40	37	42
Salonichi . . .	Turchia asiatica	80000	40	40	40	41
San-Jago . . .	America merid.	60000	308	00	33	40
San-Marino . .	Italia	7000	30	3	43	58
Saragozza . . .	Spagna	45000	16	57	41	47

CITTA'	STATI	POPOLAZIONE	LONGITUDINE		LATITUDIN.	
			GRADI	MINUTI	GRADI	MINUTI
Scutari	Turchia europea	20000	17	3	42	30
Scutari	Turchia asiatica	50000	46	40	41	40
Siena	Italia	18000	28	50	43	2
Sinigalia . . .	*Idem*	9000	30	52	43	43
Siviglia	Spagna	91000	11	22	37	36
Smirne	Turchia asiatica	130000	44	47	38	28
Smolensko . .	Russia	13000	50	38	54	52
Sofia	Turchia	50000	41	28	33	22
Stettino	Prussia	26000	23	33	53	27
Stokolm	Svezia	80000	35	44	59	21
Strasburgo . .	Francia	50000	26	22	48	36
Stralsunda . .	Pomerania sved.	16000	31	12	54	19
Stuttgard . . .	Germania . . .	32000	26	45	48	50
Teflis	Russia asiatica .	33000	63	50	43	3
Temeswar . . .	Ungheria	14000	39	10	45	58
Tobolsk	Siberia	25000	86	3	58	13
Tolone	Francia	30000	23	35	47	7
Tolosa	Spagna	10000	15	30	43	10
Tolosa	Francia	70000	19	6	43	30
Torino	Italia	114000	25	20	45	4
Tournay . . .	Paesi-Bassi . . .	24000	21	3	50	36
Tours	Francia	20000	18	13	47	24
Trebisonda . .	Turchia asiatica	40000	57	00	41	3
Trento	Italia	14000	28	36	46	0
Treviso	*Idem*	15000	29	48	45	44
Trieste	Illiria	36000	31	25	45	35
Tripoli	Affrica	15000	30	37	30	54
Tripolizza . .	Turchia europea	30000	20	00	37	35
Troies	Francia.	24000	21	32	48	15
Tropau	Slesia austriaca	9000	35	45	50	40

CITTA'	STATI	POPOLAZIONE	LONGITUDINE		LATITUDIN.	
			GRADI	MINUTI	GRADI	MINUTI
Tunisi	Affrica	100000	28	26	36	40
Udine	Italia	17000	30	48	43	12
Ulma	Germania . . .	11000	27	45	48	24
Upsal	Svezia	5000	35	9	59	52
Usedom	Prussia	17000	38	30	53	47
Utrecht	Paesi-Bassi . . .	36000	22	26	52	50
Valenza	Spagna	66000	16	46	34	30
Varsavia . . .	Polonia	126000	38	42	52	15
Venezia	Italia	101000	30	1	45	26
Vercelli	*Idem*	16000	25	48	45	19
Verdun	Francia	16000	12	56	49	9
Verona	Italia	48000	28	40	45	26
Versailles . . .	Francia	30000	19	51	48	48
Vicenza	Italia	19000	29	10	45	30
Vienna	Austria	300000	34	3	48	13
Vienna	Francia	14000				
Viterbo	Italia	13000	29	45	42	25
Wasinghton .	America settent.	12000	79	50	38	53
Wilna	Polonia	25000	42	56	54	41
Wirzburgo . .	Germania . . .	20000	28	15	55	53
York	Inghilterra . . .	39000	16	34	53	58
Zante	Isole Joniche . .	19000	36	55	37	56
Zara	Dalmazia	7000	38	20	44	28
Zurigo	Svizzera	10000	26	52	47	22

UNIVERSITY OF ILLINOIS-URBANA
3 0112 104203754